模块整体感悟

模块知识梳理

贯彻整体认知原则和学科思想

随着人类社会经济文化的长足发展，社会生活水平从温饱到小康，从小康到富裕，旅游活动日趋大众化。现代社会的旅游活动已不再是单纯的消费活动，而成为提高人们身心素质、实现劳动力再生产的重要活动。旅游业作为“无烟产业”，在转变经济增长模式，实现社会生产、生活结构调整的过程中，其重要性与日俱增。作为“朝阳产业”，旅游业自身的发展也存在各种新问题需要研究。据世界旅游组织预测，我国将在 2020 年成为世界最大的旅游目的地国家，并在 2050 年左右成为世界最大的旅游客源地国家。普及旅游教育已成为实现社会可持续发展的重要措施。

本模块融知能与情感、兴趣与审美于一体，全面体现高中地理的课程目标，对同学们产生地理学习兴趣，养成旅游爱好，提升野外实践能力，培养探索精神，锻炼健康的体魄，都有着重要作用。

本模块知识体系如下图所示。

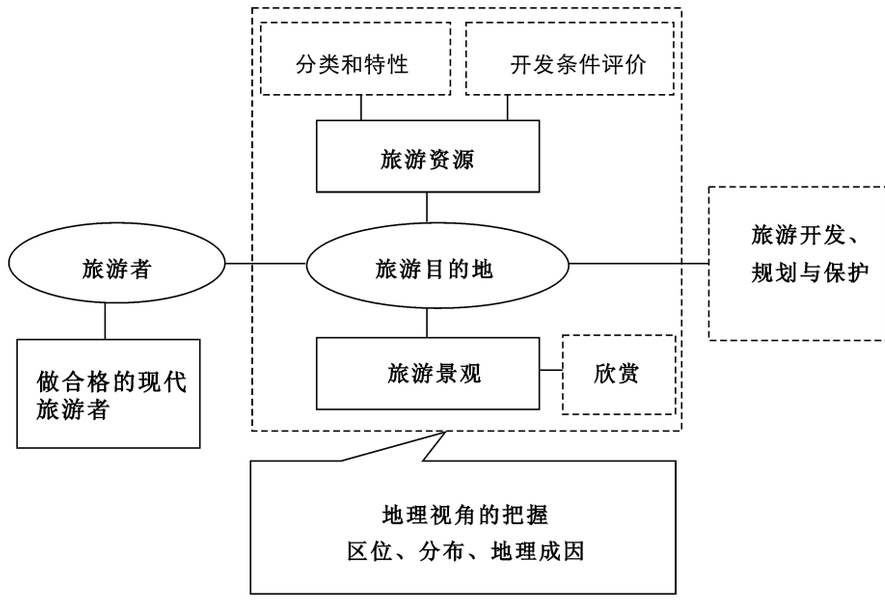

学法点拨

贯彻整体认知原则和学科思想

1. 旅游地理的综合性比地理学本身更强，尤其体现在旅游规划和旅游景观欣赏上，不仅需要考虑自然和人文环境，还要考虑其历史文化积淀，是一个多维的整体。所以，同学们在学习的时候一定要综合地看待问题，把环境—社会系统或自然—人文现象联系起来。

2. 把握旅游资源的特性，注意动态观察各要素和系统的变化以及时间和空间尺度的变化，处理好旅游与人类活动的关系。

3. 一定要充分了解教材的体系结构，处理好各板块之间的关系。

正文：必须掌握的基本概念、基本原理、基本理论和景点阐述。

阅读：侧重对景点的介绍，知识的拓展。

案例：对概念、原理、道理的诠释，用事实说话。

活动：思考——侧重练习、填表、填图；实践——侧重参与性；探究——侧重解析、认识、概括。

4. 充分利用身边的、生活中比较熟悉的旅游资源，结合相关图片、视频，亲自了解与感知，进而作出准确的判断、解析与评价。

5. 学会自己整理、设计和模拟旅游活动，尽量创造过程、享受过程，亲自体验和感悟，努力培养学习兴趣。例如：旅游景观的例子可以是自己亲身游览的，也可以是通过各种媒体间接观赏的，旅游路线是自己设计的等。

6. 倡导自主学习、探究学习，开展地理观测、地理考察、地理调查等实践活动。

第一章　旅游和旅游资源

★ 本章学习导航

先行一步，步步先行

内容概要　学前早知道，学后更知道

旅游是人类社会经济发展到一定阶段的产物。21 世纪，随着科学技术的日新月异和生产力的迅猛发展，旅游资源日益成为全人类的共同财富，旅游活动也越来越多地成为人们日常生活的重要组成部分。本章教材是学习旅游地理的开篇，要想学好旅游地理，就必须弄清楚旅游和旅游资源。通过学习，知道什么是旅游，什么是旅游资源，旅游资源的形成和分布是怎样的，才能为后面内容的学习奠定基础，才能对旅游业与区域经济发展的关系、旅游资源的评价、旅游环境的保护有一定的认识，才能结合实际探讨文明旅游的相关问题。本章内容共分三部分：旅游概述、旅游资源、旅游资源的形成和分布。

点击《课标》　学业评价的标准，考试命题的依据

节	标准	活动建议
旅游概述	●阐明旅游业的发展对社会、经济、文化的作用。 ●简述旅游资源的内涵，运用资料说明旅游资源的多样性。 ●比较自然旅游资源与人文旅游资源的区别。 ●运用资料，描述若干中外著名旅游景区的景观特点，并从地理角度说明其形成原因。	●收集世界和中国旅游景区的各种资料，在班级进行展示交流。
旅游资源		
旅游资源的形成和分布		

学法指导　学海无涯，妙法为舟

1. 通过网络搜索、报刊查阅和调查访谈等形式，收集有关旅游活动的案例，了解旅游业的发展历程，总结现代旅游的特点，明确旅游者、旅游资源、旅游服务业是构成现代旅游活动中互相依存、互相制约的三个基本要素。

2. 通过网络或查阅文献，了解旅游资源的分类，选取具有代表性的自然旅游资源与人文旅游资源，比较二者的差别。

3. 收集资料，了解不同旅游景区的特点，从地理课程的地域性和地理环境的整体性角度分析它们形成的原因。

第一节　旅游概述

板块一　提出问题　引领目标

导入问题，直指课时重点

世界那么大，我想去看看。谈到旅游，每个人都有一个或多个梦想！有的想到太空旅行，有的想去南极探险，有的想周游世界……这些都是现代旅游的一部分。

20 世纪 50 年代后，现代旅游以前所未有的速度向前发展，简述其原因。

板块二　自学思疑　初探问题

尊重认知规律，亲历感悟知识生成

问题呈现

重点问题，统领性的问题，直指学习目标的问题

【问题一】　旅游是人们在社会文化生活中的一种消闲性活动。旅游者、旅游资源、旅游服务业构成了现代旅游活动中互相依存、互相制约的三个基本要素。填表，了解旅游活动的三个基本要素。

要素	范围	地位	相互关系	
旅游者	指离开常住地到异国他乡旅行和访问的人，一般划分为国际游客和国内游客两种基本类型		其他要素都是“服务”于这个主体	互相依存、互相制约
旅游资源	能满足旅游者消遣、娱乐以及其他方面的需求，是实现旅游目的的一切事物和现象		是旅游业赖以存在的基础，是旅游者主要的“消费”对象	
旅游服务业	旅游饭店、旅行社和旅游交通，是旅游服务业的三大支柱	旅游业的中介体，是旅游活动中联系旅游者和旅游资源的纽带	为旅游者提供服务	

【问题二】　中国国内旅游、出境旅游人次和国内旅游消费、境外旅游消费均列世界第一。

1. 根据游览区域，旅游活动可分为国内旅游与国际旅游。填表，比较国内旅游与国际旅游。

分类	概念	具体形式
国内旅游	人们在居住国范围内的旅游活动，时间不超过 12 个月	
国际旅游		跨国旅游、洲际旅游、环球旅游

2. 按照旅游目的，旅游可划分为观光、度假保健、公务、宗教和购物五种主要类型。填表，了解五种旅游类型。

分类		说明
观光旅游		旅游者到异地观赏自然风光，探访文物古迹，领略风土人情，获得审美和愉悦体验的消遣行为
度假保健旅游		
公务旅游		指以某种公务为主要目的，同时伴随着旅游行为的旅游活动，包括商务旅游、公务旅游和会议旅游等
宗教	专项旅游	
购物		

自主测评

检测自主学习效果，“学而时习之，不亦说乎”

1. 阅读材料，回答问题。

2014～2016 年，三次世界互联网大会均在乌镇召开，乌镇已成为世界互联网大会永久会址。近年来，乌镇的交通条件不断改善，与多条高速公路连通，通行时间大为缩短。乌镇投资 1 亿建设华庄生态农业园，增加了旅游景观，且新增线上服务企业 5 家，累计达到 13 家，乌镇旅游业走上了发展的“快车道”。乌镇的游客主要来自长江三角洲地区，下表示意长江三角洲地区 2012～2016 年城镇人口人均可支配收入。

年份	2012 年	2013 年	2014 年	2015 年	2016 年
人均可支配收入（元）	34033	37158	40214	43629	45539

分析乌镇旅游业快速发展的原因。

2 阅读材料，回答问题。

所谓无景点旅游，是指人们为了休闲度假、愉悦身心，不以游览景区、景点为目的，而是以享受旅途本身为目的，以随性而游、兴尽而返方式进行的一种自助旅游。无景点旅游的出现，是大众旅游发展到一定阶段的产物，反映了游客需求层次的提高。与传统的旅游方式相比，无景点旅游的目的不是特定的景区、景点，甚至排斥传统的以卖门票为特征的景区、景点观光方式。

（1）分析无景点旅游兴起的主要原因。

（2）简述发展无景点旅游的意义。

板块三　合作互助　共析问题

发展创新思维，形成主动探究与合作的意识和能力

【问题三】　旅游活动是社会经济发展到一定阶段的产物。根据旅游的需求和产业特征，可大致将旅游活动的发展分为古代旅游、近代旅游和现代旅游三个阶段。

历史阶段		古代旅游	近代旅游	现代旅游
旅游需求	特点	个体需求	群体需求	
	含义	局限于一定阶层的少数人，如帝王巡游、文人漫游等		旅游已成为普通大众的消费行为
产业特征	特点			产业化阶段
	含义	未出现提供旅游专业化服务的企业	旅游服务逐渐商品化	
旅游目的		事务性的出游占绝大多数		

【问题四】　20 世纪初，旅游活动已成为世界性的活动，特别是第二次世界大战后，世界局势相对稳定，全球经济得到恢复和发展，人类社会进入了现代旅游时期，庞大的旅游经济体系逐渐形成。

与古代旅游、近代旅游相比，现代旅游具有哪些特点？

【问题五】　发展旅游业会影响区域环境。结合结构图，简述旅游业与环境的关系。

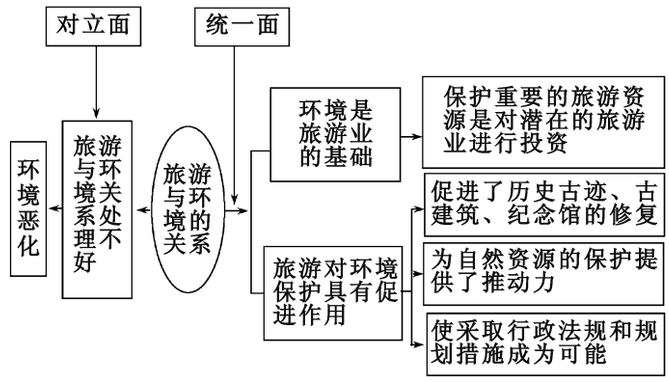

板块四　展示交流　探究问题

提高分析问题、解决问题的能力，科学答题

精题设计

精选精展，展一反三

【精题一】　阅读图文材料，回答问题。

2017 年 4 月 1 日，中共中央、国务院决定设立雄安新区，新区位于河北省雄县、容城、安新三县。风光秀丽的白洋淀，其主体位于安新县境内，是华北平原上最大的淡水湖，素有“华北明珠”的美称。下面为雄安新区及白洋淀分布简图。

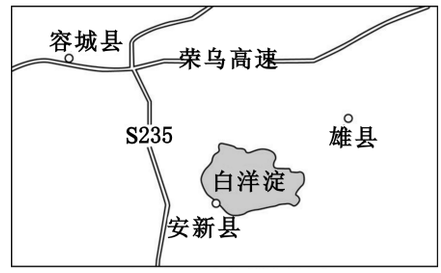

分析雄安新区的设立对白洋淀旅游业的影响。

思路点拨：阅读材料可知，白洋淀主体位于雄安新区，而新区建设必然会使该地的基础设施、交通条件、接待能力等方面得到提升；但旅游设施的建设、游客的增多也会给生态环境带来负面影响。

答案提示：知名度提高，市场更加广阔；基础设施改善，接待能力提高；交通运输条件改善，交通通达度提高；旅游设施的建设会对景区生态环境造成破坏；大量游客的涌入会造成环境污染。

【精题二】　阅读图文材料，回答问题。

地处浙江省西南部的丽水市，素有“浙江绿谷”之称，清洁的空气成了吸引游客的最大

卖点。同时，当地政府利用山、水、林、草、耕地打造农家乐项目，修建道路，不断满足游客吃、住、行、游、购、娱等方面的需求。好生态吸引来的不光是游客，还打造出了“丽水香菇”“丽水油茶”“丽水高山蔬菜”等知名品牌。近年来，村民的收入不断翻番，生活水平不断提高。下面为丽水市优美的生态景观图。



分析丽水生态旅游业的兴起对当地社会经济发展的重要作用。

思路点拨：可持续发展强调社会、经济、资源、人口的相互协调和共同发展，发展生态旅游是实现可持续发展的重要举措。发展生态旅游业，有利于完善基础设施，优化旅游环境，提升管理、服务水平，提高村民的职业素养和精神追求，提高劳动者的自身素质，提升特色农产品的知名度；生态旅游业在一定程度上可以算作是劳动密集型产业，扩大了就业范围，促进了农村劳动力的就近转移，一定程度上缓解了当地的就业压力，增加了人民收入。

答案提示：带动了当地交通运输、餐饮、旅店、商贸等行业的发展；促进了特色农产品的开发与生产，提升了特色农产品的知名度，扩大了消费市场；旅游业提供了更多的就业岗位，增加了经济收入，提高了村民的职业素养，提高了物质与精神生活水平。

探究问题

领悟性的问题，评价性的问题，挑战性的问题

【问题六】 红树林是一种枝繁叶茂、根系发达的海岸植被，林中栖息着多种鸟类。广西红树林分布区被列为国家级自然保护区。目前，该保护区的红树林正作为旅游资源被适度开发。保护区管理部门在红树林景区为游客提供望远镜，或修建浮桥。

请从旅游景区的三要素来简要评价这种做法。

板块五　归纳总结　应用演练

归纳总结，直指课时要点

归纳总结

扎实地掌握本课知识的重点和要点，理解知识之间的逻辑关系

- 旅游概述
  - 旅游活动的基本要素
    - ①_____：旅游活动的主体，其他要素都是“服务”于这个主体的
    - ②_____：旅游的客体，旅游业赖以存在的基础，是旅游者主要的“消费”对象
    - ③_____：旅游业的中介体，其三大支柱是旅游饭店、旅行社和旅游交通
  - 旅游活动的基本类型
    - 按旅游区域划分
      - 国内旅游：我国分为地方性旅游、区域性旅游、全国性旅游
      - 国际旅游：一般可分为跨国旅游、洲际旅游、环球旅游
    - 按旅游目的划分：观光、度假保健、公务、宗教和购物五种主要类型

应用演练

应知应会的知识和技能

1. 阅读图文材料，回答问题。

2016 年 8 月，巴西举办了第 31 届夏季奥运会，有大量游客来到巴西。巴西北部拥有茂盛的原始雨林，90%的生物都生活栖息在树上。下面为巴西地形示意图、雨林景观图。

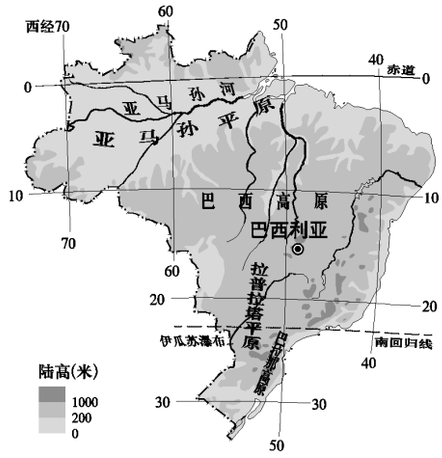

（1）简析巴西举办奥运会对当地的社会、文化带来哪些有利和不利影响。

（2）推测去热带雨林探险需注意的问题。

2. 阅读材料，回答问题。

乡村旅游是以旅游度假为宗旨，依托农村区域的优美景观、自然环境、建筑、文化等资源，在传统农村休闲游、农业体验游的基础上，拓展开发会务度假、休闲娱乐等项目的新兴旅游方式。截至 2017 年 12 月，我国休闲农业和乡村旅游各类经营主体已达 33 万家，比上年增加了 3 万多家，营业收入近 5500 亿元，整个产业呈现出“井喷式”增长态势。

说明近年来我国乡村旅游火爆的社会原因。

3. 阅读图文材料，回答问题。

查干湖（如图 1 所示）是全国十大淡水湖之一，渔业资源丰富，2007 年被列为国家级自然保护区。每年 12 月中旬到次年 1 月中旬，一种流传至今的古老的渔业生产方式和传统习俗——查干湖冬捕（如图 2 所示）就会在此进行。神秘且神圣的壮观奇景，对游客具有极大的吸引力。2018 年 1 月 1 日，查干湖第二届“冰雪风情文化旅游节”拉开序幕，开幕式由祭长生天、生态放生、文艺演出、冬泳比赛等组成，吸引了来自世界各地的游客前往观赏体验。

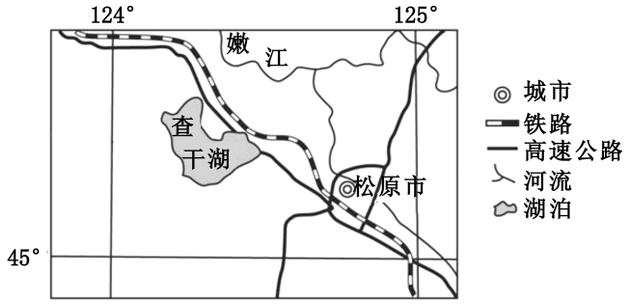

图 1

图 2

说明查干湖冬捕的旅游价值，以及举办“冰雪风情文化旅游节”对查干湖旅游发展的促进作用。

第二节　旅游资源

第 1 学时　旅游资源的定义　旅游资源的特性

板块一　提出问题　引领目标

导入问题，直指课时重点

鼓浪屿位于厦门西南隅，面积约 1.91 平方千米，因西南有海蚀涧受海浪潮冲击，声如擂鼓而得名。岛上气候宜人，四季如春。主要景点有日光岩、鼓浪石、菽庄花园、毓园、钢琴博物馆、郑成功纪念馆、厦门海底世界、天然海滨浴场等。2017 年 7 月 8 日，鼓浪屿被联合国教科文组织列入世界遗产名录，成为中国第 52 项世界遗产项目。鼓浪屿曾创下单日接待游客超过 12 万人次的历史最高纪录，申遗成功后，当地政府将游客数量限制在每日 3.5 万人。下面为鼓浪屿菽庄花园景观图。

简述鼓浪屿旅游资源的特点，并指出鼓浪屿限制游客数量的积极意义。

板块二　自学思疑　初探问题

尊重认知规律，亲历感悟知识生成

问题呈现

重点问题，统领性的问题，直指学习目标的问题

【问题一】　旅游资源是发展旅游业的前提和基础，它既有具体的资源，也有抽象的资源。

1. 联系生活实际，想想哪些地理事物和现象属于旅游资源。

2. 能否成为旅游资源应该具备哪些条件？

3. 能够成为旅游资源的核心条件是什么？

【问题二】 作为旅游资源，应该具有一定的非凡性来达到吸引旅游者的目的。

1. 旅游资源的根本属性是什么？

2. 西湖每年吸引大量的游客前往游览，主要是依靠其旅游资源的哪种属性？

3. 作为北方民居代表的北京四合院，主要体现了旅游资源的哪种属性？

4. 有人说，旅游资源是一种“取之不尽、用之不竭”的资源。你认为正确吗？

自主测评

检测自主学习效果，“学而时习之，不亦说乎”

1. 阅读图文材料，回答问题。

泼水节其实为傣族的新年，是西双版纳最隆重的传统节日之一，一般在傣历四月中旬（即农历清明前后十天左右）举行，为期三至四天，在阳历 4 月 13 日至 15 日这三天。泼水节期间，大家用纯净的清水相互泼洒，以圣洁之水消灾免难，互祝平安幸福。

泼水节期间的庆祝活动属于旅游资源吗？为什么？

2. 阅读图文材料，回答问题。

近年来，我国许多传统古村落被开发成旅游观光地，一些古村落的村民仍居住在村内，如“中国最具旅游价值古村落”之一的桂林江头洲村，至今仍完整地保存着明清时期的建筑格局，依然有百余户村民生活在村中，坚守着那份宁静和质朴。

分析村民生活在村中对促进当地旅游业健康发展的作用。

板块三 合作互助 共析问题

发展创新思维，形成主动探究与合作的意识和能力

【问题三】 自然界和人类社会凡是能激发旅游者的旅游动机，能为旅游业利用，并能

够产生经济效益、社会效益和环境效益的各种事物和因素都可视为旅游资源。

1 读图，了解旅游资源的外延。

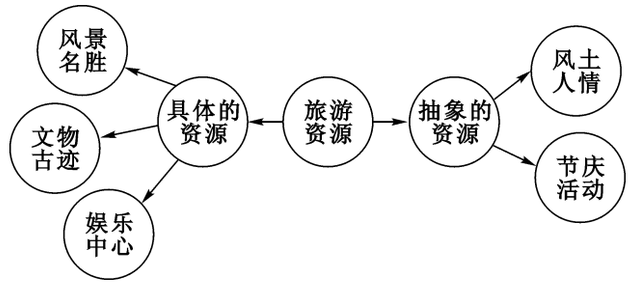

2 填表，归纳旅游资源的特性。

特性	形成	举例	注意问题
位置相对稳定性	具有相对稳定的位置，才具有旅游资源的性质	山川景观区域性强，位置稳定；珍宝文物放在博物馆，取得相对稳定的位置才算是旅游资源	区域性或不可移动性，是旅游资源的根本属性之一
物质景象组合性		云海、奇松、怪石、温泉称为黄山“四绝”，构成黄山景观的特色	利用和保护旅游资源时，应注意资源的整体性、合理性和协调性
美学属性	是由旅游活动的主体、客体决定的：旅游资源必须具备美学属性，才能满足旅游者的审美需求；人类的审美需求是在不断发展变化的	“日照香炉生紫烟，遥看瀑布挂前川。飞流直下三千尺，疑是银河落九天”，描写了庐山瀑布的色彩美、形象美、声音美、动态美等	是旅游资源的一种相对属性
历史文化属性		巴黎埃菲尔铁塔的历史文化意义在于它是当时建筑的奇迹，而且还打破了埃及胡夫金字塔保持的最高建筑物纪录	历史文化沉淀在旅游资源上，使旅游资源具有民族特色

非消耗性	许多旅游资源是与地球、人类社会同始终的，具有长久的生命力，并且随着旅游者的光顾和岁月的流逝，趋于增值	地质公园、自然保护区等	以合理使用为前提

板块四　展示交流　探究问题

提高分析问题、解决问题的能力，科学答题

精题设计

精选精展，展一反三

【精题一】　阅读材料，回答问题。

果树认领活动——让我们拥有自己的果树。近年来，这种新型的旅游方式在各地兴起。通过认领、管理、采摘，人们不但能尽情领略劳动的乐趣，还可以享用到真正无公害的水果。

说明这种新型旅游模式中旅游资源的独特性，并简析其对果树认领地发展的影响。

思路点拨：独特性根据果树认领旅游活动的特点分析即可；影响可从经济、社会、生态三个方面进行利弊分析。

答案提示：独特性：参与农事活动，体验农村生活。　影响：增加经济收入；增加就业机会；带动相关产业的发展；促进乡村和城市的文化交流；给自然环境的保护提供了动力；不合理的开发可能给环境带来负面影响，破坏乡村的生态环境。

【精题二】　阅读图文材料，回答问题。

农业旅游作为一项新的旅游项目，已成为世界潮流。20 世纪 60 年代初，西班牙农场主把自家房屋改造装修，接待游客前往观光度假，被认为是农业旅游的起源。后来又向深层次发展，游客不仅“看”而且“干”，由过去欣赏结果，变为参与过程，真正体验农活的“原汁原味”。如今，在一些国家或地区出现了更高级的农业旅游形式：租地自种。下面为农业旅游景观图。

指出农业旅游体现的突出特色，并简析我国发展农业旅游的意义。

思路点拨：农业旅游体现的突出特色主要从旅游资源的分类、特色、价值等方面进行考虑。农业旅游是面向城市的一种新兴的旅游方式，对于城市人来讲，农村的自然景观、人文景观，以及农业生产特色特别突出，有较强的吸引力。发展农业旅游的意义主要从发展农业

特色旅游对农村发展的影响角度分析，由于农业旅游的开展，可以调整以第一产业为主的农村产业结构，提高第三产业的比重，延长农业产业链，增加农民收入；扩大城乡之间的交流，缩小城市与乡村经济发展的差异，有利于解决我国的农村、农民、农业问题。

答案提示：特色：农村自然景观、人文景观，农业产业特色。　意义：调整和优化农业结构，延长农业产业链；促进农民就地就业，增加农民收入；加大城乡交流，缩小城乡差距；是解决“三农”（农村、农民、农业）问题的途径之一。

探究问题

领悟性的问题，评价性的问题，挑战性的问题

【问题四】　钱塘江口的海潮，汹涌澎湃，气势雄伟，特别在中秋节后两三天，最为壮观，潮头高达 3～5 米，每秒钟推进的速度达到近 10 米，带来海水 10 万～20 万吨，同时发出巨大的声响，犹如千军万马在奔腾。宋代文学家苏东坡曾为它写下了这样的诗句：“八月十八潮，壮观天下无。”

1. 钱塘江潮向我们展示了旅游资源的哪些美学属性？

2. 钱塘江大潮为什么如此壮观？

3. 为了更好地开发利用钱塘江的旅游资源，你有哪些合理化建议？

板块五　归纳总结　应用演练

归纳总结，直指课时要点

归纳总结

扎实地掌握本课知识的重点和要点，理解知识之间的逻辑关系

- 旅游资源
  - 旅游资源的定义
    - 旅游资源是指能够吸引①_____产生旅游动机并实施旅游行为的事物与因素。
    - 包括②_____和③_____
    - 旅游活动的异地性和流动性，决定了旅游资源的相对性
  - 旅游资源的特性
    - ④_____：区域性或不可移动性是旅游资源的根本属性之一
    - ⑤_____：由许多景象组合而成、综合性显著的环境资源
    - ⑥_____：这是旅游资源的一种相对属性，必须具备才能满足旅游者的审美需求
    - ⑦_____：人类文化能够“凝聚”在一定区域的山川景物上，具有非常强的区域和民族特色
    - ⑧_____：在合理使用的前提下，是不会被消耗的资源

应用演练

应知应会的知识和

技能

1. 阅读材料，回答问题。

什刹海景区景色优美，有恭王府、宋庆龄故居、郭沫若纪念馆，周边地区拥有整片保存较完整的胡同和四合院，保留着许多富有老北京特色的民俗活动和京城传统的特色小吃，是北京著名的民俗旅游风景区。

（1）说出该景区旅游资源的突出价值。

（2）简析旅游开发对当地社会文化的积极影响。

2. 阅读图文材料，回答问题。

《南极：终极之旅》是由资深极地科学家以其丰富学识和亲身经历，对南极洲的自然地理、生态环境、科学价值、历史人文等进行了全方位的介绍，尤其从旅游的角度对南极不同地区的景观特色、观光要览、经典旅游线路、相应的知识储备、野外探险安全、旅游环境保护等诸多方面加以详尽介绍。下图为《南极：终极之旅》封面。



说出南极地区主要的特色旅游资源，以及南极旅游开发的不利条件。

3. 阅读图文材料，回答问题。

碛口古镇位于晋西吕梁山西麓，黄河之滨，山西临县之南端，是一座风貌完整、文化内涵丰富的古镇，清代时号称晋陕大峡谷黄河沿岸第一镇，因渡口而兴，因现代交通替代黄河水运而衰。碛口古镇是晋商发祥地之一，是“中国历史文化名镇”“世界百大濒危文化遗址”。近年来，碛口古镇积极发展体验旅游，游客可体验纤夫拉船、放河灯、放筏等与渡口有关的活动，体验晋商时代的盐业、油、棉、麻等商品买卖活动，体验黄土高原特色小吃的

制作和农事活动，体验“两黄”（黄河、黄土高原）特色节日庆祝活动等。下面为碛口古镇景观图。



说明碛口古镇发展体验旅游对当地传统文化保护与传承的影响。

4. 阅读图文资料，回答问题。

冰岛位于北大西洋中部，靠近北极圈，温带海洋性气候给冰岛带来丰沛的降水。冰岛全境冰川、火山大范围地并存，因此被称为“冰与火之国”。神奇的北极光、引人入胜的温泉吸引着越来越多的游客瞩目冰岛。下面为冰岛地理位置示意图。

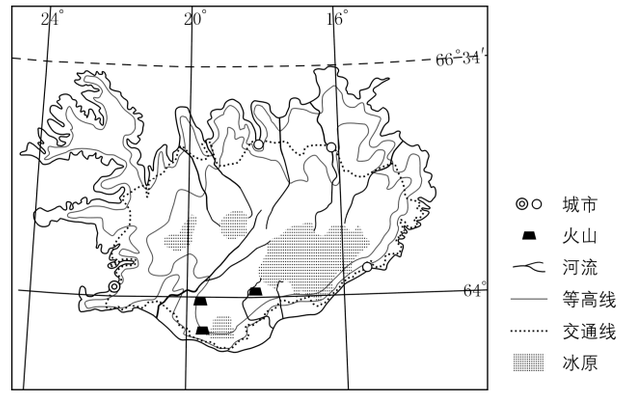

（1）写出冰岛突出的旅游资源价值。

（2）简析冰岛温泉众多的原因。

第 2 学时　旅游资源主要类型

板块一　提出问题　引领目标

导入问题，直指课时重点

一部“活的地质教科书”

科罗拉多大峡谷位于美国亚利桑那州西北部科罗拉多河中游、科罗拉多高原的西南部，是地球上最为壮丽的景观之一。有人说，在太空唯一可用肉眼看到的自然景观就是科罗拉多大峡谷。亿万年来，奔腾的科罗拉多河在美国西部的高原中，切割出令人震撼的奇迹——科罗拉多大峡谷。只要登高远眺，就可以清楚地看到平坦如桌面的高原上有一道大裂痕，那就是科罗拉多河在这片洪荒大地上的印记。大峡谷岩石是一幅地质画卷，人们从谷壁可以观察到从古生代至新生代的各个时期的地层，因而被誉为一部“活的地质教科书”。

根据旅游资源的属性，旅游资源可分为哪些类型？科罗拉多大峡谷属于哪类旅游资源？

板块二　自学思疑　初探问题

尊重认知规律，亲历感悟知识生成

问题呈现

重点问题，统领性的问题，直指学习目标的问题

【问题一】　自然景观旅游资源，即自然风光，主要由地貌、水体、气候、生物等自然地理要素组成，是以自然界本身的美感来吸引旅游者的资源。

1. 常见的自然景观旅游资源有哪些？

2. 桂林以山清、水秀、洞奇、石美而享有“山水甲天下”的美誉，它属于哪类自然景观旅游资源？

3. 美丽的西双版纳风光属于哪类自然景观旅游资源？

【问题二】　我国是一个旅游资源十分丰富的国家，除了壮丽的山川、秀丽的江河外，还有雄伟的古代建筑、数不尽的名胜古迹等文化遗存。

1. 文化景观旅游资源通常可分为哪几类？

2. 俗话说，“不到长城非好汉”。长城属于文化景观吗？

3. “孔子登泰山而小天下”，说明泰山是纯粹的自然景观旅游资源。这种说法正确吗？

自主测评

检测自主学习效果，“学而时习之，不亦说乎”

1. 阅读图文材料，回答问题。

峨眉山位于四川省，是我国佛教四大名山之一。峨眉山地势陡峭，风景秀丽，有“秀甲天下”之美誉。下面为峨眉山景观图。

说出峨眉山的景观特色，并分析峨眉山“秀甲天下”的自然原因。

2. 读林芝旅游资源分布图，回答问题。

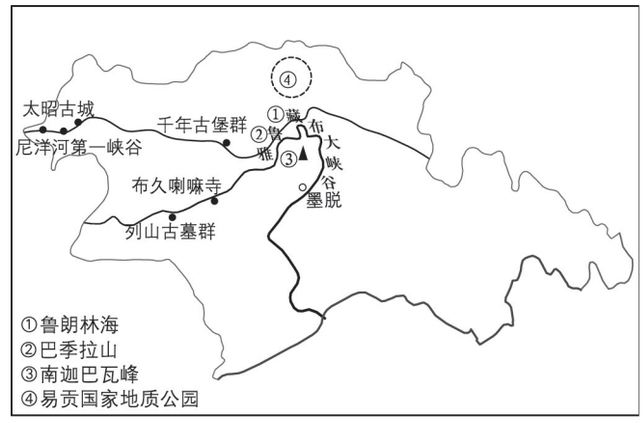

（1）图中的旅游景观，属于人文旅游资源的有哪些？

（2）2014 年林芝桃花旅游节延伸为“桃花文化旅游季”，这对我们开发旅游资源有什么启示？

板块三　合作互助　共析问题

发展创新思维，形成主动探究与合作的意识和能力

【问题三】　填表，了解旅游资源的主要类型。

类型		概念	实例
自然景观旅游资源	地质地貌景观		中国的五大连池
	山水组合景观		黄果树瀑布、尼亚加拉大瀑布
	生物景观		卧龙自然保护区、香山红叶
	气候与其他自然景观组合		我国东北的“松花雪柳”、美国夏威夷海滨
文化景观旅游资源	宗教文化景观	自然环境中保留下来的人类社会的文化遗存，且在环境景观区域内占据主导地位	拉萨布达拉宫、少林寺墓塔林
	具有历史文化意义的古代遗存		北京故宫、秦始皇陵及兵马俑坑
	风土民情		彝族火把节、蒙古族那达慕大会
自然和文化景观旅游资源		在许多景观区域范围内，自然景观与人文景观往往相得益彰	

板块四　展示交流　探究问题

提高分析问题、解决问题的能力，科学答题

精题设计

精选精展，展一反三

【精题一】　阅读图文材料，回答问题。

材料一　丝绸之路中国部分局部图

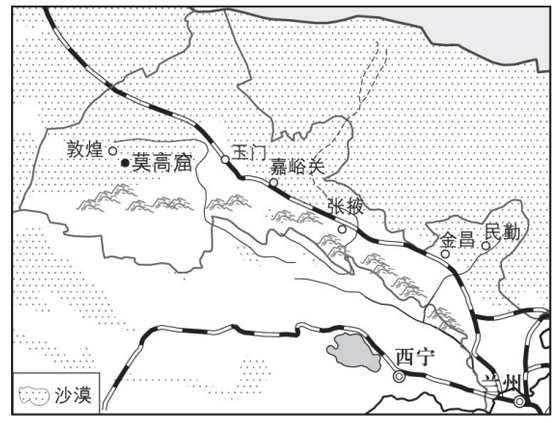

材料二　十几个世纪以来，丝绸之路一直是东西方联系的纽带。如今丝路游又在吸引着来自世界各地的旅游者。丝绸之路重镇敦煌附近有莫高窟、玉门关、鸣沙山、月牙泉等著名景观。莫高窟是敦煌艺术的精华，它有大小洞窟几百个，是集建筑、雕塑、壁画于一体的艺术宝库。为了更好地保护这座世界文化遗产，每年轮换开放 10 个洞窟。鸣沙山和月牙泉

“山泉共处，沙水共生”，千百年来风沙并没有将泉水掩埋，真是大自然的神奇造化。

1. 丝绸之路按旅游景观的本质属性来划分，属于什么景观？

2. 图示区域旅游资源的旅游价值是如何体现的？

思路点拨：1. 旅游景观可分为自然景观、人文景观和自然文化景观。丝绸之路是由人类创造的，是联系东西方的纽带，属于人文景观。

2. 旅游资源价值，主要从美学价值、历史文化价值、经济价值、科学价值等方面分析。

答案提示：1. 人文景观。　　2. 美学价值：莫高窟、玉门关等体现了艺术美、协调美，鸣沙山、月牙泉等给人以听觉美、形象美的感受。科学价值：鸣沙山为何能发出声音？月牙泉为何千百年来没有被掩埋？这就为研究当地的气候、地形、风积地貌、地下水所处的地质条件等提出了研究课题，具有重要的科学价值。

【精题二】　阅读图文材料，回答问题。

夏威夷旅游业发达。喷焰的火山、茂密的森林、洁白的沙滩、湛蓝的海水、热烈的草裙舞与轻巧的独木舟……每年吸引了多达 700 万的游客来此度假观光，旅游业已成为这里的支柱产业。下面为夏威夷群岛的位置和火山分布图。

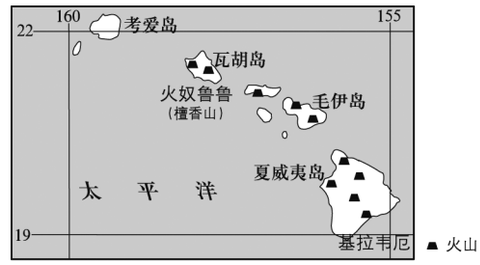

1. 将下列夏威夷著名的自然和人文旅游景观进行具体分类。

旅游景观	火山国家公园	热带森林	草裙舞
分类			风土民情

2. 分析夏威夷群岛旅游资源游览价值高的理由。

思路点拨：1. 自然旅游资源分为四大类，即地文景观类、水域风光类、天象与气候景观类、生物景观类。火山国家公园、热带森林分别属于地质地貌景观类、生物景观类，都属于自然景观。

2. 旅游资源的游览价值要从旅游资源类型的丰富程度、美学价值、科研价值、地域组合、集群状况等方面来分析。

答案提示：1.

旅游景观	火山国家公园	热带森林	草裙舞
分类	地质地貌景观	生物景观	风土民情

2. 该地旅游资源质量较高；火山地貌具有较高的科研价值，热带海洋景观有较高的美学价值；旅游景点集群性好，彼此间距离较近；景观的地域组合状况好，自然景观类型丰富，兼有火山、热带海洋、森林等多样组合，有风土民情等丰富的人文景观。

探究问题

领悟性的问题，评价性的问题，挑战性的问题

【问题四】 台湾阿里山、深圳“锦绣中华”、长江三峡、八达岭长城、乐山大佛、漓江风光各属于哪类旅游资源？

板块五 归纳总结 应用演练

归纳总结，直指课时要点

归纳总结

扎实地掌握本课知识的重点和要点，理解知识之间的逻辑关系

旅游资源主要类型
- ①_____旅游资源
  - 地质地貌景观
  - 山水组合景观
  - 生物景观
  - 气候与其他自然景观组合
- ②_____旅游资源
  - 宗教文化景观，例如：五台山
  - 具有历史文化意义的古代遗存，例如：长城
  - ③_____，例如：傣族泼水节
- 自然和文化景观旅游资源

应用演练

应知应会的知识和技能

1. 阅读图文材料，回答问题。

2018 年 4 月，联合国教科文组织正式批准光雾山—诺水河成为第 36 个世界地质公园。光雾山—诺水河世界地质公园位于四川省巴中市境内，总面积 1818 平方千米，地质遗迹资源丰富多样。

光雾山—诺水河公园人文历史悠久，始于秦、兴于汉的米仓古道，秦汉时期的官仓平、牟阳古城等人文历史景观保存良好。巴山皮影、巴山背二哥、茅山歌等民俗文化在此传承发扬。

光雾山—诺水河地质公园自然生态环境良好，是四川盆地北部边缘山地重要的生物基因库，以红叶景观为主的生物景观众多，有中国“红叶之乡”的美誉。特有树种巴山水青冈堪称植物活化石，分布面积达 70 余平方千米。下面为光雾山—诺水河地质公园景观图。

举例说明光雾山—诺水河地质公园的主要旅游资源类型及其价值。

2 阅读图文材料，回答问题。

2014 年 6 月 22 日，由中（中国）哈（哈萨克斯坦）吉（吉尔吉斯斯坦）三国联合申报的丝绸之路“长安—天山廊道路网”成功申报世界文化遗产。因部分遗产所在地如位于甘肃省敦煌城西北 90 千米处戈壁滩中的玉门关遗址等自然环境恶劣，修复和保护困难，本次申遗历经 26 年筹备，两次重大调整，多轮考察评审才得以成功，成为首例跨国合作、成功申遗的项目，也因此掀起了中哈吉三国人民重走丝绸之路的旅游热情。下面为丝绸之路长安—天山廊道路网示意图。

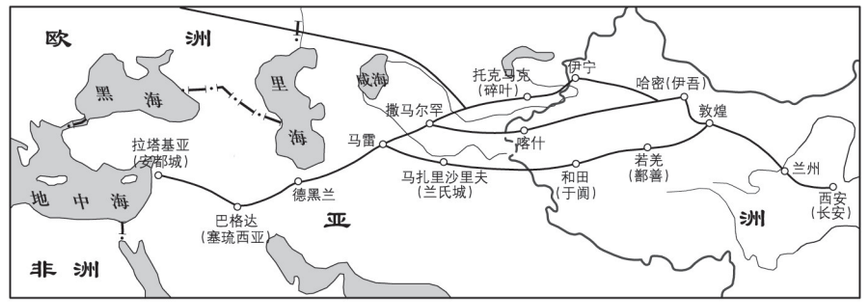

—— 古代丝绸之路

（1）丝绸之路旅游业的发展对沿线的经济发展有哪些促进作用？

（2）从自然环境特点考虑，初秋时节重走丝绸之路玉门关段来自自然的威胁有哪些？

3 读台湾旅游资源分布示意图，回答问题。

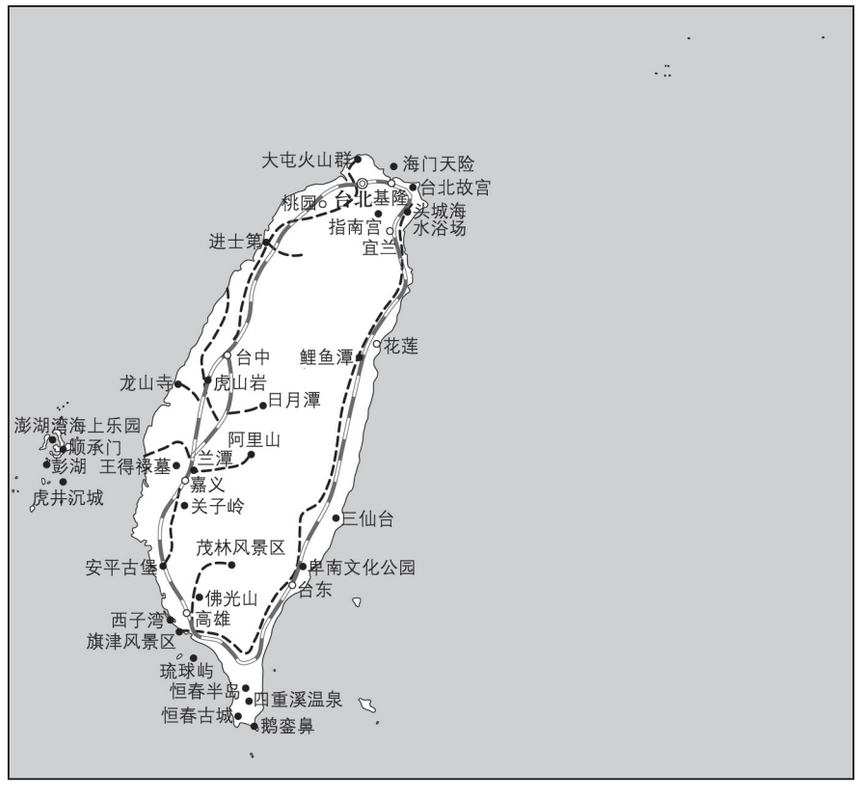

（1）“宝岛”台湾旅游资源丰富多样。试分析台湾旅游资源丰富多样的原因。

（2）简要评价台湾旅游资源开发的有利条件。

4. 阅读图文材料，回答问题。

2015 年 7 月 31 日，国际奥委会宣布，北京正式获得 2022 年冬季奥运会举办权。本届冬季奥运会将由北京—张家口（崇礼区）联合承办，北京承办冰上项目比赛，张家口承办雪上项目比赛。

崇礼区境内多中低山脉，冬季平均气温－12 ℃，近 10 年年均降雪厚度达 1 米以上；该县各滑雪场均有完备的人工造雪系统，适于开展国际高端竞技滑雪运动。下面为北京及张家口市位置示意图。

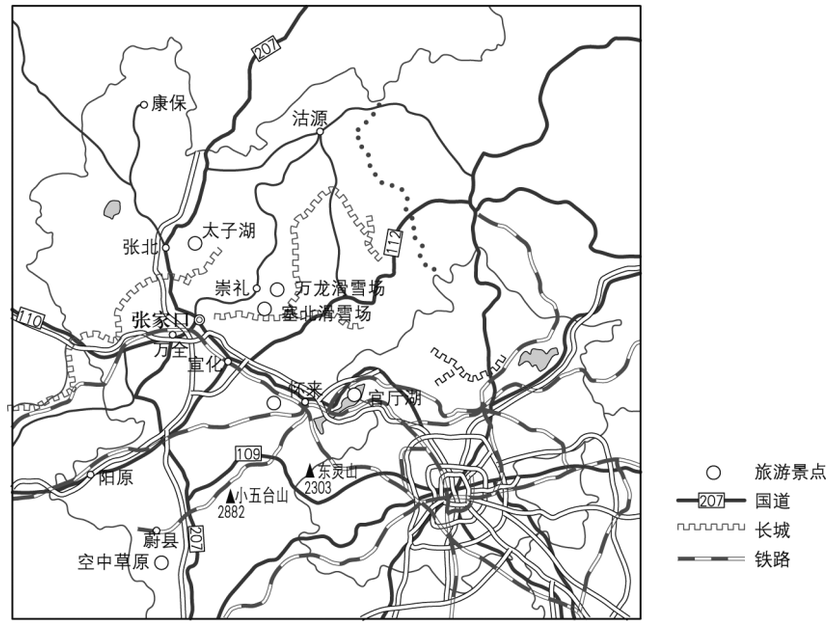

（1）分析张家口（崇礼区）承办 2022 年冬季奥运会雪上项目的优势条件。

（2）分析 2022 年北京冬季奥运会申办成功对张家口市旅游业的有利影响。

第三节　旅游资源的形成和分布

第 1 学时　旅游资源的形成

板块一　提出问题　引领目标

导入问题，直指课时重点

桂林山水

桂林是世界著名的风景旅游城市，有着举世无双的喀斯特地貌。这里的山，平地拔起，千姿百态；漓江的水，蜿蜒曲折，明洁如镜；山多有洞，洞幽景奇；洞中怪石，鬼斧神工，琳琅满目，于是形成了“山清、水秀、洞奇、石美”的桂林“四绝”，因而自古就有“桂林山水甲天下”的美誉。“桂林山水甲天下，阳朔山水甲桂林；群峰倒影山浮水，无山无水不入神”，高度概括了阳朔自然风光在世界上所占的重要位置。

桂林山水是怎样形成的？

板块二　自学思疑　初探问题

尊重认知规律，亲历感悟知识生成

问题呈现　重点问题，统领性的问题，直指学习目标的问题

【问题一】　自然地理条件是旅游资源形成的基础，对旅游资源的景点、景区的自然特征有决定性的影响。

1. 火山地貌景观是怎样形成的？

2. 花岗岩广布的山区为什么球状地貌发育？

3. 为什么说砂岩地貌是构成风景名胜区的核心旅游资源？

【问题二】　人类活动对优美自然环境资源的被认知、提升其文化内涵，具有重要的影响，甚至对一些旅游景点、景区的形成起到主导作用。大自然的风景只有被人类感知后才可

以成为旅游资源。

1. 人类在开发自然、建设文化景观时，如何强调自然与人文的和谐统一？

2. 杭州西湖山水林泉、亭台楼阁配合和谐、别致精巧，形成了许多著名的景观。你能举几个例子吗？

3. 国家大力发展“红色旅游”的意义是什么？你知道山西省有哪些红色旅游资源吗？

自主测评

检测自主学习效果，“学而时习之，不亦说乎”

1. 阅读图文材料，回答问题。

2017 年 1 月 27 日除夕之夜，在万众期待的 2017 年中央电视台春节联欢晚会上，桂林分会场惊艳亮相，精彩呈现“央视春晚桂林最美”。一场山水间的文化盛宴，一部世界级的山水实景演出，展示了桂林的自然生态美、历史文化美以及桂林国际旅游胜地建设令人瞩目的新成就。下面为桂林山水景观图。

指出在春晚上充分展示了桂林的哪些旅游资源，并分析这些旅游资源给桂林旅游业的发展带来哪些影响。

2. 阅读图文材料，回答问题。

神农架位于湖北省西北部，是我国著名的旅游景区。该地夏宜避暑，冬可滑雪，吸引了大量游客。下图示意神农架及其周边地形，图中山峰为神农架主峰神农顶。

—200— 等高线

说出神农架夏季、冬季均能吸引游客的自然原因。

板块三　合作互助　共析问题

发展创新思维，形成主动探究与合作的意识和能力

【问题三】　2010 年 8 月 5 日，湖南崀山、广东丹霞山、福建泰宁、江西龙虎山、贵州赤水、浙江江郎山等六个因“色如渥丹，灿若明霞”而命名的丹霞地貌，被联合国世界遗产委员会一致同意列入《世界遗产名录》。

1. 丹霞山作为旅游资源有哪些价值？

2. 解释丹霞地貌形成的原因。

【问题四】　自然地理条件是旅游资源形成的基础。

请从生物景观、山水景观等方面，说出我国不同地区自然景观的差异。

【问题五】　我国古代园林要求再现自然，用“虽由人作，宛自天开”这一基本准则，正确处理自然和人文之间的关系，创造理想美的境界。我国南、北方园林的建筑风格有着很大的差异。

		北方园林	南方园林
园林建筑特点	规模	规模宏大	规模较小，布局精巧
	色彩		素淡，黑白为主色调
园主的追求		显示皇权的尊荣富贵	
园林的共同特点		自然景观与人文景观融为一体，体现和谐美	

板块四　展示交流　探究问题

提高分析问题、解决问题的能力，科学答题

精题设计

精选精展，展一反三

【精题一】　阅读图文材料，回答问题。

春节期间，在回家探亲的春运大潮下，“团圆旅游”悄然兴起，越来越多的游客选择在异国他乡和家人一起欢度农历新年。中国旅游研究院与途牛网发布的《2016～2017 中国旅

游消费市场发展报告》显示：以亲子游、爸妈游为代表的家庭旅游已成为旅游消费市场的主力，家庭旅游的意愿占比达60%。

分析近年来“团圆旅游”悄然兴起的原因，并指出景区应采取的应对措施。

思路点拨：“团圆旅游”兴起的原因主要从交通条件改善、生活水平提高、旅游意愿三个角度分析；景区的应对措施主要是防止过于拥挤，从景区管理、人数限制、信息发布、网上订票等方面说明。

答案提示：原因：居民生活水平不断提高；私家车日益普及，租车平台的发展；交通运输方式的改善；春节期间高速公路暂免收费；居民外出旅游意愿增强；春节期间假期较长等。　应对措施：加强景区的疏导和管理；限制接待人数；热点景区采取联网预约售票制；景区及时发布流量预报信息等。

【精题二】　阅读材料，回答问题。

“候鸟式”养老旅游是老年人随着季节变化而转换居住地的一种休闲生活方式。近年来，我国北方老年人冬季赴海南岛养老旅游的数量大增。

分析海南岛冬季吸引我国北方老年人养老旅游的原因。

思路点拨：关键是抓住赴海南旅游的主体人群以及季节特征。海南为热带地区，冬季温暖，树木枝繁叶茂，而且海南省为旅游大省，污染小。冬季我国北方地区气候寒冷，植被凋零，景色单调，冬季取暖等加重大气污染。随着我国经济的蓬勃发展，老年人越来越追求生活质量，同时，我国交通条件的改善为远距离出行提供了方便。

答案提示：海南岛纬度低，冬季温暖湿润，而我国北方地区冬季气候寒冷干燥；海南岛常年空气清新，北方冬季空气污染相对较重；海南岛阳光、沙滩、海水、椰树林等热带滨海风光优美、景色宜人，而北方地区冬季景色相对单调。

探究问题

领悟性的问题，评价性的问题，挑战性的问题

【问题六】　哈尔滨太阳岛以我国的书法、茶艺、戏曲、武术等独特的“中国元素”，规划塑造了“盛世华章”“世象博览”“冰欢雪跃”等雪雕景区，举行了盛大的“白色旅游——冰雪艺术博览会”。

从气候角度分析哈尔滨举办“白色旅游——冰雪艺术博览会”的有利条件。

板块五　归纳总结　应用演练

归纳总结，直指课时要点

归纳总结

扎实地掌握本课知识的重点和要点，理解知识之间的逻辑关系

旅游资源的形成
- 自然地理条件是旅游资源形成的基础
  - 山地风光
    - ①_____：五大连池等
    - ②_____：西岳华山等
    - ③_____：丹霞地貌
  - 山水组合
- 人类活动与旅游资源开发
  - 城市和村庄建在山前平原、江河之滨、植被繁茂之地等，修建园林、寺庙、宝塔等选择山清水秀之处，强调自然环境与人文景观的协调统一
  - 文化遗产：在自然地理的基础上，人类活动居主导地位所形成的旅游资源
  - “红色旅游”

应用演练

应知应会的知识和技能

1. 阅读图文材料，回答问题。

2019 年 4 月至 10 月，在喜迎建国 70 周年之际，北京延庆区举办了世界园艺博览会，为来自海内外的游客提供了游客服务和游览体验。延庆重点打造了具有世园、园艺主题的中高端乡村住宿产品“世园人家”（见下图），作为服务世园会接待的乡村住宿品牌和展示延庆旅游形象的名片。

分析延庆打造“世园人家”精品民宿对当地旅游业的积极影响。

2. 下面图示地区是我国少数民族集中分布的地区，请说出本地区两个少数民族的名称及其文化景观旅游资源。

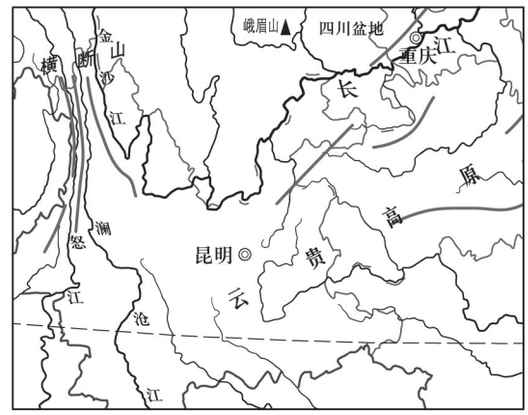

3. 阅读图文材料，回答问题。

赤水晒醋历史悠久，醋坯和成品醋都在阳光下长久曝晒而成，故称晒醋。赤水晒醋这种古法酿醋技艺以当地的优质大米、糯米、纯中药制作醋曲，经过蒸煮、酿晒、发酵等30多道工序制作而成，具有色泽柔和、酸香爽口等特点。赤水晒醋1915年荣获“巴拿马金奖”；1988年获“中华人民共和国商业部优质产品奖”；2009年列入“贵州省非物质文化遗产”；2015年获质检总局评定的“国家地理标志产品”。近年来，随着赤水市“旅游兴市”战略的实施，赤水晒醋产业得到了进一步发展。下面为赤水晒醋景观图。

为“赤水晒醋”设计两项旅游项目，并简述发展旅游业对“赤水晒醋”产业的有利影响。

4 阅读图文材料，回答问题。

下图示意某旅游目的地，该地旅游资源丰富，但旅游规模相对较小。

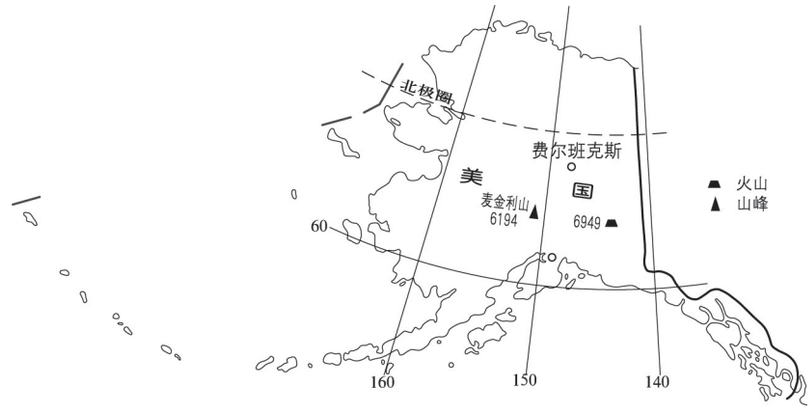

试分析该地旅游规模较小的原因。

5 阅读图文材料，回答问题。

独库公路宛如一条巨龙盘卧天山，沿途多悬崖绝壁，高山冻土广布，景点众多，被誉为“中国最美的公路”。下面为独库公路沿线主要景点、城市分布略图。

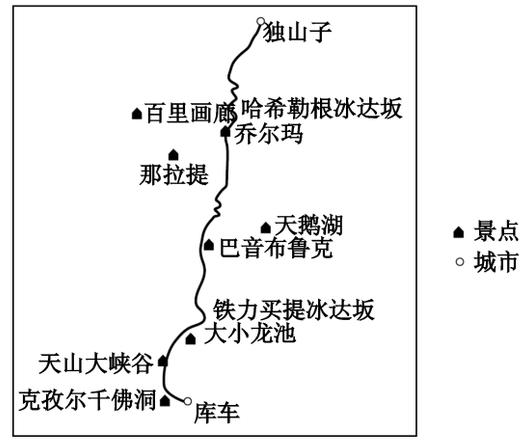

分析沿独库公路旅游的最佳季节，并说明其成为旅游热点地区的原因。

第 2 学时　旅游资源分布

板块一　提出问题　引领目标

导入问题，直指课时重点

民俗文化村是指在旅游点兴建的把某一时期或某一区域的民俗文化，依照一定的方式、风格加以集中反映的人造旅游景观。

深圳“中国民俗文化村”荟萃我国各民族的民间艺术、民俗风情、民居建筑于一园，内含 27 个民族的 27 个村寨，通过民族风情表演、民间手工艺品展示、定期举办大型民间节庆活动，多角度、多侧面地展示出我国各民族丰富多彩的民风民情、民俗文化。

昆明“云南民族村”的民族村寨采用复原陈列的手法展示云南省内的民族风情，将云南 25 个民族的文化风情、建筑艺术、音乐舞蹈、宗教信仰、生活环境如实地展示出来，是云南民族文化的缩影。

以上两个民俗文化村都是开发比较成功的案例。但从长期经营的情况来看，深圳“中华民俗文化村”接待的游客数量比“云南民族村”更多。

与“云南民族村”相比，深圳“中国民俗文化村”接待游客数量更多，简析其原因。

板块二　自学思疑　初探问题

尊重认知规律，亲历感悟知识生成

问题呈现

重点问题，统领性的问题，直指学习目标的问题

【问题一】　影响旅游资源分布的因素有很多。不同国家、不同民族旅游资源的类型、特色、分布也各不相同。

1. 影响旅游资源分布的因素有哪些？

2. 为什么有些旅游资源的分布表现出明显的地带性特征？

3. 什么是“三 S”旅游？其旅游资源主要集中分布在哪里？

4. 南京，既是一座历史文化名城，又是一座旅游之城。就南京而言，人文地理因素对旅游资源分布的影响主要体现在哪些方面？

自主测评

检测自主学习效果，“学而时习之，不亦说乎”

1. 阅读图文材料，回答问题。

古北口镇位于北京市密云区东北部的燕山峰峦环抱之中，潮河自北向南穿过，背靠中国最美、最险的司马台长城。2016 年 10 月，古北口镇被国务院认定为首批“中国特色小镇”，成为京津冀地区重要的“观光＋休闲＋度假＋会展”等集多种功能于一体的特色旅游小镇，成为北京人闲暇时间观光度假的好去处。

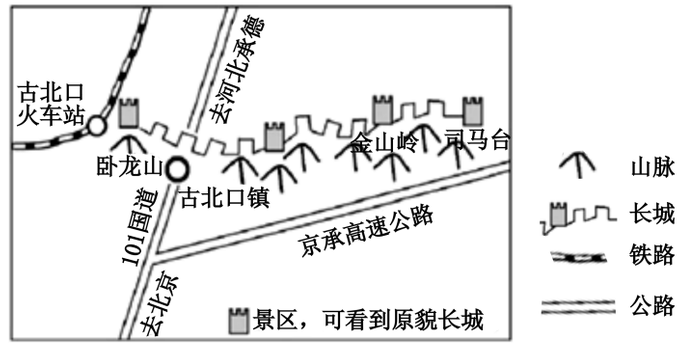

分析古北口镇成为北京人观光度假好去处的原因。

2. 读江淮城市群旅游景点分布示意图，回答问题。

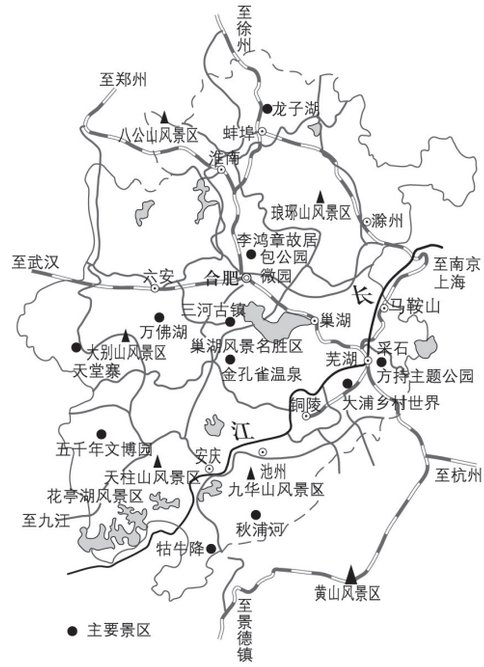

（1）据图说出该区域旅游资源的分布特点。

（2）针对本地区旅游资源的特点，为游客提出几项合理的游览建议。

板块三　合作互助　共析问题

发展创新思维，形成主动探究与合作的意识和能力

【问题二】　影响旅游资源分布的因素。

1. 填表，归纳影响旅游资源分布的自然地理因素。

旅游资源	分布规律	实例
依托于构造地貌形成的旅游资源	与构造格局有密切的关系	我国的雅鲁藏布江大峡谷、美国的科罗拉多大峡谷都分布在深大断裂带上；非洲的维多利亚湖、坦噶尼喀湖，我国的青海湖、滇池、洱海等断层湖主要分布在高原的构造带上
依托于气候条件的旅游资源	有明显的地带性	
海景旅游资源	主要集中分布在亚热带、热带的海滨地带	美国的夏威夷、美洲的加勒比海地区、欧洲的西班牙沿海和地中海沿岸地区、东南亚地区和中国的海南省等

2. 填表，归纳影响旅游资源分布的人文地理因素。

人文地理因素	影响	实例
古代的政治、经济和文化中心	一般来说，古都、古城及其附近拥有丰富的历史文化遗存	中国的八大古都，俄罗斯的圣彼得堡，意大利的罗马、佛罗伦萨、威尼斯等
人类一些重大行为所留下来的地理“痕迹”		古战场、古渡口、万里长城、古“丝绸之路”等
人类对自然资源和人文景观等的审美活动	提升了旅游资源的价值，这样的旅游资源多分布在人类活动稠密地区	古代诗人的赞美提高了庐山的知名度，《岳阳楼记》使岳阳楼成为千古名楼

3. 填表，归纳影响旅游资源分布的社会认知因素。

	影响	实例
社会认知因素		近年来，随着旅游度假热的兴起，在城市外围人口密度较小、生态环境较好的地区，涌现出众多的休闲度假村，使郊区旅游资源密度增大

【问题三】　填表，归纳我国旅游资源的分布特征。

分布特征	具体体现
分布广泛	我国各个省级行政区，都有著名的旅游资源
集中分布在东南部	
旅游点或旅游区呈明显的片状或带状分布	北京及河北北部、关中平原、四川盆地、长江下游地区是传统的旅游资源密集分布区。在我国东南部地区，初步形成了一些旅游资源密集区域
旅游资源的分布与交通状况密切相关	作为古代帝王行宫的骊山华清池，除了温泉等因素外，距离古都西安（长安）不远，交通便利，也是重要的构成因素

板块四　展示交流　探究问题

提高分析问题、解决问题的能力，科学答题

精题设计

精选精展，展一反三

【精题一】　2012 年，敦煌市全力打造“莫高窟旅游景区”“鸣沙山·月牙泉旅游景区”“雅丹旅游景区”“阳关旅游景区”“玉门关旅游景区”五个世界知名旅游品牌景区，并重点开发日韩、欧美客源市场。读图，回答问题。

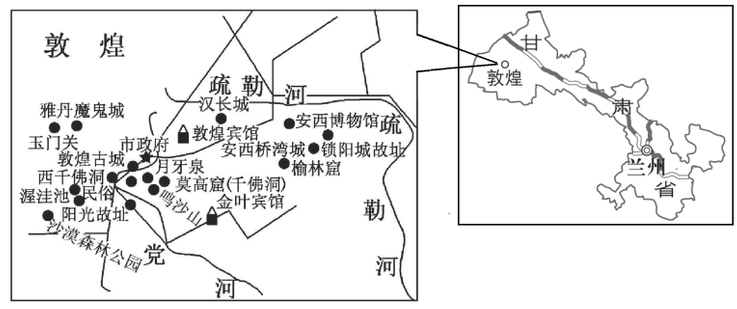

1. 敦煌市打造的五个世界知名旅游品牌景区中，按旅游资源分类，以自然景观为主的是哪两个旅游景区？

2. 过去敦煌市的旅游景区在世界上就具有很高的知名度，2012 年该市又全力打造了五个世界知名旅游品牌景区，就旅游业而言，与过去比较，这样的安排有什么优势？

3 敦煌旅游将日韩、欧美客源市场的开发作为重点的原因是什么？

思路点拨：1. 鸣沙山·月牙泉、雅丹都是以自然景观为主的旅游景区。

2. 这种安排是增加旅游资源的集群状况，使旅游资源的地域组合更加丰富、合理，增加吸引力。

3. 日韩、欧美经济发达，收入高，人们出游的愿望高。敦煌景观独特。

答案提示：1. 鸣沙山·月牙泉旅游景区、雅丹旅游景区。 2. 旅游资源的集群度更高，旅游资源的地域组合更加合理，旅游资源的内容更加丰富，能满足游客的不同需求。3. 日韩、欧美国家经济发达，游客个人和家庭收入相对较高；敦煌的旅游景观比较独特，对上述国家游客的吸引力比较大。

【精题二】 阅读图文材料，回答问题。

西安，古称长安，中国著名古都之首，举世闻名的世界四大古都（意大利罗马、希腊雅典、埃及开罗、中国西安）之一，是中国历史上建都朝代最多、时间最长、影响力最大的都城，是连接中西方的古老丝绸之路的东方起点，是中华文明的发祥地、中华民族的摇篮、中华历史文化的代表。先后有13个王朝在此建都，建都时间长达千年以上，其中，中国历史上大一统的秦、汉、隋、唐时代均以此为都城。下面为西安城墙景观图。



简述西安作为世界四大古都的价值，以及对西安旅游业发展的意义。

思路点拨：旅游价值主要有美学价值、科学价值、历史文化价值、经济价值，西安是古都，这里不考虑科学价值。西安发展旅游业的意义从经济效益、文化影响力、带动相关产业的发展等方面分析。

答案提示：价值：历史文化价值、美学价值、经济价值等。 意义：有利于历史文化名城的保护和传承；有利于西安旅游项目的开发与整合，促进西安旅游业的可持续发展；有利于塑造西安城市品牌，提升西安旅游业的影响力和竞争力；有助于对西安旅游业的未来发展进行科学定位。

探究问题

领悟性的问题，评价性的问题，挑战性的问题

【问题四】 博鳌亚洲论坛于2001年2月27日在海南省琼海市万泉河入海口的博鳌镇召开大会，正式宣布成立，海南博鳌为论坛总部的永久所在地。博鳌是万泉河的入海口，河海交融之处横亘着一条绝美的玉带滩。据说，玉带滩作为分隔河海最狭长的沙滩被载入吉尼斯世界纪录。来到万泉河的入海口就一定要登上博鳌风景区内的金牛岭，山上林木葱茏，怪石嶙峋；岭脚村寨错落，椰树成林。俯瞰远处，万泉河水与博鳌港的海水浑然天成。

1. 博鳌由不知名的小镇发展成为旅游业发达地区的原因是什么？

2. 海南岛的旅游资源有什么特色？

板块五　归纳总结　应用演练

归纳总结，直指课时要点

归纳总结

扎实地掌握本课知识的重点和要点，理解知识之间的逻辑关系

- 旅游资源分布
  - 影响旅游资源分布的因素
    - 自然地理因素
      - 自然地理条件
        - ①_____：构造地貌形成的旅游资源
        - 依托于②_____条件的旅游资源的分布表现出明显的地带性
        - 海景旅游资源的分布明显地受到海陆地形和气候因素的影响
    - 社会认知因素
    - 人文地理因素
      - 古代的政治、经济和文化中心，对当代旅游资源的分布具有重大影响
      - 人类一些重大行为所留下来的地理“痕迹”，本身就是旅游资源
      - 人类对自然资源和人文景观等的审美活动，提升了旅游资源的价值
  - 中国旅游资源的分布特征
    - ③_____
    - 集中分布于东南部
    - 旅游点或旅游区呈明显的片状或带状分布
    - 旅游资源的分布和交通状况密切相关

应用演练

应知应会的知识和技能

1. 阅读材料，回答问题。

2018 年春节，阆中民俗舞蹈《亮花鞋》亮相央视春晚，阆中古城旅游市场随之火爆，7 天共接待游客 1358 万人次，酒店、客栈、民宿入住率超过 98%，日均入阆车流量近 20 万车次，出现一床难求、一车位难求的现象。大多数游客陶醉在古城风采、三国文化、民俗风情之中尽兴而归；也有部分游客抱怨核心景区游客太多，旅游内容参与度不高、深度不够，只能走马观花。

对阆中古城提高旅游竞争力提出建议。

2. 阅读图文材料，回答问题。

材料一 张家界位于湖南西北部的武陵山腹地，处于云贵高原隆起区与洞庭湖沉降区之间，由石英砂岩构成。由于大自然的作用，逐步形成了高低悬殊、奇峰林立、万石峥嵘的自然景观。

春天的张家界芳草鲜美、落英缤纷；溯金鞭溪，游十里画廊；探黄龙洞，体会武陵人进入桃花源的惊喜。秋天的张家界天高云淡，层林尽染，此时正是猕猴桃、蜜橘等美味水果成熟的时节。相对而言，夏季高温多雨，冬季寒冷，舒适度稍逊于春秋季。

材料二 张家界景点分布示意图

（1）说出去张家界旅游的最佳季节。

（2）描述张家界自然景观的形成过程。

（3）分析张家界旅游开发的有利条件。

3. 阅读图文材料，回答问题。

2014 年 6 月，京杭大运河申遗成功。京杭大运河山东段流经鲁西南 5 市，包括 8 段共 180 余千米的河道以及 15 处遗址点，大运河将沿线遗址点及周边景点连接起来，形成纵贯鲁西南的旅游景观带。下面为京杭大运河山东段及其周边旅游资源分布示意图。

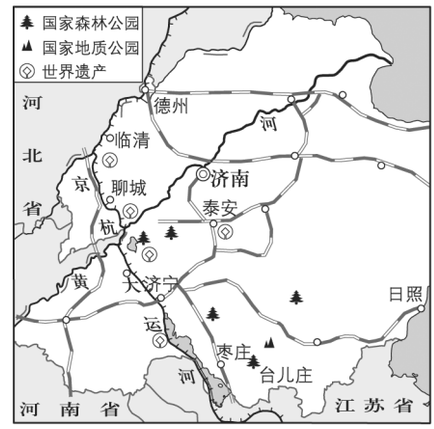

（1）说出京杭大运河山东段旅游资源开发的有利条件。

（2）分析鲁西南沿运河景观带的开发对当地经济、社会和文化发展的意义。

（3）为更好地体现京杭大运河的价值和风貌，简述当地在旅游发展中应采取的措施。

4. 阅读图文材料，回答问题。

深秋时节，夕阳之下，金色的胡杨林把塔里木河两岸装点得如诗如画。漫步在金色的胡杨林中，仿佛进入了美丽的童话世界。下面为胡杨林景观图。

（1）塔里木河胡杨林景观十分美丽，游客却比较少，试分析其原因。

（2）简述当地开发旅游资源对经济发展的影响。

第一章核心知识点

知识点一　旅游活动的基本要素和基本类型

1. 基本要素

主体——旅游者，媒介——通过提供服务联系主体和客体，客体——旅游资源、基础条件。

2. 基本类型

分类标准	类型
地域范围	国际旅游、国内旅游，前者又分出境旅游和入境旅游
旅游目的	观光旅游、度假旅游、事务旅游、专项旅游

知识点二　旅游业对社会经济发展的作用

1. 旅游业促进经济发展

（1）增加外汇收入，回笼货币资金。

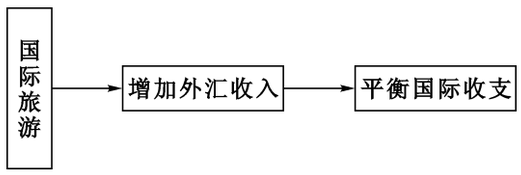

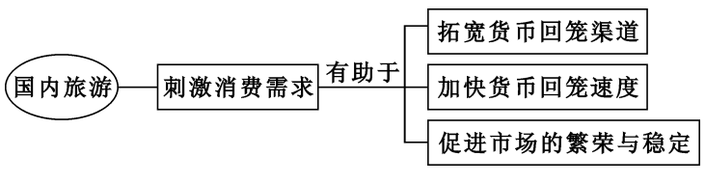

（2）增加经济收入，缩小地区差异。

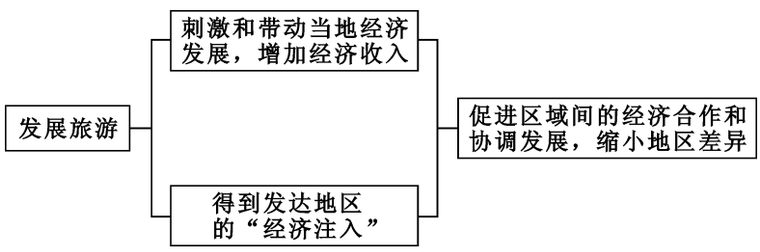

（3）带动相关行业发展，促进产业结构优化。

意义	←带动发展→	行业
有利于调整产业结构，改变资源消耗型经济增长模式，实现各产业部门均衡发展	旅游业	不仅能带动酒店、餐饮、娱乐、交通运输、通信、房地产、商贸、金融等第三产业的发展，而且能促进农业、工业和旅游教育等相关部门和行业的发展

2. 旅游业促进文化繁荣

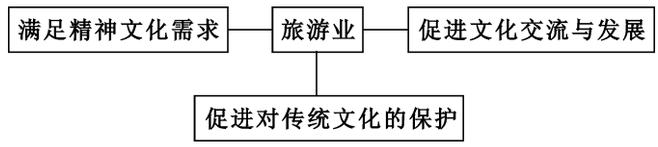

3. 旅游业促进社会进步

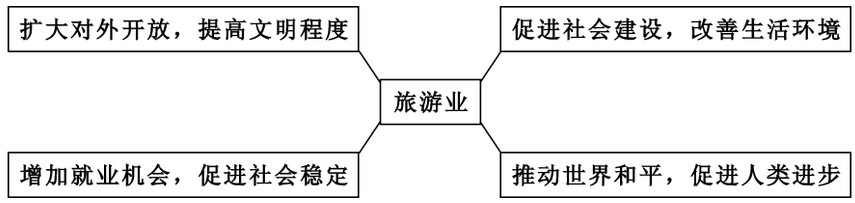

4. 旅游业对区域环境的作用是双向的

（1）旅游业对环境保护的促进作用：促进了历史古迹、古建筑、纪念馆的修复，对自然资源的保护提供了推动力，促使采取行政法规和规划措施来保护环境成为可能。

（2）旅游业与环境的关系处理不善会导致环境恶化：如每到旅游旺季，游客爆满，很多景区承受的人流压力过大，造成旅游环境的混乱和污染，降低了旅游质量。

知识点三　旅游资源的类型与分布

1. 旅游资源的特点

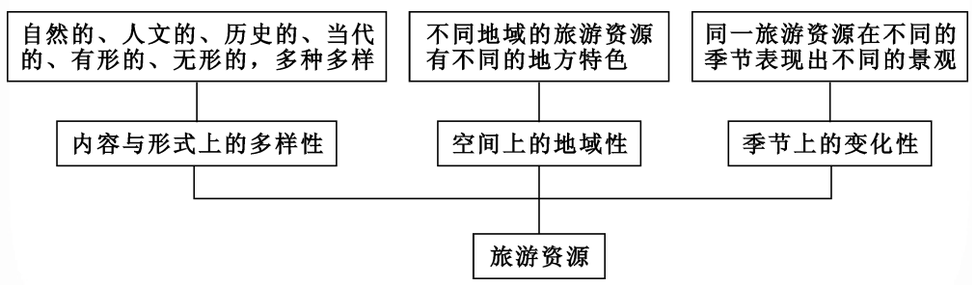

2 旅游资源的类型

根据旅游资源的本质属性，一般将旅游资源划分为自然旅游资源和人文旅游资源两种类型。它们的种类、形成过程、旅游价值、表现形式不同。

	种类	举例	旅游价值	核心	表现形式	形成过程
自然旅游资源	地质地貌景观类	路南石林	对于探险猎奇、游乐、疗养等性质的旅游具有重要意义	地貌景观	具体形式	自然过程
	气象气候类	黄山云海				
	水域风光类	杭州西湖				
	生物景观类	黄山迎客松				
	宇宙类	陨石				
人文旅游资源	古迹和古建筑	北京故宫	表现在教育性（知识、文化的）旅游方面的意义	建筑景观	具体形式和精神文化形式	历史过程及当代人类活动
	现代建筑成就	上海东方明珠塔				
	休闲、求知、健身	动物园				
	购物	庙会				

知识点四　旅游资源的地理成因分析

各种旅游景观，都是自然因素和人文因素综合作用的产物。

景观类型		形成原因	举例
自然景观	地质地貌景观	地质构造、岩性和地貌因素，对自然景观形成有重要作用	断块隆升形成了雄伟的泰山、恒山、华山、庐山等，构造断陷形成鄱阳湖、青海湖等，火山活动形成了五大连池等；在石灰岩分布区，流水常年溶蚀形成了贵州溶洞、云南石林等
	气象与气候景观	冷、热、干、湿和风、云、雨、雪等天气现象，本身就是自然景观；气候对风景地貌的雕塑、风景水体的形成、观赏性动植物的生长与演化，也有着控制性影响	哈尔滨的冰雪、长春的雾凇、黄山的云海等
	水域风光	水文因素是旅游景观的重要组成部分，水动力作用是许多旅游景观形成的重要原因	海洋、湖泊、泉水、瀑布和冰川等都是重要的旅游景观类型，水的溶蚀作用形成喀斯特地貌，河流下切作用形成了长江三峡；海洋的潮汐作用形成了钱塘江大潮
	生物景观	取决于气候、水文、土壤和地形条件的综合影响	各类自然保护区、森林公园和特色生物景观，都是富有生机的自然景观不可缺少的组成部分
人文景观		自然地理环境造成了人文景观的地域差异；各地不同的历史文化、人口特征、生活习惯和政治经济状况，形成了丰富多彩的人文旅游景观	我国西北地区气候干燥，有利于壁画的保存，而南方地区气候潮湿，以雕刻造像为主；各民族的风俗民情、宗教文化景观、各地的生活习俗等形成了不同的人文旅游景观

第一章综合测试题

1. 阅读图文材料，回答问题。

德国鲁尔区在转型过程中，利用原有的工厂建筑、生产设备等开发出了具有独特观光、休闲等功能的工业遗产旅游产品，吸引了世界各国的众多游客前来游览，并从中了解现代工业化历史和工业文明。图 1 为埃森一座焦化厂内高 55 米的双轴提升井架，被称为“鲁尔区之塔”；图 2 为杜伊斯堡景观公园中的工业遗迹。

图 1

图 2

分析鲁尔区发展工业旅游的有利条件。

2. 阅读材料，回答问题。

全域旅游是旅游产业的全景化、全覆盖，是产品丰富、空间有序、资源优化、产业协调发展的科学的系统旅游。

2017 年，央视春晚分会场落户四川凉山彝族自治州，带动了凉山州的春节旅游。此后，当地深入实施“全域旅游”发展战略，推出了“火把狂欢之旅”旅游线路：中国彝族火把节之乡普格—茶马古道上的德昌凤凰城—红军长征经过的皎平渡口—会理会议遗址，吸引了大量游客。

分析在发展全域旅游过程中“火把狂欢之旅”旅游线路火爆的原因。

3. 阅读图文材料，回答问题。

材料一 埃及政府非常重视发展旅游业。旅游业已成为埃及第一大创汇来源，大大高于其他几个外汇收入来源——石油出口收入、苏伊士运河通行费收入、海外劳工汇款。旅游业已成为埃及最重要的支柱产业。

材料二 埃及是举世闻名的四大文明古国之一，素有“世界名胜古迹博物馆”之称。在尼罗河谷地、地中海沿岸、西部沙漠等地发现了大量的埃及古代文明遗迹。神秘莫测的金字塔和狮身人面像司芬克斯之谜、天外飞仙般的巨大壁画、扑朔迷离的象形文字等都是古埃及文明的象征。

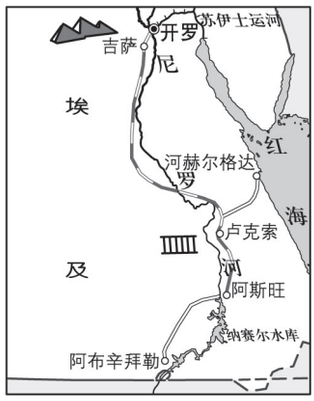

（1）埃及政府为什么十分重视发展旅游业？

（2）埃及旅游业发展的有利条件表现在哪些方面？

4. 阅读材料，回答问题。

泸沽湖像一颗熠熠生辉的绿宝石，镶嵌在云南省丽江地区的万山丛中。它是丽江玉龙雪山风景名胜区的重要组成部分，被专家誉为“中国西南的一片净土”“高品位世界级的旅游资源”。这里素有“女儿国”的美称。长期以来，以母系家庭以及阿夏婚姻（即走婚）为主要特征的摩梭风情，是现代社会罕见的原始母系社会婚姻形态的“活化石”。优美的自然风光、独特的人文风情，构成了泸沽湖地区以“情、山、水”为主题的旅游特色，磁铁般吸引着国内外众多的游客。

（1）泸沽湖地区旅游人数的增加体现了现代旅游的哪些特征？

（2）该地区的旅游资源突出体现了哪些特征？

（3）众多的游客来到这里，会对这里的地方文化产生怎样的影响？

5. 阅读材料，回答问题。

天津中心地区拥有周恩来、邓颖超纪念馆，古文化街，五大道，水上公园等旅游资源。近年来，京、冀等地来津的游客众多，仅周恩来、邓颖超纪念馆就接待游客达 1000 多万人次。

从旅游资源本身的角度，说出参观周恩来、邓颖超纪念馆人数众多的原因。

6. 阅读图文材料，回答问题。

材料一　济州岛位于朝鲜半岛的西南海域，是韩国的第一大岛，因其优越的地理位置和温和舒适的天气，被誉为“东方夏威夷”。近年来，来自各国的游客数量不断增多。

材料二　济州岛旅游景点分布示意图

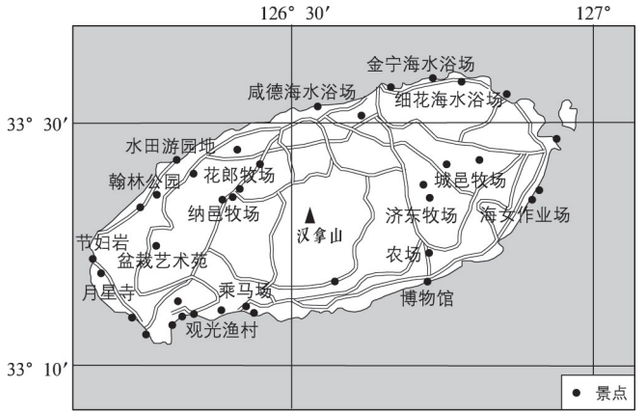

（1）分析济州岛吸引各国游客的主要原因。

（2）分析韩国政府积极发展济州岛旅游业的重要意义。

第二章　旅游景观的欣赏

★ 本章学习导航

先行一步，步步先行

内容概要　学前早知道，学后更知道

旅游景观的欣赏，是解析旅游主体如何更好地运用一定的感官系统，作用于服务客体，并获得最佳的旅游效果。本章内容是继第一章讲述旅游资源的概念、类型与分布后，再对旅游资源进行的有实用价值的评价，是从评价的角度对旅游资源认识的深化，属于旅游地理中的基础知识、基本技能部分。

旅游景观的欣赏是一个实践性很强的感知和发现美的过程，旅游本身就是一种审美活动，游人通过对旅游景观的感知和体验、认同和求异、联想和创新，获得感官上、情绪上、心灵上的愉悦和满足。旅游欣赏需要一定的审美情趣与审美能力，所以教材讲述旅游景观的欣赏方法时首先提到的是培养审美情趣，提高我们感知发现美、理解欣赏美的能力。

点击《课标》　学业评价的标准，考试命题的依据

节	标准	学习建议
旅游景观欣赏方法	●举例说明旅游景观的观赏方法。 ●运用资料，描述若干中外著名旅游景区的景观特点，并从地理角度说明其形成原因。	●收集世界和中国旅游景区的各种资料，在班级进行展示交流。 ●结合自己的旅游经历，交流欣赏旅游景观的亲身体验。 ●设计一条本地“一日游”的旅游线路。 ●由学生自己担任“导游”，开展一次体验性的导游活动。
中国名景欣赏		
国外名景欣赏		

学法指导　学海无涯，妙法为舟

1. 我们不要求全面掌握旅游景观的欣赏方法和系统掌握旅游景观的审美过程，只要求从自己的生活中举例说明旅游景观的欣赏方法，旅游景观的实例可以是自己亲身游览的也可以是通过各种媒体间接欣赏的。

2. 请以熟悉的世界遗产为例，从环境和文物保护等方面说出保护我国“世界文化与自然遗产”的重要性。

第一节　旅游景观欣赏方法

板块一　提出问题　引领目标

导入问题，直指课时重点

苏东坡在《题西林壁》这首诗中写道："横看成岭侧成峰，远近高低各不同。不识庐山真面目，只缘身在此山中。"

东坡居士身居山中，为什么却感到不识庐山真面目呢？

板块二　自学思疑　初探问题

尊重认知规律，亲历感悟知识生成

问题呈现

重点问题，统领性的问题，直指学习目标的问题

【问题一】　在一定的时间和空间内，由自然或人文的各构景要素共同构成的风景就是旅游景观。不同的旅游景观有不同的自然属性和文化属性。旅游过程就是旅游者对这些景观的观察、感知、想象，甚至理解和判断的思维活动过程。

1. 什么是旅游景观欣赏？

2. 旅游景观欣赏包括哪两个层次？

【问题二】　旅游活动要想玩得开心，游得尽兴，就要掌握景观欣赏的技巧和方法，它是学习国内外名景欣赏的基础。这些知识与技能在我们头脑里沉淀，便能形成一种地理素养。

1. 旅游景观的欣赏有哪些基本方法？

2. 在审美能力中，哪些是旅游审美最需要的？如何提升这些能力？

3. 我们要观赏水边景致时，选择什么样的位置最佳？

4. 到青海湖鸟岛观赏候鸟，选择在 5 月份，需用哪种欣赏方法？

自主测评

检测自主学习效果，“学而时习之，不亦说乎”

1. 阅读材料，回答问题。

沾衣欲湿杏花雨，吹面不寒杨柳风。杏花春雨是江南文化符号之一。而在我国新疆维吾尔自治区的绿洲中、河谷畔、峡谷里、雪山下、沙漠边，无处不见杏花的身影。杏花亦是“轮台大漠、铁马秋风”的新疆维吾尔自治区的象征。杏花的花期很短，仅为一周左右，开花最早的是吐鲁番和南疆西南部的和田、莎车、麦盖提，时间在3月底；南疆西北部的喀什到轮台以及鄯善、哈密等地，4月上旬开花；拜城、焉耆、新源则要到4月中旬才能开花。

（1）从旅游资源的角度分析新疆维吾尔自治区发展旅游业的优势条件。

（2）在新疆维吾尔自治区观赏杏花要注意哪些问题？

2. 阅读图文材料，回答问题。

“稻田艺术画”是先设计好要表现的图形，再利用先进的3D技术和透视技术，用矢量法定点定桩连线人工填色，在稻田种植不同品种、有着不同颜色叶子的水稻而成。下面为稻田艺术画景观图。

（1）为达到最佳观赏效果，说出稻田画的观赏方法。

（2）在条件适宜的区域，如何利用稻田画产生经济效益？

板块三　合作互助　共析问题

发展创新思维，形成主动探究与合作的意识和能力

【问题三】　大多数旅游景观是立体的和多层面的，应根据具体情况选择最佳的观赏角度，才能感受旅游景观的外表之美和内在魅力。

1 旅游景观有各自的自然属性和文化属性，对其认识和欣赏的角度也必须因地制宜，抓住要点，有所侧重。

观赏位置		景观类型	观赏效果
远望	远眺	峰峦	雄伟、峻峭、奇特
			高低错落，弯曲流畅，形成线与面的完美结合
	俯瞰、远望	江、河、大海	观其旷景，体会远望情趣
低看	平视		沿湖建筑物越多、越高，湖面则显得越小、越美
	近看	较小的湖沼池塘	临廊、榭观水中倒影，体验天地之美妙
	乘船沿水路观赏	山水组合景观	水流船动山移，如游画中，心旷神怡
特殊	特定观赏点		只有在特定观赏点才能获得某种形象
	置身其中	山中的峡谷、溶洞、一线天	近观方知其妙
	仰视		适当距离仰视，以兼收其形、色、声、动等美感

2 许多自然景观随时间、天气、季节的变化而展示出不同的自然美，观赏自然美景要把握季节、时间及气象变化，体验大自然中的色彩美、静态美和动态美。人文景观同样也要把握时机。

景观类型	景观举例及其最佳观赏时机
随季节而变化的自然景观	清明踏青、重阳登高、秋赏红叶、冬观蜡梅；杭州西湖——春季最好（桃花盛开，嫩柳披金，苏堤白堤，桃柳间杂，美不胜收）；北京西山观红叶——金秋季节最佳；“冰城”哈尔滨——冬季；松花江太阳岛——夏季；海南岛——每年的11月前后（气候犹如春末夏初）；黄山、庐山——宜夏季观赏（夏季雨水多，山中多云雾，景致富于变化，且兼收避暑之效）
随气象和时间变化的自然景观	日出——凌晨，落霞——黄昏；云海、彩虹——雨过天晴时，飞瀑——雨季；溪泉的水汽蒸腾，林间的浓绿欲滴，山石的云雾缭绕，奇峰的霞光照耀——朝暮观赏；钱塘江大潮——每年的农历八月十八；青海湖鸟岛——每年5月；山东蓬莱的海市蜃楼、四川峨眉山的佛光——特定的气象条件下出现
人文景观	

板块四 展示交流 探究问题

提高分析问题、解决问题的能力，科学答题

精题设计

精选精展，展一反三

【精题一】 阅读图文材料，回答问题。

阿尔蒂普拉诺（或称“高平原”）是位于玻利维亚安第斯山区的一片辽阔的高原，海拔在3000米以上。在高原南端有一些冰川融化时留下的盐湖，其中最大并最令人印象深刻的就是乌尤尼盐沼——海拔3656米，长150千米，宽130千米，面积9065平方千米，为世界上最大的盐层覆盖的荒原。在雨后湖面像镜子一样，反射着好似不是地球上的、美丽的令人窒息的天空景色，这也就是传说中的“天空之镜”。甲为乌尤尼盐湖附近地区年内各月气温和降水量分配图，乙为乌尤尼盐沼景观图。

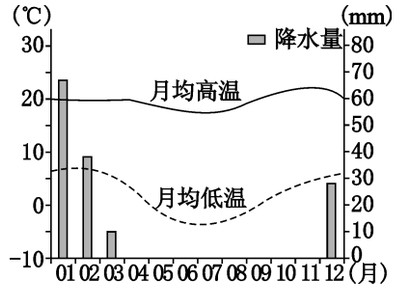

甲

乙

指出“天空之境”的最佳观赏时间，以及到该地游玩应注意的问题。

思路点拨：阅读材料可知，乌尤尼盐沼位于玻利维亚，在雨后湖面像镜子一样，反射着好似不是地球上的、美丽的令人窒息的天空景色，这也就是传说中的“天空之镜”，因此可知，最佳观赏时间为当地的雨季。读甲图可知，雨季时间是12月～次年3月。该地地处高原，海拔在3000米以上，昼夜温差大，要注意防寒保暖；高原海拔高、光照强，应注意携带墨镜等防晒用品，防止晒伤；雨季多对流天气，应注意防范冰雹、暴雨灾害；高原空气稀薄，容易缺氧，应注意携带预防高原反应的药品及氧气瓶等。

答案提示：最佳观赏时间：每年的12月～次年3月。 应注意的问题：地处高原，昼夜温差大，注意防寒保暖；高原光照强，注意携带墨镜等防晒用品，防止晒伤；雨季多对流天气，注意防范冰雹、暴雨的伤害；高原空气稀薄，注意携带预防高原反应的药品及氧气瓶等。

【精题二】 石窟艺术在我国已有数千年的历史。读我国三大石窟分布示意图，回答问题。

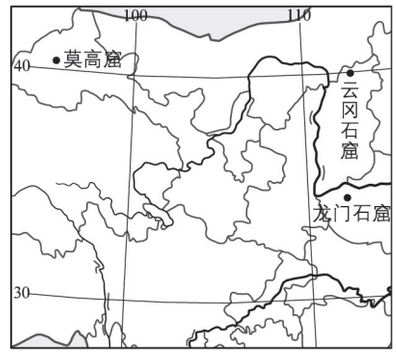

1. 观赏石窟的主要方法有哪些？

2. 莫高窟附近的胡杨林，每年都会吸引大量游客到此游览。要观赏至纯至美、层林尽染的金色胡杨之美和夕阳霞光，应注意什么？其原因是什么？

思路点拨：1. 莫高窟的雕塑有高达33米的坐像，也有十几厘米的小菩萨，要选择合适的观赏位置；抓住景观特色，充分了解莫高窟的美学价值、历史文化价值，才能获得最佳的观赏效果。

2. 要把握观赏时机。金秋十月是观赏胡杨林的最佳季节；夕阳西下，是观赏霞光的最佳时机。

答案提示：1. 选择观赏位置，抓住景观特色。　2. 应注意把握观赏时机。　原因：金秋十月是观赏胡杨林的最佳季节；夕阳西下，是观赏霞光的最佳时机。

探究问题

领悟性的问题，评价性的问题，挑战性的问题

【问题四】　在旅游过程中，旅游者怎样才能体会到旅游资源的形式美、朦胧美、色彩美、动态美、声音美等多种美感？

板块五　归纳总结　应用演练

归纳总结，直指课时要点

归纳总结

扎实地掌握本课知识的重点和要点，理解知识之间的逻辑关系

旅游景观欣赏方法：
- 培养审美情趣
- 提高审美能力：包括①_____、②_____、③_____三个方面
- 优选欣赏角度：大多数旅游景观是立体的和多层面的，应根据具体情况选择最佳的观测角度，以充分感受外表之美和内在魅力
- 把握观赏时机：旅游景观的各个要素，以多种对比组合给人以美的感受。其中④_____的对比、张与弛的对比、稳定与变幻的对比等，尤其引人入胜
- 品味文化内涵：在欣赏旅游景观时，我们要了解其来龙去脉，对其进行深入分析，运用文化素养和以往经验去细心品味，才能领略其中的真意

应用演练

应知应会的知识和技能

1. 阅读图文材料，回答问题。

材料一　象鼻山、伏波山、叠彩山是被漓江串起的三颗“明珠”。下面两幅图示意桂林的景观。

甲

乙

材料二 桂林自驾旅游已呈旺势，云南省、贵州省、湖南省、广东省均为广西壮族自治区的邻省，但来桂林的外地自驾游客却以广东省为主，这体现了桂林自驾旅游中短程旅游的优势。

（1）假如你是一名导游，请告诉游客应如何欣赏上面两幅图所示的景观。

（2）分析来桂林的外地自驾游客以广东省为主的原因。

2. 读京沪高铁及沿线主要旅游城市示意图，回答问题。

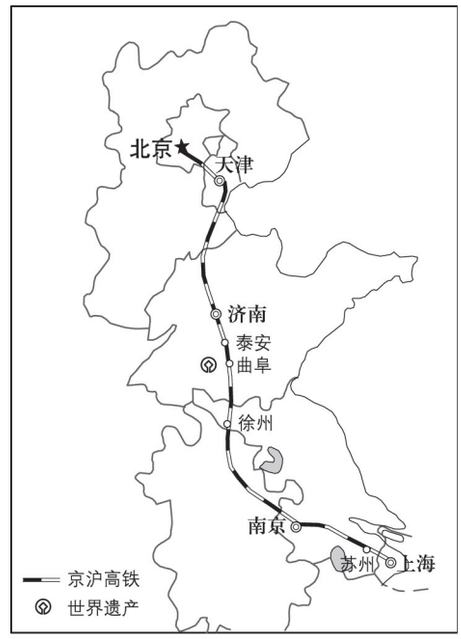

（1）在高铁沿线景区中，游客倾向于选择世界遗产主要考虑的因素有哪些？

（2）游客为获得泰山日出的最佳观赏效果，应注意哪些方面？

（3）节假日期间，泰山景区游客众多，形成“爆棚”现象，可能产生的主要环境问题有哪些？

3. 阅读图文材料，回答问题。

雾凇是雾气和水汽遇冷凝结在枝叶上的冰晶。雾凇岛是松花江上的一座小岛，是观赏、拍摄雾凇的最佳地。雾凇岛的最佳观赏季节是每年的 12 月下旬到次年 2 月底，每天最理想的雾凇拍摄时间为 10 时～11 时 30 分。

（1）简要分析雾凇岛冬季易形成雾凇的原因。

（2）冬季前往雾凇岛旅游应做哪些方面的准备？

4. 阅读图文材料，回答问题。

篁岭是美丽的山居村落，位于婺源东北部，篁岭因“晒秋”闻名遐迩。当秋日的阳光把晒楼唤醒的时候，一家家晒楼把鲜红的辣椒，翠绿的豆角，金黄的玉米、稻谷、黄豆……晒起来，让整个山村变成色彩斑斓的画卷。篁岭人家“晒秋”没什么讲究，赶上什么就晒什么，恨不得把整个秋天的收获都晒出来。

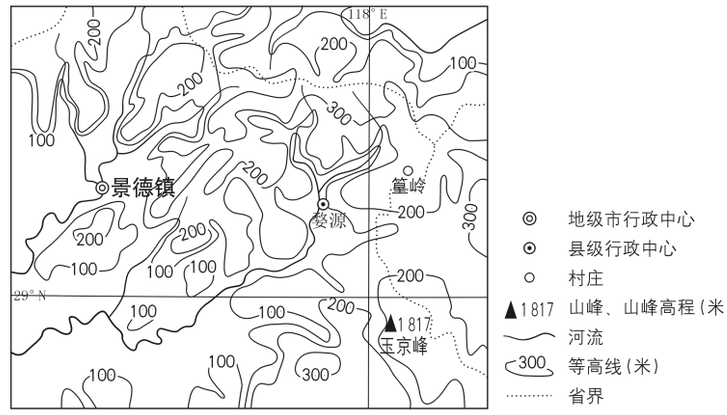

分析“篁岭晒秋”的旅游价值及开发的有利条件。

第二节　中国名景欣赏

第 1 学时　中国的名山

板块一　提出问题　引领目标

导入问题，直指课时重点

西双版纳野象谷，因常有野象出没而得名。景区处于勐养自然保护区东西两片区的结合部，鸟兽众多，为各种动物活动的通道。目前，该景区的观光方式除高空索道外，还包括地面步行道、高架巡护栈道两种方式，如下面的景观图所示。

从上述两种观光方式中选择一种，评价其优缺点。(可从旅游者、景区设计者角度思考)

板块二　自学思疑　初探问题

尊重认知规律，亲历感悟知识生成

问题呈现

重点问题，统领性的问题，直指学习目标的问题

【问题一】　我国是一个山地资源比较丰富的国家，2/3 的国土面积是山区，漫长的沧桑演变和浩瀚的历史长河造就了众多的名山。

1. 我国的名山通常可分为哪几种类型？

2. 山西省有哪些名山？

自主测评

检测自主学习效果，“学而时习之，不亦说乎”

1. 阅读图文材料，回答问题。

泰山是我国著名的风景名山，被列入第三批世界地质公园，著名景观有瀑布、旭日东升、云海玉盘等。与我国中西部地区的许多山峰相比，海拔1500多米的泰山并不突出，然而它却能位居五岳之首。泰山也是历代帝王封禅最多的山峰。右为泰山景观图。

（1）山西一名游客打算到泰山游玩，请告诉他来泰山游玩的最佳季节及其理由。

（2）泰山位居“五岳”之首，是历代帝王封禅最多的山峰。试分析其原因。

2. 右图为著名的庐山三叠泉瀑布景观图。读图，回答问题。

（1）从该地的地形和地质条件分析三叠泉瀑布景观形成的原因。

（2）说出观赏三叠泉瀑布景观的最佳时间及其理由。

板块三　合作互助　共析问题

发展创新思维，形成主动探究与合作的意识和能力

【问题二】　山脉是地形的骨架，又是旅游景观的重要组成部分。我国的名山，历经数千年民族文化的熏陶和历史上君王的登临及文人的题咏，更使其特色彰显，蜚声中外。填表。

1. 填表，了解“五岳”的特点、位置。

五岳	特点	位置
东岳泰山	形成地质年代久远，科学价值高；雄伟的块状山地，美学价值突出；历史悠久，文物众多，历史文化价值高	山东省中部泰安市
西岳华山		陕西省东部华阴市东南
北岳恒山	主庙北岳庙，供奉北岳大帝（恒山神），附近有悬空寺	山西省东北部浑源县
南岳衡山		湖南省南部长沙以南衡山县

中岳嵩山	主要特点是“峻”，山上有“少林寺”，为“少林武术”发源地	河南省中部登封市

2 填表，了解四大佛教名山的特点、位置。

四大佛教名山	位置	特点
五台山	山西省五台县东北	我国规模最大的佛教名山
峨眉山		山势逶迤，地貌壮险，峨眉天下秀，佛教建筑众多
九华山	安徽省青阳县西南	奇峰罗列，峥嵘灵秀，历史悠久
普陀山		海中仙境，既是佛教名山，又是海岛风景旅游胜地

板块四 展示交流 探究问题

提高分析问题、解决问题的能力，科学答题

精题设计

精选精展，展一反三

【精题一】 阅读图文材料，回答问题。

周庄是位于江苏省苏州市的一个古镇，下面为周庄景观图。

1 指出欣赏周庄水乡烟雨朦胧的最佳季节，及其体现出的自然景观的主要美感。

2 在旅游活动设计中，周庄应以短期旅游为主还是长期旅游为主？为什么？

思路点拨：1. 周庄位于长江三角洲地区，春季受气候条件影响，草木逢春，小桥、流水具有形象美、动态美、色彩美。

2. 结合周庄所处的地理位置，从旅游市场、旅游资源接待能力、当地的环境容量等方面考虑，在旅游活动设计中，应以短期旅游为主。

答案提示：1. 季节：春季。 主要美感：形象美、动态美、色彩美。 2. 应以短期旅游为主。 原因：周庄位于长江三角洲区域，距离客源市场较近，旅游线路短；旅游资源类型单一；景区地域空间狭小，旅游接待能力小；旅游环境容量有限。

【精题二】 阅读图文材料，回答问题。

1911 年天山发生了里氏 7.7 级的大地震，地震引发的山体滑坡形成了卡因德湖，更奇特的是很多树木在地震中折断，仍然坚强地倒插在湖水中，湖水非常冰冷，低温使沉入湖中长达 100 年的树枝依旧如初，水下的藻类缠缚在树枝上像树叶一样，形成了壮观的“湖底森

林”，一年四季都吸引着大量的游客前来参观，冬季更是观赏“湖底森林”的最佳时间。下面是“湖底森林”示意图。

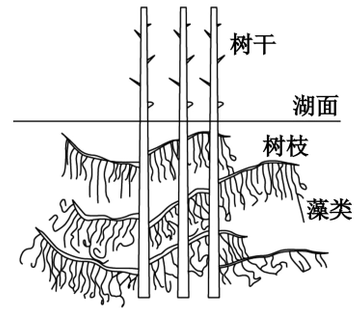

分析冬季有利于游客观赏“湖底森林”的原因。

思路点拨：湖泊的水文条件季节变化大，从湖泊冬季的水文特点如水位、结冰状况、能见度等方面分析。冬季气温低，湖面结冰，方便游客在湖面上行走，可多角度近距离观赏；冬季湖水补给少，水位较低，水下树木距离湖面较近，观赏的清晰度大；冬季气温低，水下浮游生物较少，湖水的透明度大；湖面结冰，水下不受风力影响，湖水较稳定，利于观赏；冬季风力大，易将湖面上的积雪等杂物吹走；冬季的大风、冰雪打磨冰层，提高了冰面的透明度。

答案提示：冬季湖面结冰，方便游客在湖面上行走，可多角度观赏；湖面结冰，水下不受风力影响，水下较稳定，利于观赏；冬季湖水补给少，湖水位较低，水下树木距离湖面较近，观赏的清晰度大；冬季气温低，水下浮游生物较少，观赏的透明度大；冬季风力大，易将湖面上的积雪等杂物吹走，利于观赏；冬季的大风、冰雪打磨冰层，提高了冰面的透明度，利于观赏。

探究问题

领悟性的问题，评价性的问题，挑战性的问题

【问题三】 九寨沟位于岷山主峰雪宝顶（海拔 5588 米）北侧。第四纪冰川在巨厚的石灰岩基础上雕塑了现代地貌的雏形，其后在地壳抬升和流水侵蚀切割、溶蚀的共同作用下，形成了山高谷深的喀斯特地貌（石灰岩受到流水侵蚀、溶蚀和淀积等综合作用，形成的独特地形）景观。景区在海拔 2000 米到 4700 米，林木繁茂，湖泊、泉、瀑错落其间。

1. 九寨沟景区的深秋景观有怎样的特点？

2. 九寨沟深秋景观形成的主要原因有哪些？

板块五　归纳总结　应用演练

归纳总结，直指课时要点

归纳总结

扎实地掌握本课知识的重点和要点，理解知识之间的逻辑关系

中国的名山
- 五岳：东岳①_____，南岳②_____，西岳③_____，北岳④_____，中岳⑤_____
- 佛教名山：峨眉山、五台山、⑥_____、⑦_____
- 道教名山：武当山、青城山等
- 其他名山：庐山、神农架、鼎湖山等

应用演练

应知应会的知识和技能

1. 阅读图文材料，回答问题。

武当山位于湖北十堰丹江口市境内，主峰天柱峰海拔 1612 米，属亚热带季风气候，年降水量 900～1200 毫米，多集中于夏季，常出现暴雨，为湖北省暴雨中心之一。昔日的道教圣地如今已成为人们旅游观光的好去处。每年农历三月三的武当山庙会都会举办一系列的融道家文化、武当武术、民俗风情为一体的民间文化活动。每年 9 月或 10 月，政府都会举办为期 4 天或 1 个月的武当山国际旅游文化节，扩大了对外宣传，促进了武当山旅游业的发展。下面为武当山主要客源地游客比例示意图。

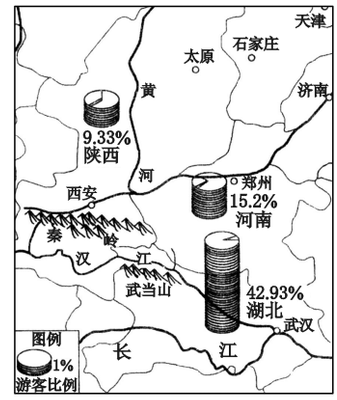

（1）分析春秋两季是武当山旅游最佳季节的原因。

（2）河南、陕西都是湖北的邻省，但来武当山的游客数量却相差很大，试分析其原因。