模块整体感悟

模块知识梳理

贯彻整体认知原则和学科思想

在寒、暑假期间，很多同学或多或少地参加过一些夏令营活动，有些同学在父母的带领下外出，游览过祖国的名山大川，踏访过城市与乡村，参观过名胜古迹，考察过工厂与果园，并收集了大量的资料，写过调查报告。这些活动概括起来说，都属于现代旅游。旅游经济是现代经济的一个重要组成部分。

本模块我们学习的主要内容是旅游地理。重点阐述旅游的作用及其影响，旅游资源的开发与评价，如何对中外著名旅游景观进行欣赏，旅游与环境保护，如何做一名合格的现代旅游者。这是我们将来从事旅游工作或者作为一名普通旅游者必须掌握的基本知识。

从以下知识结构可以看出：首先，要了解旅游的基本组成要素（旅游者、旅游资源、旅游业），为进一步学习旅游资源开发与旅游环境保护奠定基础，最终使我们成为一名合格的现代旅游者。其次，要把重点放在旅游资源的开发与评价、旅游环境保护以及旅游规划和旅游景观的欣赏上，并注意它们之间的联系。

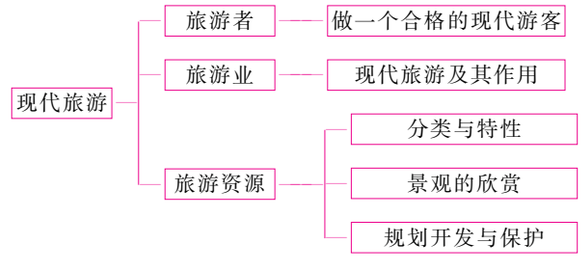

学法点拨

贯彻整体认知原则和学科思想

1. 要有良好的地理思维。学习本模块，仅仅依靠传统的死记硬背是行不通的，要重点把握地理概念、原理、规律，善于思考、提问、合作、探究、实践，要有学有所用的意识。

2. 抓住地理学科的特点。学会运用图表、资料、地图加以分析，尤其要注意把教材中的文字和图表结合起来学习，做到图文转化。

3. 要注意联系生活，联系实际。现代旅游是一门学问，是从生活中来的，还

要到生活中去。要善于运用案例学习法进行旅游规划、旅游开发、旅游环境保护，促进旅游业的可持续发展。

4. 多角度、多元化地学习地理。观察、调查、收集、整理资料，从中总结规律，实地考察和充分利用网络媒体是学好本模块的重要手段。

5. 学习思路。自学教材，联系实际；发现问题，合作探究；教师指点，解决问题；深化拓展，灵活运用；亲身体验，掌握知识；具体分析，学以致用。

第一章　现代旅游及其作用

★ 本章学习导航

先行一步，步步先行

内容概要　学前早知道，学后更知道

本章内容以现代旅游及其作用为主，更多的则是在分析旅游业对经济、社会、文化产生的影响，贯穿人地关系，落实《课程标准》中“阐明旅游业的发展对社会、经济、文化的作用”。由于在必修内容中没有涉及旅游地理的内容，同学们对旅游的概念既熟悉又陌生，因此，先引入现代旅游的内容，然后重点落实到旅游业对区域发展的意义上。

本章在内容和选材上突出了材料的新颖性以及所学内容的生活化和大众化，促使我们思考旅游业给区域发展带来的影响，凸显了地理学的区域性以及《课程标准》中要求的“学习生活中有用的地理”这一理念。

点击《课标》　学业评价的标准，考试命题的依据

节	标准	活动建议
现代旅游	●阐明旅游业的发展对社会、经济、文化的作用。	●收集世界和中国旅游景区的各种资料，在班内进行展示交流。
现代旅游对区域发展的意义		

学法指导　学海无涯，妙法为舟

1. 通过网络和媒体，收集资料，了解世界旅游业的发展历史，了解中国现代旅游业的发展历程。

2. 对自己比较熟悉的旅游业较发达的某一地区进行实地考察、调查研究，分析该地区旅游业发达的原因及给当地带来的影响。

3. 结合本地区的实际情况，发挥自己的想象力，策划设计一些符合本地区的旅游项目，体会旅游目的的娱乐化是现代旅游发展的一大原动力。

4. 通过具体事例，说明旅游活动对环境的负面影响，认识旅游活动与环境的关系，体现人地关系协调发展的理念。

第一节　现代旅游

板块一　提出问题　引领目标

导入问题，直指课时重点

世界那么大，我想去看看。每个人都有一个或多个旅游梦想！有的想到太空旅行，有的想去南极探险，有的想到北极体验因纽特人的生活，有的想去热带雨林呼吸新鲜的空气，这些都是现代旅游的一部分。

20 世纪 50 年代后，现代旅游以前所未有的速度向前发展，简述其原因。

板块二　自学思疑　初探问题

尊重认知规律，亲历感悟知识生成

问题呈现

重点问题，统领性的问题，直指学习目标的问题

【问题一】　旅游是一种空间活动，需要丰富的地理知识。第二次世界大战后，随着社会经济的发展，人们的生活观念发生了变化，旅游成为人们普遍追求的生活方式之一。

1. 现代旅游有哪些特点？

2. 成为一名旅游者，应具备哪些基本条件？

3. 旅游主体的大众化说明了什么问题？

自主测评

检测自主学习效果，“学而时习之，不亦说乎”

1. 阅读材料，回答问题。

武陵山区横跨湘、鄂、黔、渝四个省区，区内分布着众多风景名胜。武陵山区以旅游业为支柱产业，但过去由于交通落后，游客多集中在武陵源风景区，其他景区游客较少。近年

来，随着武陵山区高速公路的开通，区内各风景区的游客数量迅速增长。

分析高速公路的开通对游客在武陵山区旅游产生的有利影响。

2 阅读图文材料，回答问题。

近年来，我国许多传统古村落被开发成旅游观光地，一些古村落的村民仍留在村内，如“中国最具旅游价值古村落”之一的桂林江头洲村，至今仍完整地保存着明清时期的建筑格局，依然有百余户村民生活在村中，坚守着那份宁静与质朴。

分析村民生活在村中对促进当地旅游业健康发展的作用。

板块三　合作互助　共析问题

发展创新思维，形成主动探究与合作的意识和能力

【问题二】　根据旅游活动的发展历史，分为三个阶段：古代旅游、近代旅游、现代旅游。填表，描述各阶段的特点。

	时间	特点
古代旅游	1840 年以前	
近代旅游	1840 年～1950 年	
现代旅游	1950 年以后	

【问题三】　旅游者要完成一次完整的旅游活动，一般包括品尝旅游目的地的食物、住宿当地的宾馆饭店、乘坐交通工具、游览景区、购买旅游产品、进行旅游娱乐活动等，因此，现代旅游的构成要素是学习的重点之一。

一次完整的现代旅游活动，包括哪几个要素？

板块四 展示交流 探究问题

提高分析问题、解决问题的能力，科学答题

精题设计

精选精展，展一反三

【精题一】 阅读图文材料，回答问题。

农业旅游作为一项新的旅游项目，已成为世界潮流。20 世纪 60 年代初，西班牙农场主把自家房屋改造装修，接待游客前往观光度假，被认为是农业旅游的起源。后来又向深层次发展，游客不仅“看”而且“干”，由过去欣赏结果，变为参与过程，真正体验农活的“原汁原味”。如今，在一些国家或地区出现了更高级的农业旅游形式：租地自种。下面为农业旅游景观图。

指出农业旅游体现的突出特色，并简析我国发展农业旅游的意义。

思路点拨：农业旅游体现的突出特色主要从旅游资源的分类、特色、价值等方面进行考虑。农业旅游是面向城市的一种新兴的旅游方式，对于城市人来讲，农村的自然景观、人文景观，以及农业生产特色特别突出，有较强的吸引力。发展农业旅游的意义主要从发展农业特色旅游对农村发展的影响角度分析，由于农业旅游的开展，可以调整以第一产业为主的农村产业结构，提高第三产业的比重，延长农业产业链，增加农民收入；扩大城乡之间的交流，缩小城市与乡村经济发展的差异，有利于解决我国的农村、农民、农业问题。

答案提示：特色：农村自然景观、人文景观，农业产业特色。 意义：调整和优化农业结构，延长农业产业链；促进农民就地就业，增加农民收入；加大城乡交流，缩小城乡差距；是解决“三农”（农村、农民、农业）问题的途径之一。

【精题二】 阅读图文材料，回答问题。

春节期间，在回家探亲的春运大潮下，“团圆旅游”悄然兴起，越来越多的游客选择在异国他乡和家人一起欢度农历新年。中国旅游研究院与途牛网发布的《2016～2017 中国旅游消费市场发展报告》显示：以亲子游、爸妈游为代表的家庭旅游已成为旅游消费市场的主力，家庭旅游的意愿占比达 60%。

分析近年来“团圆旅游”悄然兴起的原因，并指出景区应采取的应对措施。

思路点拨：“团圆旅游”兴起的原因主要从交通条件改善、生活水平提高、旅游意愿三个角度分析；景区的应对措施主要是防止过于拥挤，从景区管理、人数限制、信息发布、网上订票等方面说明。

答案提示：原因：居民生活水平不断提高；私家车日益普及，租车平台的发展；交通运输方式的改善；春节期间高速公路暂免收费；居民外出旅游意愿增强；春节期间假期较长等。　应对措施：加强景区的疏导和管理；限制接待人数；热点景区采取联网预约售票制；景区及时发布流量预报信息等。

探究问题

领悟性的问题，评价性的问题，挑战性的问题

【问题四】　常见的旅游形式包括观光旅游、度假旅游、商务旅游和文化旅游等。新出现的特种旅游形式包括农业旅游、红色旅游、寻根旅游等。请发挥你的想象力，策划设计一些新的旅游项目，选择其中一种向全班同学介绍。

板块五　归纳总结　应用演练

归纳总结，直指课时要点

归纳总结

扎实地掌握本课知识的重点和要点，理解知识之间的逻辑关系

现代旅游
- 旅游的发展
- 现代旅游的特点
  - ①_____
  - ②_____
  - ③_____
  - ④_____
- 现代旅游的基本要素：⑤_____

应用演练

应知应会的知识和技能

1 阅读图文材料，回答问题。

2018 年 4 月 5 日，“第 28 届洪洞大槐树文化节寻根祭祖大典”在山西洪洞大槐树寻根祭祖园举行。该园是全国以“寻根”“祭祖”为主题的唯一民祭圣地，祭祖习俗被列入国家级非物质文化遗产名录。近年来，寻根旅游在这里日渐兴起，形成了集吃、住、行、游、购、娱为一体的综合旅游服务区。下面为洪洞大槐树景区及周边地区旅游资源分布图。

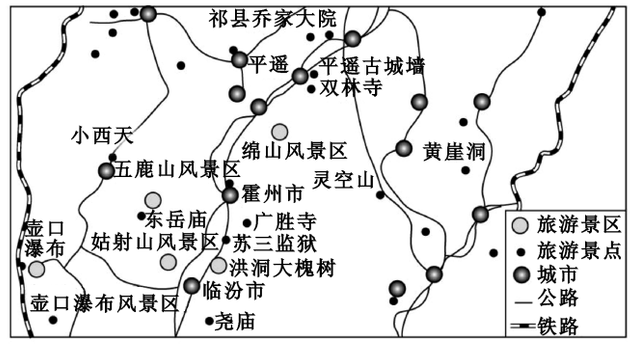

分析洪洞县寻根旅游日渐兴起的主要原因。

2. 阅读图文材料，回答问题。

查干湖（如图 1 所示）是全国十大淡水湖之一，渔业资源丰富，2007 年被列为国家级自然保护区。每年 12 月中旬到次年 1 月中旬，一种流传至今的古老的渔业生产方式和传统习俗——查干湖冬捕（如图 2 所示）就会在此进行。神秘且神圣的壮观奇景，对游客具有极大的吸引力。2018 年 1 月 1 日，查干湖第二届“冰雪风情文化旅游节”拉开序幕，开幕式由祭长生天、生态放生、文艺演出、冬泳比赛等组成，吸引了来自世界各地的游客前往观赏体验。

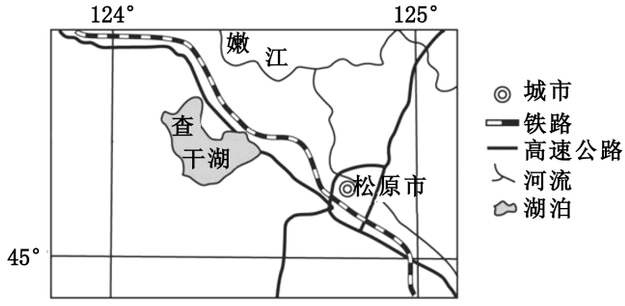

图 1

图 2

说明查干湖冬捕的旅游价值，以及举办“冰雪风情文化旅游节”对查干湖旅游发展的促进作用。

3. 阅读图文材料，回答问题。

2017 年 4 月 1 日，中共中央、国务院决定设立雄安新区，新区位于河北省雄县、容城、安新三县。风光秀丽的白洋淀，其主体位于安新县境内，是华北平原上最大的淡水湖，素有“华北明珠”的美称。下面为雄安新区及白洋淀分布简图。

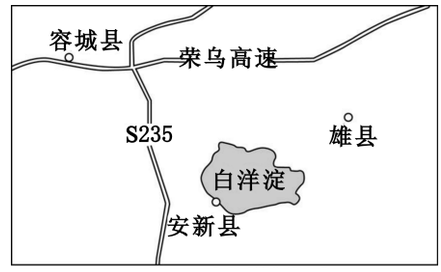

分析雄安新区的设立对白洋淀旅游业的影响。

第二节　现代旅游对区域发展的意义

板块一　提出问题　引领目标

导入问题，直指课时重点

每年冬季，当北国天寒地冻，海南却温暖如春。作为全国唯一的热带省份，海南岛凭借得天独厚的气候条件，每年冬季吸引着全国不少地方的老年人前来避寒，形成了独特的“候鸟人群”异地养老现象。据国家旅游部门统计，每年北方去往南方的“候鸟”游客都不少于20万人。

分析众多的“候鸟人群”到海南过冬可能对海南产生的影响。

板块二　自学思疑　初探问题

尊重认知规律，亲历感悟知识生成

问题呈现

重点问题，统领性的问题，直指学习目标的问题

【问题一】　旅游业是“一业依百业”“一业带百业”的行业，试说出旅游业对其他行业的影响。

【问题二】　发展旅游业会影响区域环境。结合结构图，简述旅游业与环境的关系。

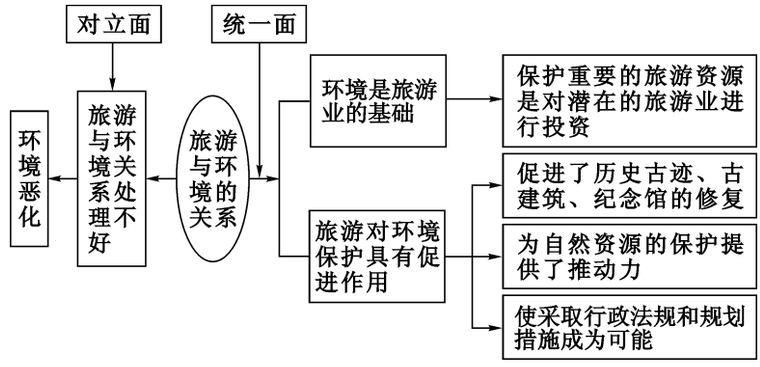

自主测评

检测自主学习效果，“学而时习之，不亦说乎”

1. 阅读材料，回答问题。

乡村旅游是以旅游度假为宗旨，依托农村区域的优美景观、自然环境、建筑、文化等资源，在传统农村休闲游、农业体验游的基础上，拓展开发会务度假、休闲娱乐等项目的新兴旅游方式。截至 2017 年 12 月，我国休闲农业和乡村旅游各类经营主体已达 33 万家，比上年增加了 3 万多家，营业收入近 5500 亿元，整个产业呈现出“井喷式”增长态势。

说明近年来我国乡村旅游火爆的社会原因。

2. 阅读材料，回答问题。

2017 年 8 月 8 日九寨沟发生里氏 7.0 级地震。在震后重建规划中，当地有关部门制定了扩大生态保护区面积、扩大农牧发展区面积、适度减少旅游产业聚集区和人口聚集区面积等多项土地利用优化措施。

分别说明上述措施对九寨沟旅游发展的意义。

板块三　合作互助　共析问题

发展创新思维，形成主动探究与合作的意识和能力

【问题三】　旅游业被称为“朝阳产业”。从世界范围看，旅游业已成为世界重要的产业之一，并成为许多国家和地区的经济支柱之一。旅游业对经济发展的作用，主要体现在以下几个方面。

1. 发展国际旅游，能够增加国家外汇收入。（图示四个国家是旅游收入占比高的国家）

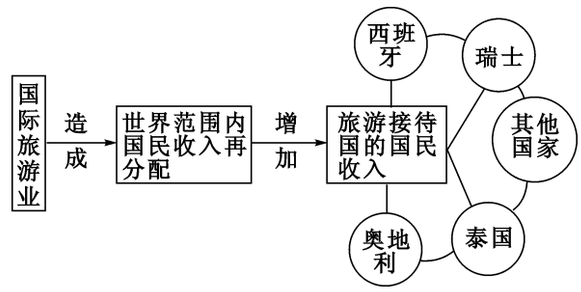

2. 发展国内旅游是回笼货币、稳定市场的一个重要途径。

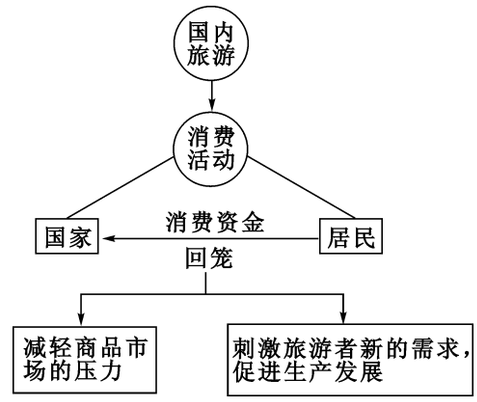

3. 带动相关产业的发展。如，交通运输、商业服务、建筑、邮电、金融、房地产、外贸、轻纺、旅游纪念品等产业。

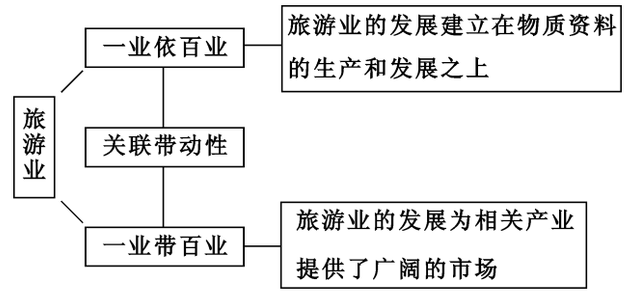

4. 促进区域经济的发展。

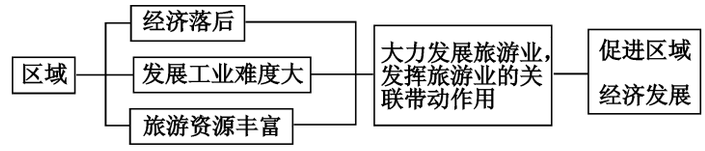

【问题四】　旅游不仅是一种经济现象，也是一种重要的社会文化现象。填表，了解旅游业对社会文化的促进作用。

作用	表现	原因
促进国民素质和生活质量的提高	增长见识，陶冶情操	旅游活动是指超出人类生存需要和基本发展的高级消费形式
提供就业机会		旅游业是劳动密集型产业，也是综合性和关联性很强的产业
促进文化交流	使不同国家和地区、不同民族和文化的交流日益增多，消除了一些社会、民族的偏见，促进了相互了解	旅游活动是异地性、综合性的物质文化生活

特别提醒：旅游业也可能对社会文化造成不利影响，表现在两个方面：旅游者的大量涌入造成人满为患，给当地居民工作和生活带来不便；一些民俗、节庆、宗教活动作为旅游资

源开发，可能会为了迎合市场需求，减弱甚至失去其本身的文化价值。

【问题五】 旅游与环境存在极其密切的关系。

1. 旅游与区域环境的关系，可用下图表示。

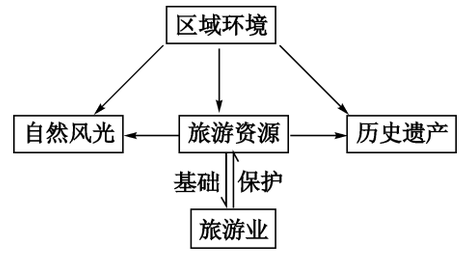

2. 旅游对环境具有保护作用。

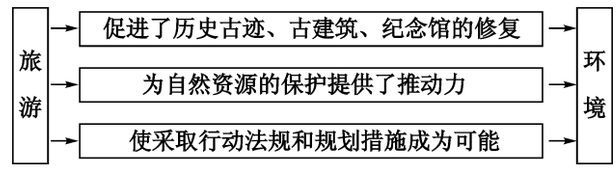

3. 如果旅游与环境的关系处理不好，环境也会朝着恶化的方向发展。



特别提醒：旅游业在促进经济发展和社会文化繁荣方面具有非常大的作用，但并不是说旅游规模越大越好，旅游规模应与当地的环境承载力相适应。如果旅游规模超过当地的环境承载力，就会对旅游区的资源和环境造成破坏，使旅游环境恶化；如果旅游规模达不到环境承载力，则旅游资源开发不足，会造成资源闲置、浪费。

板块四 展示交流 探究问题

提高分析问题、解决问题的能力，科学答题

精题设计

精选精展，展一反三

【精题一】 阅读图文材料，回答问题。

地处浙江省西南部的丽水市，素有“浙江绿谷”之称，清洁的空气成了吸引游客的最大卖点。同时，当地政府利用山、水、林、草、耕地打造农家乐项目，修建道路，不断满足游客吃、住、行、游、购、娱等方面的需求。好生态吸引来的不光是游客，还打造出了“丽水香菇”“丽水油茶”“丽水高山蔬菜”等知名品牌。近年来，村民的收入不断翻番，生活水平不断提高。下面为丽水市优美的生态景观图。



分析丽水生态旅游业的兴起对当地社会经济发展的重要作用。

思路点拨：可持续发展强调社会、经济、资源、人口的相互协调和共同发展，发展生态旅游是实现可持续发展的重要举措。发展生态旅游业，有利于完善基础设施，优化旅游环境，提升管理、服务水平，提高村民的职业素养和精神追求，提高劳动者的自身素质，提升特色农产品的知名度；生态旅游业在一定程度上可以算作是劳动密集型产业，扩大了就业范围，促进了农村劳动力的就近转移，一定程度上缓解了当地的就业压力，增加了人民收入。

答案提示：带动了当地交通运输、餐饮、旅店、商贸等行业的发展；促进了特色农产品的开发与生产，提升了特色农产品的知名度，扩大了消费市场；旅游业提供了更多的就业岗位，增加了经济收入，提高了村民的职业素养，提高了物质与精神生活水平。

【精题二】　阅读图文材料，回答问题。

西安，古称长安，中国著名古都之首，举世闻名的世界四大古都（意大利罗马、希腊雅典、埃及开罗、中国西安）之一，是中国历史上建都朝代最多、时间最长、影响力最大的都城，是连接中西方的古老丝绸之路的东方起点，是中华文明的发祥地、中华民族的摇篮、中华历史文化的代表。先后有13个王朝在此建都，建都时间长达千年以上，其中，中国历史上大一统的秦、汉、隋、唐时代均以此为都城。下面为西安城墙景观图。



简述西安作为世界四大古都的价值，以及对西安旅游业发展的意义。

思路点拨：旅游价值主要有美学价值、科学价值、历史文化价值、经济价值，西安是古都，这里不考虑科学价值。西安发展旅游业的意义从经济效益、文化影响力、带动相关产业的发展等方面分析。

答案提示：价值：历史文化价值、美学价值、经济价值等。　意义：有利于历史文化名城的保护和传承；有利于西安旅游项目的开发与整合，促进西安旅游业的可持续发展；有利于塑造西安城市品牌，提升西安旅游业的影响力和竞争力；有助于对西安旅游业的未来发展进行科学定位。

探究问题

领悟性的问题，评价性的问题，挑战性的问题

【问题六】　在旅游景区内，我们经常可以看到许多有关环境保护的标语。这说明旅游与环境的关系是怎样的？

板块五 归纳总结 应用演练

归纳总结，直指课时要点

归纳总结

扎实地掌握本课知识的重点和要点，理解知识之间的逻辑关系

- 现代旅游对区域发展的意义
  - 拉动经济发展
    - ①
    - ②
    - ③
    - ④
  - 促进社会文化繁荣
    - 积极影响
      - ⑤
      - ⑥
      - ⑦
    - 消极影响：⑧
- 影响区域环境
  - 积极影响
    - ⑨
    - ⑩
    - ⑪
  - 消极影响
    - ⑫
    - ⑬
    - ⑭
    - ⑮
  - 解决办法

应用演练

应知应会的知识和技能

1 阅读图文材料，回答问题。

2019 年 4 月至 10 月，在喜迎建国 70 周年之际，北京延庆区举办了世界园艺博览会，为来自海内外的游客提供了游客服务和游览体验。延庆重点打造了具有世园、园艺主题的中高端乡村住宿产品“世园人家”（见下图），作为服务世园会接待的乡村住宿品牌和展示延庆旅游形象的名片。

分析延庆打造“世园人家”精品民宿对当地旅游业的影响。

2. 阅读图文材料，回答问题。

碛口古镇位于晋西吕梁山西麓，黄河之滨，山西临县之南端，是一座风貌完整、文化内涵丰富的古镇，清代时号称晋陕大峡谷黄河沿岸第一镇，因渡口而兴，因现代交通替代黄河水运而衰。碛口古镇是晋商发祥地之一，是“中国历史文化名镇”“世界百大濒危文化遗址”。近年来，碛口古镇积极发展体验旅游，游客可体验纤夫拉船、放河灯、放筏等与渡口有关的活动，体验晋商时代的盐业、油、棉、麻等商品买卖活动，体验黄土高原特色小吃的制作和农事活动，体验“两黄”（黄河、黄土高原）特色节日庆祝活动等。下面为碛口古镇景观图。



说明碛口古镇发展体验旅游对当地传统文化保护与传承的影响。

3. 阅读材料，回答问题。

全域旅游是旅游产业的全景化、全覆盖，是产品丰富、空间有序、资源优化、产业协调发展的科学的系统旅游。

2017 年，央视春晚分会场落户四川凉山彝族自治州，带动了凉山州的春节旅游。此后，当地深入实施“全域旅游”发展战略，推出了“火把狂欢之旅”旅游线路：中国彝族火把节之乡普格—茶马古道上的德昌凤凰城—红军长征经过的皎平渡口—会理会议遗址，吸引了大量游客。

分析在发展全域旅游过程中“火把狂欢之旅”旅游线路火爆的原因。

第一章核心知识点

知识点一　旅游活动的基本要素和基本类型

1. 基本要素

主体——旅游者，媒介——通过提供服务联系主体和客体，客体——旅游资源、基础条件。

2. 基本类型

分类标准	类型
地域范围	国际旅游、国内旅游，前者又分出境旅游和入境旅游
旅游目的	观光旅游、度假旅游、事务旅游、专项旅游

知识点二　旅游业对社会经济发展的作用

1. 旅游业促进经济发展

（1）增加外汇收入，回笼货币资金。

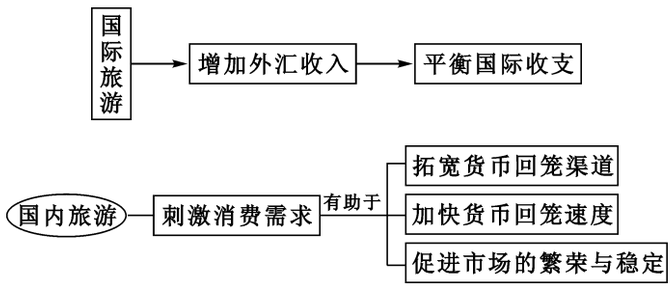

（2）增加经济收入，缩小地区差异。

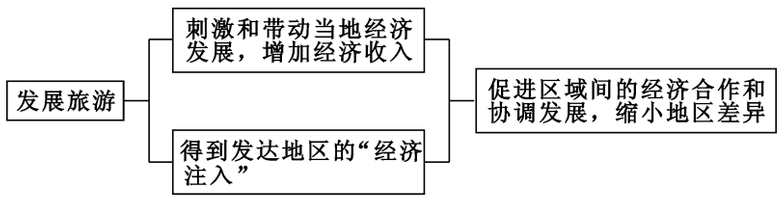

（3）带动相关行业发展，促进产业结构优化。

意义	←带动发展→	行业
有利于调整产业结构，改变资源消耗型经济增长模式，实现各产业部门均衡发展	旅游业	不仅能带动住宿、餐饮、娱乐、交通运输、通信、房地产、商贸、金融等第三产业的发展，而且能促进农业、工业和旅游教育等相关部门和行业的发展

2. 旅游业促进文化繁荣

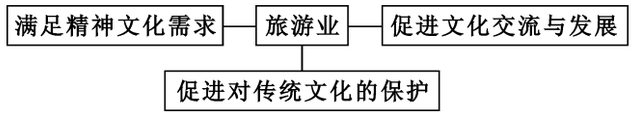

3. 旅游业促进社会进步

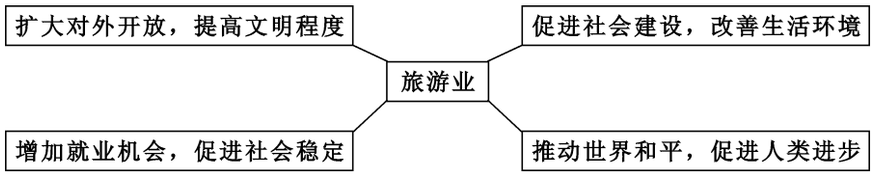

4. 旅游业对区域环境的作用是双向的

（1）旅游业对环境保护的促进作用：促进了历史古迹、古建筑、纪念馆的修复，对自然资源的保护提供了推动力，促使采取行政法规和规划措施保护环境成为可能。

（2）旅游业与环境的关系处理不善会导致环境恶化：如每到旅游旺季，游客爆满，很多景区承受的人流压力过大，造成旅游环境的混乱和污染，降低了旅游质量。

第一章综合测试题

1. 阅读图文材料，回答问题。

台湾是世界民宿密度最高的地区，行业发展成熟。台湾双休制的实施，加之 2011 年大陆开放赴台自由行政策之后，大陆年轻赴台游客多选择民宿。20 世纪末，台湾传统农耕成本上升，政府扶持农业转型刺激了民宿的发展，不少有名的台湾影视剧以台湾民宿作为拍摄地。台湾民宿网上传播较广，大陆自由行用户选择旅游目的地方式多样。下面为 2006 年～2015 年台湾民宿总房间数的变化示意图。

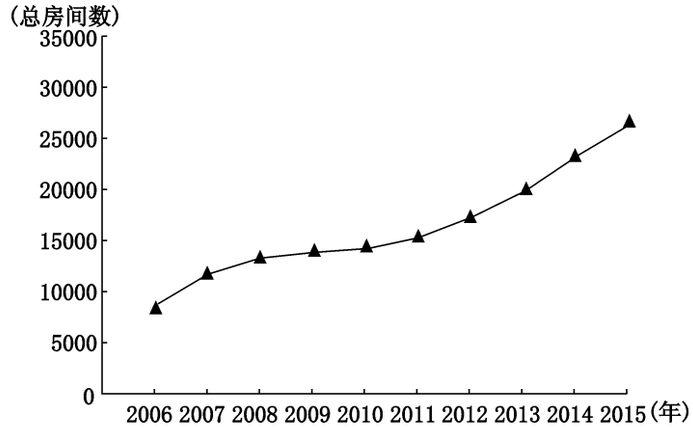

简述台湾民宿总房间数的变化特点并分析原因。

2. 阅读图文材料，回答问题。

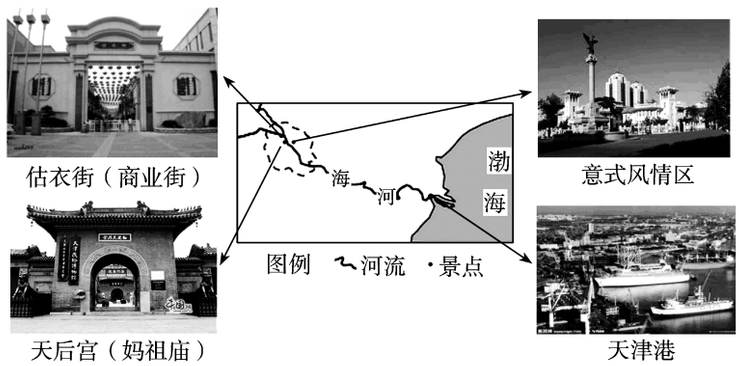

注：以上四幅图片所示景观反映了不同类型的天津地域文化。

（1）根据图片信息概括天津地域文化的特点，说出形成天津地域文化最主要的自然条件。

（2）保护性开发天津的地域文化景观，对发展旅游业有何促进作用？

3. 阅读图文材料，回答问题。

材料一 山西省旅游局贯彻落实中央和山西省扩内需、保增长的决策部署，推出了重大旅游项目建设、旅游产品整合等十大举措拉动旅游消费，并适时开展了扩大旅游消费春季行动，取得了良好的成效。旅游产业成为山西省转型发展、安全发展、和谐发展的突破口，产业地位逐步提升。

材料二 山西省旅游景点分布示意图

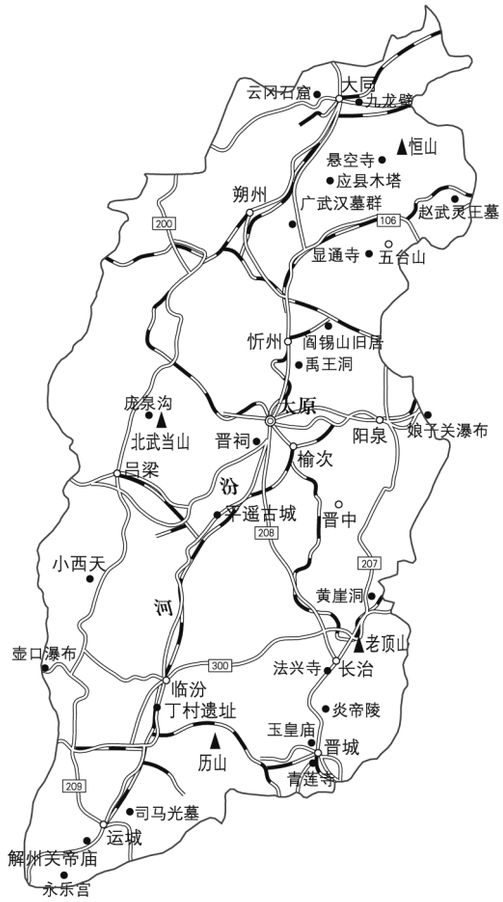

（1）试分析山西省发展旅游业的制约性因素。

（2）一位美国游客从旧金山乘飞机到太原，计划游览大同云冈石窟、平遥古城、黄河壶口瀑布、丁村遗址，请你为他设计合理的旅游线路。

（3）美国游客到山西，为山西的旅游业做出了贡献。简要说明这种旅游方式对山西省经济、文化产生的影响。

4. 阅读材料，回答问题。

邮轮旅游是用邮轮将一个或多个目的地联系起来的旅游行程。邮轮母港码头是邮轮的基地，邮轮在此进行补给、废弃物处理、维护与修理，邮轮公司在母港所在地设立地区总部或公司总部。邮轮停靠母港后，大量游客上岸购物、休闲娱乐、餐饮等，对所在区域的经济具有较强的推动力。例如，被称为“国际邮轮之都”的美国迈阿密邮轮母港每年接待邮轮游客超过 300 万人次，经济效益达百亿美元左右。近年来，我国先后建立了上海、三亚、天津等邮轮母港。

分析邮轮母港对所在区域经济具有较强推动力的原因，并提出促进我国邮轮母港发展的措施。

5. 阅读图文材料，回答问题。

德国鲁尔区在转型过程中，利用原有的工厂建筑、生产设备等开发出了具有独特观光、休闲等功能的工业遗产旅游产品，吸引了世界各国的众多游客前来游览，并从中了解现代工业化历史和工业文明。图 1 为埃森一座焦化厂内高 55 米的双轴提升井架，被称为“鲁尔区之塔”；图 2 为杜伊斯堡景观公园中的工业遗迹。

图 1

图 2

分析鲁尔区发展工业旅游的有利条件。

第二章　旅游资源

★ 本章学习导航

先行一步，步步先行

内容概要　学前早知道，学后更知道

第一节，从地理的角度认识旅游资源的内涵和特性，了解自然旅游资源与人文旅游资源的概念；第二节，初步学会评价旅游资源开发条件，由基本知识转向技能和方法；第三节，了解我国的世界文化与自然遗产及其价值，培养爱国情感和环境保护意识。

点击《课标》　学业评价的标准，考试命题的依据

节	标准	活动建议
旅游资源的分类与特性	●简述旅游资源的内涵，运用资料说明旅游资源的特性。 ●比较自然旅游资源与人文旅游资源的区别。	●收集世界和中国旅游景区的各种资料，在班级进行展示交流。
旅游资源开发条件的评价	●结合实例，简述旅游资源开发条件评价的基本内容。 ●针对某一实例，评价旅游资源的开发条件。	●结合本地实际，组织一次关于生态旅游的专题讨论会。
我国的旅游资源	●在地图上指出我国的“世界文化与自然遗产”，举例说出其重要价值。	●上网查询并下载旅游景区的信息，设计一份模拟旅游活动方案。

学法指导　学海无涯，妙法为舟

1. 运用列表法，归纳旅游资源的分类、特性及价值。

2. 运用案例分析法，感受“学习生活中有用的地理”。如尝试结合相关的区域地理知识，评价山西省旅游资源开发条件。

3. 开展地理考察、实践、调查和地理专项研究等实践活动。如设计一份模拟旅游活动方案或开展假期旅游活动等。

第一节　旅游资源的分类与特性

板块一　提出问题　引领目标

导入问题，直指课时重点

泰山风景区以壮丽著称。重叠的山势，厚重的山体，苍松巨石的烘托，云烟的变化，使它在雄浑中兼有明丽，静穆中透着神奇。自然的泰山，彰显着自然的神奇；文化的泰山，印证着文化的神圣。泰山是中华民族的象征，是灿烂东方文化的缩影，是“天人合一”思想的寄托之地，是中华民族精神的家园。

泰山属于哪类旅游资源？泰山的旅游价值体现在哪些方面？

板块二　自学思疑　初探问题

尊重认知规律，亲历感悟知识生成

问题呈现

重点问题，统领性的问题，直指学习目标的问题

【问题一】　旅游资源的内涵。

1. 旅游资源的形成必须具备哪两个条件？

2. 旅游资源的核心是什么？

【问题二】　有人认为旅游资源就是“旅游者参观游览的地方”，或者更具体地说，是“自然风光加上文化古迹”；还有人认为，旅游资源是指“凡能达到娱乐目的的一切自然资源和文化资源”。这些说法是否全面？为什么？

自主测评

检测自主学习效果，“学而时习之，不亦说乎”

1. 阅读材料，回答问题。

当前，随着旅游业的快速发展，旅游方式和内容发生了很大变化，无景点旅游逐渐成为人们青睐的一种旅游方式。所谓无景点旅游，是指人们为了放松休闲、愉悦身心，不以游览景区景点为目的，而是以享受旅途本身为目的，以随性而游、兴尽而返的方式进行的一种自助旅游。与传统的旅游方式相比，无景点旅游的目的不是特定的景区景点，甚至排斥传统的以卖门票为特征的景区景点观光方式。无景点旅游的出现，是大众旅游发展到一定阶段的产物，反映了游客需求层次的提高。

（1）分析无景点旅游兴起的主要原因。

（2）简述发展无景点旅游的意义。

2. 阅读图文材料，回答问题。

峨眉山位于四川省，是我国四大佛教名山之一。峨眉山地势陡峭，风景秀丽，素有“秀甲天下”之美誉。下面为峨眉山景观图。

说出峨眉山的景观特色，并分析峨眉山“秀甲天下”的自然原因。

板块三　合作互助　共析问题

发展创新思维，形成主动探究与合作的意识和能力

【问题三】　根据旅游资源的本质属性，一般将旅游资源划分为自然旅游资源、人文旅游资源两种类型。填表，比较两类旅游资源。

	自然旅游资源	人文旅游资源
形成	天然形成的自然事物和现象	
规模		一般较小
变化	一般比较缓慢	
存在形式	具体形式存在	除具体形式存在外，同时还以一种精神文化的形式出现在旅游区内，以一种气氛笼罩着旅游区

功能		文化旅游、宗教旅游、休闲旅游、购物旅游、会议旅游等
示例	山体、水域、植被、野生动物群、天文奇观、构景地貌、自然灾害遗迹等	历史古迹、园林、工艺品、表演艺术、民俗、宗教礼仪、城乡风貌、社会风情等
意义	对于探险猎奇、游乐、疗养等性质的旅游具有重要意义	更多地表现在教育性（知识的、人文的）旅游方面
分类及举例	地文景观：路南石林	建筑景观：巴台农神庙
	天象与气候景观：松花江的雾凇	遗址遗迹：自由女神雕像
	水域风光：尼亚加拉瀑布	人文活动：傣族泼水节
	生物景观：黄山迎客松	旅游商品：纪念品

【问题四】 我们伟大的祖国幅员辽阔，山河壮丽，历史悠久，文化灿烂，可供游览的风景和名胜古迹不胜枚举。无论是泰山日出、长江三峡、黄山奇峰、桂林山水，还是万里长城、北京故宫、敦煌石窟、布达拉宫，无不令人心驰神往，流连忘返。与其他资源相比，旅游资源具有以下特性。

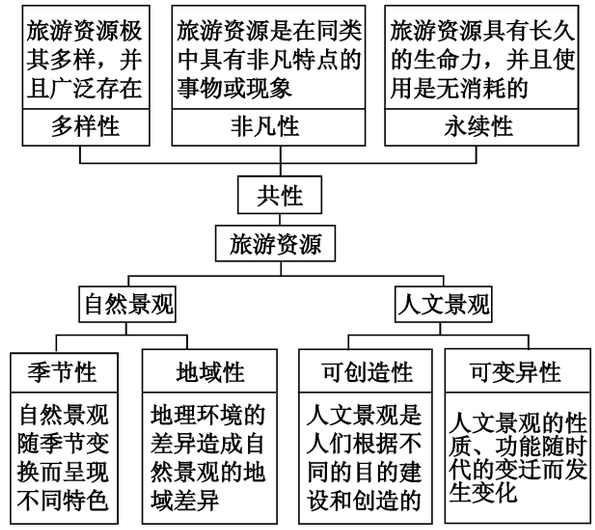

1. 旅游资源具有哪些共同的特性？

2. 为什么说非凡性是旅游资源的本质特性？

3. 不同的旅游资源还有哪些特性？

板块四　展示交流　探究问题

提高分析问题、解决问题的能力，科学答题

精题设计

精选精展，展一反三

【精题一】　阅读图文材料，回答问题。

以自然旅游资源为主的四川省某景区平均海拔4800米，景区游客数量季节差异明显。下图为该景区某年各月游客数量比重饼状图。

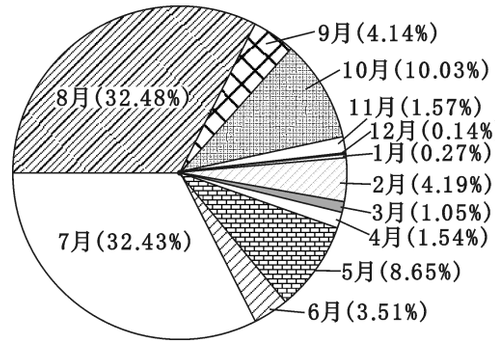

1. 分析该景区7、8月游客数量明显不同于其他月份的原因。

2. 说出游客数量季节差异明显可能对当地旅游业造成的不利影响。

思路点拨：1. 考查影响旅游活动的因素。从游客角度考虑，7月、8月正值学生暑假，旅游时间充足；从旅游地角度考虑，该景区海拔高，夏季气候凉爽（利于避暑），景观丰富优美。

2. 考查旅游与区域经济发展。可从旅游旺季和淡季对旅游设施、旅游收入、景区环境等方面的影响分析解答。

答案提示：1. 海拔高，7月、8月气候凉爽，适合避暑；7月、8月自然景观丰富优美；7月、8月为学生暑假，时间充足。

2. 淡季游客少，会造成景区旅游设施闲置，降低旅游收入；旺季游客集中，容易破坏景区环境。

【精题二】　阅读图文材料，回答问题。

2018年4月，联合国教科文组织正式批准光雾山—诺水河成为第36个世界地质公园。光雾山—诺水河世界地质公园位于四川省巴中市境内，总面积1818平方千米，地质遗迹资源丰富多样。

光雾山—诺水河公园人文历史悠久，始于秦、兴于汉的米仓古道，秦汉时期的官仓平、牟阳古城等人文历史景观保存良好。巴山皮影、巴山背二哥、茅山歌等民俗文化在此传承发扬。

光雾山—诺水河地质公园自然生态环境良好，是四川盆地北部边缘山地重要的生物基因库，以红叶景观为主的生物景观众多，有中国“红叶之乡”的美誉。特有树种巴山水青冈堪称植物活化石，分布面积达70余平方千米。下面为光雾山—诺水河地质公园景观图。

举例说明光雾山—诺水河地质公园的主要旅游资源类型及其价值。

思路点拨：旅游资源类型分为自然旅游资源、人文旅游资源。阅读材料可知，当地的自然旅游资源有地质遗迹等地文景观，有红叶、水青冈等生物景观；当地的人文旅游资源有米仓古道、牟阳古城等遗址遗迹和巴山皮影、茅山歌等人文活动。旅游资源的价值主要从经济价值、美学价值、科学价值、历史文化价值等方面分析。

答案提示：类型：主要自然旅游资源有地质遗迹资源等地文景观，有红叶、水青冈等生物景观；主要人文旅游资源有米仓古道、牟阳古城等遗址遗迹和巴山皮影、茅山歌等人文活动。　价值：丰富的地质、生物资源有美学价值、科学价值；保存完好的历史文化景观和独具特色的民俗文化，历史文化价值高；景观独特的世界地质公园，提升了旅游品牌的知名度，有较高的经济价值。

探究问题

领悟性的问题，评价性的问题，挑战性的问题

【问题五】　比较自然旅游资源和人文旅游资源的特点。

板块五　归纳总结　应用演练

归纳总结，直指课时要点

归纳总结

扎实地掌握本课知识的重点和要点，理解知识之间的逻辑关系

旅游资源
- 内涵
  - 对游客具有①_____力
  - 具有经济开发价值
  - 带来②_____效益和③_____效益
- 类型
  - ④_____旅游资源
  - ⑤_____旅游资源
- 特性：⑥_____性、⑦_____性、⑧_____性、⑨_____性

应用演练

应知应会的知识和技能

1. 阅读图文材料，回答问题。

独库公路宛如一条巨龙盘卧天山，沿途多悬崖绝壁，高山冻土广布，景点众多，被誉为“中国最美的公路”。下面为独库公路沿线主要景点、城市分布略图。

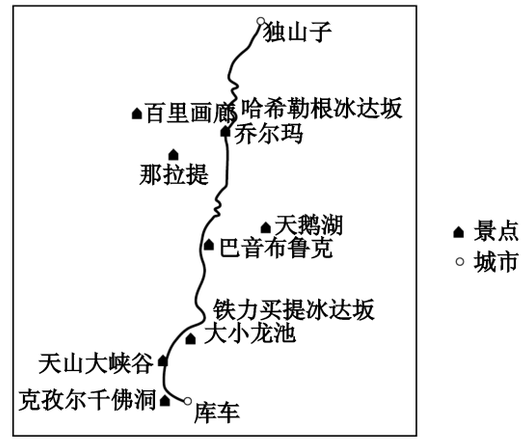

分析沿独库公路旅游的最佳季节，并说明其成为旅游热点地区的原因。

2. 阅读图文材料，回答问题。

鼓浪屿位于厦门西南隅，面积约 1.91 平方千米，因西南有海蚀涧受海浪潮冲击，声如擂鼓而得名。岛上气候宜人，四季如春。主要景点有日光岩、鼓浪石、菽庄花园、毓园、钢琴博物馆、郑成功纪念馆、厦门海底世界、天然海滨浴场等。2017 年 7 月 8 日，鼓浪屿被联合国教科文组织列入世界遗产名录，成为中国第 52 项世界遗产项目。鼓浪屿曾创下单日接待游客超过 12 万人次的历史最高纪录，申遗成功后，当地政府将游客数量限制在每日 3.5 万人。下面为鼓浪屿菽庄花园景观图。

简述鼓浪屿旅游资源的特点，并指出鼓浪屿限制游客数量的积极意义。

3. 阅读图文材料，回答问题。

神农架位于湖北省西北部，是我国著名的旅游景区。该地夏宜避暑，冬可滑雪，吸引了大量游客。下图示意神农架及其周边地形，图中山峰为神农架主峰神农顶。

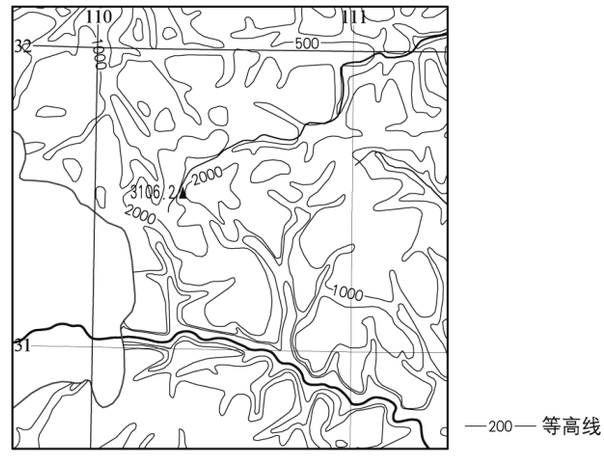

说出神农架夏季、冬季均吸引游客的自然原因。

4. 阅读图文材料，回答问题。

2019 年 10 月，冰雪旅游全面开启，不仅京冀、东北及内蒙古等北方地区进入冰雪旅游黄金季，以四川、贵州、湖北等省份为代表的南方地区冰雪旅游热度亦有赶超北方地区的“逆袭”之势，越来越多的城镇居民参与到冰雪旅游之中。下面为冰雪旅游景观图。

分析我国南方地区冰雪旅游迅速发展的原因。

第二节　旅游资源开发条件的评价

第 1 学时　资源价值　地理位置与交通

板块一　提出问题　引领目标

导入问题，直指课时重点

丹霞地貌，属于红层地貌，是一种水平构造地貌。它是指红色砂岩经长期风化剥离和流水侵蚀，形成孤立的山峰和陡峭的奇岩怪石，是巨厚红色砂、砾岩层中沿垂直节理发育的各种丹霞奇峰的总称。这种地貌以粤北地区韶关市内的丹霞山最为典型，所以称为丹霞地貌。现在丹霞地貌已成为重要的旅游资源吸引着越来越多的游客。

丹霞地貌作为旅游资源主要具有哪些价值？

板块二　自学思疑　初探问题

尊重认知规律，亲历感悟知识生成

问题呈现

重点问题，统领性的问题，直指学习目标的问题

【问题一】　一个好的旅游规划，必须扬长避短，因地制宜，有明显的针对性。

1. 什么是旅游资源开发？

2. 对旅游资源开发条件的评价，可分为哪两个方面？

【问题二】　为什么评价旅游资源的经济价值，一方面，要从旅游资源的景观群数量多少来判断集群状况；另一方面，要通过各景观特征的差异性来判断旅游资源的地域组合状况。

自主测评

检测自主学习效果，“学而时习之，不亦说乎”

1. 阅读图文材料，回答问题。

观星旅游是以天空星体为观察对象的旅游活动，是欧美国家近 10 年来兴起的一种崭新的旅游形式。藏族文明千百年来积累了丰富的天文历算知识，几乎每颗闪烁的明星都有神奇

迷人的传说，拉萨欲将冬季观星旅游作为“冬游西藏”旅游产品的重要组成部分进行推广，扩大市场吸引力。下面为星空景观图。

分析拉萨发展冬季观星旅游的优势条件，并为此提出合理的推广措施。

2 阅读图文材料，回答问题。

十五道沟又称望天鹅风景区，位于吉林省长白山区，是国家 AAA 级旅游区。十五道沟只是一条汇入鸭绿江的较大支流，沟内发育有灰色气孔状玄武岩、黑色致密块状玄武岩等形成的石壁和柱峰。十五道沟沟中溪水潺潺、飞瀑层叠、怪石嶙峋，漫山有美不胜收的五色彩林。十五道沟生态原始，古树参天，鸟语花香，鱼跃蛙鸣，已成为东北地区的旅游度假胜地。下面为十五道沟景观图。

说明十五道沟的旅游资源价值。

板块三　合作互助　共析问题

发展创新思维，形成主动探究与合作的意识和能力

【问题三】　开发旅游资源时，首先要对旅游资源本身进行评价，即评价资源的质量。具有“人无我有、人有我优、人优我特”的高质量的旅游资源，才会对旅游者产生强烈的吸

引力。

1 填表，比较旅游资源价值。

	含义	实例
美学价值	是自然风景名胜区吸引旅游者的最根本原因，也是人们观光、度假、疗养的主要目的	水文景观与地貌景观的组合产生的动与静、刚与柔、旷与幽等不同美感；动植物使自然界焕发生机；气象与气候变化使自然美因时因季而不同
科学价值		夏威夷火山、东非大裂谷、北欧的冰川地貌、泰山和庐山的断块山、桂林山水和路南石林的喀斯特地貌、黄山的高山花岗岩地貌、长江三峡的河流峡谷地貌
历史文化价值	文物古迹对于研究历史上的社会、经济、文化艺术、工程建筑等具有重要的价值	
经济价值		吸引游客，带动当地餐饮、交通、商贸等方面的发展，增加旅游收入

2 填表，了解旅游资源的集群状况、地域组合状况对旅游资源价值的影响。

	集群状况	地域组合状况
含义	指在一定的地域内多种旅游资源的协调布局和组合，并组成一定规模的旅游资源结构模式	
影响		如果所要开发的资源与邻近景点雷同，甚至在质量上还要略逊一筹，其游览价值就会大大下降；只有类型丰富、搭配协调，旅游资源的价值才能得到更大的发挥
实例	北京故宫周围有天安门广场、人民英雄纪念碑、天坛等著名景点，数量多、类型多样，开发价值高	北京郊区重点发展以自然风光、寺院、游乐园、乡村度假等内容为主的特色旅游，与市区相互搭配协调，使二者的旅游价值都得到了充分发挥

【问题四】 旅游资源所在地的地理位置与交通条件直接影响其开发价值。

为什么说优越的地理位置和方便的交通是评价旅游资源开发的重要条件之一？

板块四 展示交流 探究问题

提高分析问题、解决问题的能力，科学答题

精题设计

精选精展，展一反三

【精题一】 阅读图文材料，回答问题。

安仁古镇位于成都市大邑县境内，地处成都平原西部，距成都市区 39 千米，距大邑县城 8.5 千米。古镇内现有保存完好的民国时期公馆 27 座、现代博物馆 30 余座，在全国同类小镇中首屈一指，素有“中国博物馆小镇”之称。近年来，安仁古镇开展了以博物馆为特色的观光旅游，游客人数逐年增加，但同时也存在游客很少留宿古镇的现象。下面为安仁古镇景观图。



简述游客在安仁古镇很少留宿的主要原因，并为当地吸引游客留宿古镇提出合理化建议。

思路点拨：由材料“安仁古镇……距成都市区 39 千米，距大邑县城 8.5 千米”可知，安仁古镇距离省会成都、县城大邑较近，因此大部分游客很少在安仁古镇留宿；由材料“古镇内现有保存完好的民国时期公馆 27 座、现代博物馆 30 余座”可知，安仁古镇游览项目单一，需要耗费时间短，因此很少有游客留宿。要想吸引游客留宿古镇，要从当地拓展旅游项目角度分析，挖掘古镇现有旅游资源的文化内涵和价值，开展深度体验游，以延长游客的游览时间，促进游客留宿。

答案提示：原因：安仁古镇离成都市区、大邑县城距离近，大部分游客在观光旅游结束后容易返回市区或县城；安仁古镇旅游主要以参观博物馆、公馆为主，旅游项目相对单一，游客选择余地较少。 建议：挖掘古镇现有旅游资源的文化内涵和价值，建立各类文创基地，开展深度体验游；充分利用古镇周边的自然环境，拓展农家乐等乡村休闲体验游；改善

古镇的旅游环境，提高旅游服务质量与水平。

【精题二】　阅读图文材料，回答问题。

千岛湖，位于浙江省杭州市西郊淳安县境内，是长江三角洲地区的后花园，是世界上岛屿最多的湖，因湖内拥有1078座翠岛而得名。近期，千岛湖景区新开设了热气球观光项目，游人花费260元就能享受15分钟俯瞰千岛湖的新体验。下面为千岛湖景区俯瞰图。

分析千岛湖景区新开设热气球观光项目的原因，并推测其运营的天气条件。

思路点拨：从项目自身而言，热气球观光能从高空俯瞰及拍摄景区全景，视野开阔，为游客开拓新的景区观赏视角；从客源市场分析，该项目地处长江三角洲地区，高消费人群多，客源市场广阔。其运营的天气条件是晴天、大气能见度高、风力较小。

答案提示：原因：热气球观光能从高空俯瞰及拍摄景区全景，视野开阔，为游客开拓新的景区观赏视角，提高景点的吸引力；千岛湖地处长江三角洲地区，邻近客源市场；长江三角洲地区高消费人群规模大。　天气条件：晴天，且大气能见度高（空气透明度高）；风力较小。

探究问题

领悟性的问题，评价性的问题，挑战性的问题

【问题五】　2010年1月4日，国务院确立了将海南岛建设成国际旅游岛的国家战略，其对海南发展的作用有哪些？在国际旅游岛建设中，环境保护方面应注意哪些问题？

板块五　归纳总结　应用演练

归纳总结，直指课时要点

归纳总结

扎实地掌握本课知识的重点和要点，理解知识之间的逻辑关系

旅游资源开发条件的评价
- 资源价值
  - ①_____价值
  - ②_____价值
  - ③_____价值
  - ④_____价值
- 地理位置与交通：使游客“进得来、出得去、散得开”

应用演练

应知应会的知识和技能

1. 阅读材料，回答问题。

我国某地的“佛手山药”有 300 多年的种植历史，2009 年获国家农产品地理标志认证。“佛手山药”形如手掌，品质优良，味道鲜美，营养丰富。过去，因深藏于大山之中，加之外形不规则、皮薄、贮存期短，长距离运输容易损坏或变质，“佛手山药”鲜为人知。近年来，当地政府依托“佛手山药”大力发展乡村旅游，带领农民走上脱贫致富之路。

设计两项依托“佛手山药”开展的旅游项目。

2. 阅读材料，回答问题。

民俗文化村是指在旅游点兴建的把某一时期或某一区域的民俗文化，依照一定的方式、风格加以集中反映的人造旅游景观。深圳“中国民俗文化村”荟萃我国各民族的民间艺术、民俗风情、民居建筑于一园，内含 27 个民族的 27 个村寨，通过民族风情表演、民间手工艺品展示、定期举办大型民间节庆活动，多角度、多侧面地展示出我国各民族丰富多彩的民风民情、民俗文化。

昆明“云南民族村”的民族村寨采用复原陈列的手法展示云南省内的民族风情，将云南 25 个民族的文化风情、建筑艺术、音乐舞蹈、宗教信仰、生活环境如实地展示出来，是云南民族文化的缩影。

以上两个民俗文化村都是开发比较成功的案例。但从长期经营的情况来看，深圳“中华民俗文化村”接待的游客数量比“云南民族村”更多。

与“云南民族村”相比，深圳“中国民俗文化村”接待游客数量更多，简析其原因。

3. 阅读图文材料，回答问题。

拥有全国最美海岸线的宁德市霞浦县，地处中国海岸中部，福宁高速公路、温福铁路贯穿全境，素有“闽浙要冲”之称。霞浦县浅海滩涂面积广阔，是海洋养殖大县，至今还保留着当地传统滩涂养殖方式（如图所示），目前已成为国际滩涂摄影基地，吸引了大批国内外摄影爱好者。

评价霞浦成为国际滩涂摄影基地的地理条件。

4. 阅读图文材料，简述衡山的优势旅游资源。

衡山蜿蜒分布于湘江西岸。“祝融峰之高，水帘洞之奇，方广寺之深，藏经殿之秀”，被称为衡山“四绝”。古人乘船观赏衡山有“帆随湘转，望衡九面”之说。下图为衡山中心景区示意图。

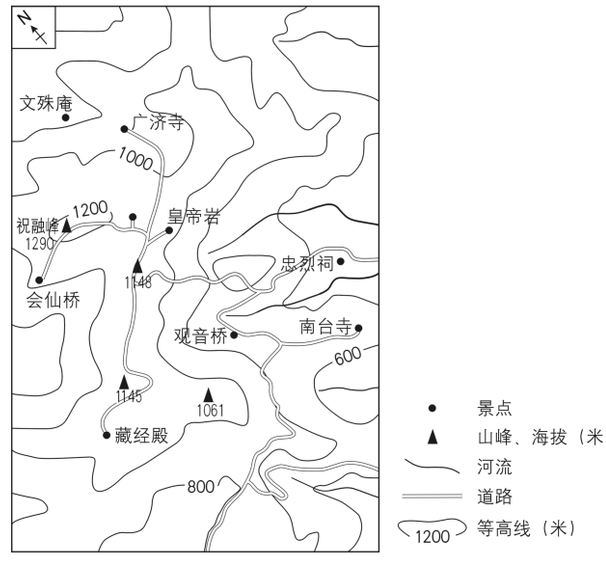

第 2 学时　客源市场　基础设施

板块一　提出问题　引领目标

导入问题，直指课时重点

贡嘎山国家级自然保护区位于四川省甘孜藏族自治州境内，属青藏高原的东南部。这里有丰富的地质地貌景观、各类珍稀野生动植物、神秘的藏族文化，还有青藏高原东部最大的冰川群，为国家级风景名胜区和自然保护区。该区总人口约 12 万人，经济发展水平较低，基础设施落后，城镇化发展滞缓。近几年，贡嘎山先后开发了多条山地旅游路线，游客人数逐年增加。

评价贡嘎山发展山地旅游的条件。

板块二　自学思疑　初探问题

尊重认知规律，亲历感悟知识生成

问题呈现

重点问题，统领性的问题，直指学习目标的问题

【问题一】　对客源市场的分析与评价，是进行旅游资源开发的前提。

客源市场评价的主要指标有哪些？

【问题二】　基础设施直接影响旅游资源的开发利用。

1. 旅游地的基础设施主要包括哪些方面？

2. 阅读教材案例：武夷山景区，试对武夷山景区的开发条件进行评价。

自主测评

检测自主学习效果，“学而时习之，不亦说乎”

1. 阅读图文材料，回答问题。

香榧是一种名贵干果，因其原产区和主产区在浙江诸暨东北部的枫桥地区（位置见图），又称枫桥香榧。这里打造了香榧森林公园，每年夏季以举办“香榧节”为契机，吸引杭州、绍兴、宁波等城市的游客。

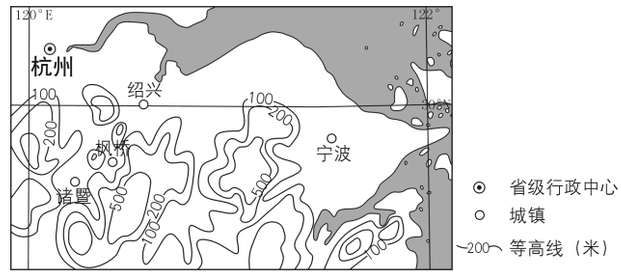

分析枫桥地区借香榧发展旅游业，把客源地定位在周边城市的主要原因。

2 阅读图文材料，回答问题。

芜仙湖距离昆明约 70 千米，为云南第三大湖，最深处水深 155 米，是我国已知的第二深水湖泊。这里水质极佳，湖水清澈见底，沿湖山川秀丽，胜景很多。西面有被称为“玉笋擎天”的尖山；东部有优质的温泉；湖中有两个优美的小岛。远山近水，洲岛错落，令人心旷神怡，爽快清新。但近年来景区内的酒店却出现入住率不高的情况。下面为芜仙湖景观图。

请向昆明游客推荐芜仙湖适宜的旅游方式，并分析景区内酒店近年来入住率不高的主要原因。

板块三　合作互助　共析问题

发展创新思维，形成主动探究与合作的意识和能力

【问题三】　旅游资源的评价，关键是对其综合价值的评价。填表，了解旅游资源开发条件评价的基本内容。

	内容	开发条件评价
资源价值	旅游资源的价值首先取决于资源质量（即自身美学价值、科学价值或历史文化价值和经济价值的高低），还与资源的集群状况、地域组合状况有关	资源质量高、集群状况好、地域组合好的旅游资源游览价值大，开发条件好；反之开发条件差
地理位置与交通	交通位置及其通达性通过影响经济距离和游客心理进而影响旅游资源的开发价值	
客源市场	旅游经济价值很大程度上取决于它与客源市场的距离。旅游者出游受经济距离（游客从出发地到旅游目的地再返回出发地所用的时间和费用）的影响。旅游地的经济距离越长，旅游需求越低；旅游者的经济收入越高，出游的经济距离越长	旅游资源的开发要考察在其最优吸引半径内的旅游消费市场，位于或者靠近经济发达地区的旅游资源，其开发利用的价值大；反之开发利用价值小
基础设施	旅游资源的开发既要考虑当地现有的接待能力，也要修建相应的配套服务设施	

【问题四】 旅游资源的开发，必须建立在一定的可行性条件基础上。

1. 如何评价旅游景区的地理位置及其交通条件？

2. 如何评价旅游景区景观的地域组合条件？

3. 如何评价旅游景区的旅游环境容量条件？

4. 如何评价旅游景区的客源市场条件？

5. 如何评价旅游景区的投资条件？

6. 如何评价旅游景区的施工条件？

板块四 展示交流 探究问题

提高分析问题、解决问题的能力，科学答题

精题设计

精选精展，展一反三

【精题一】 阅读图文材料，回答问题。

英国康沃尔郡在一个废弃的矿山上开发了伊甸园项目。该项目主体是温室，由 8 个充满未来主义艺术风格的巨大蜂巢式穹顶建筑构成。穹顶建筑内仿造地球上不同的生态环境，汇集了不同种类的植物。作为英国最大的环境保护教育中心，该项目本身就是一个节能环保的典范。2001 年开园以来，连续多年被评为英国最佳休闲旅游景区。下面是该项目的景观图。

分析该项目对旅游者吸引力大的原因。

思路点拨：考查旅游资源的开发与评价。该项目建在“一个废弃的矿山上”，通过项目建设使该地由荒山变为了有多种类型植物分布的山区，极大地改善了当地的生态环境，项目主体由 8 个“充满未来主义艺术风格的巨大蜂巢式穹顶建筑构成”，建筑风格独具特色，这为前来参观的游客提供了优美的自然环境和具有特色、观赏性的人文景观，舒适的旅游环境增强了该项目对游客的吸引力；该项目“是一个节能环保的典范”，以温室为主体，充分利用了自然的光热资源培育不同种类的植物，是对环保建设理念践行的典范，使游客在观赏植物、风景的同时还受到了环境保护、环境教育的熏陶，这种寓教于乐的形式深受游客的喜爱；该项目规模大，为“英国最大的环境保护教育中心”，可接纳游客数量多，且可供游客观赏、游玩的场地多，规模效益好；该项目于 2001 年建设，建设时间较早，且“连续多年被评为英国最佳休闲旅游景区”，知名度高，项目品牌效应强，因而对游客的吸引力大。

答案提示：在废弃矿山上兴建的伊甸园，改善了当地的生态环境，以丰富的植物资源和独特的艺术建筑风格为特色，为旅游者营造优美舒适的旅游环境；以环境保护、环境教育为主题，项目建设体现环保理念，观赏性强又能寓教于乐；作为英国最大的环境保护教育中心，规模大，建设时间较早，具有规模效应、品牌效应。

【精题二】　阅读图文资料，回答问题。

位于湖南省的南岳衡山近年来积极开发冬季旅游，其丰富多样的雪景、雾凇、雨凇等景观可与我国的东北地区媲美，这种得天独厚的冬日冰雪资源，成为我国南方地区开展冬季旅游的理想之地，吸引了大量游客前往观赏。下面为衡山地理位置示意图。

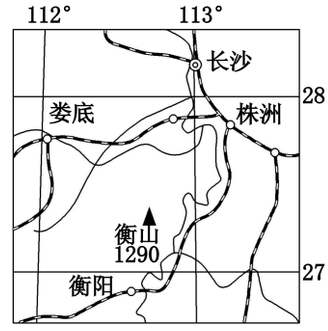

分析南岳衡山开发冬季旅游的有利条件。

思路点拨：本题考查旅游资源开发条件评价，主要从市场距离、交通通达度、地区接待能力、资源的游览价值角度分析。由材料可知，“丰富多样的雪景、雾凇、雨凇等景观可与我国的东北地区媲美”，说明资源具有独特性，游览价值高。由衡山所处的位置来看，有铁路经过，交通通达度高；靠近经济发达地区，客源市场广阔；该地的旅游设施齐全，地区接待能力强；这些都有利于衡山开展冬季旅游。

答案提示：冬季的冰雪景观南方少（罕）见，具有独特性和很强的吸引力（观赏价值高）；地理位置优越，交通条件好；衡山是五岳名山，其他自然景观、人文景观也十分丰富；位于南方人口稠密、经济发达地区，客源市场广阔；旅游设施齐备，接待能力强。

探究问题

领悟性的问题，评价性的问题，挑战性的问题

【问题五】 分析江苏省发展旅游业的优势条件。

板块五 归纳总结 应用演练

归纳总结，直指课时要点

归纳总结

扎实地掌握本课知识的重点和要点，理解知识之间的逻辑关系

旅游资源开发条件的评价
- 资源价值：美学价值、科学价值、历史文化价值、经济价值
- 地理位置与交通
- ①_____：客源地、旅游地与客源地的距离
- ②_____：公共设施、配套服务设施

应用演练

应知应会的知识和技能

1. 阅读图文材料，回答问题。

近年来，河北省邢台市威县将旅游与扶贫深度融合，借助当地的农业资源、人文资源、生态资源等优势，积极探索旅游扶贫新路径，大力发展乡村游、休闲游、采摘游，打造美丽乡村旅游文化，加快脱贫步伐。下面为威县交通区位图。

评价威县发展特色乡村游的条件，并提出合理的发展建议。

2. 下图示意某旅游目的地，该地旅游资源丰富，但旅游规模相对较小。试分析该地旅游规模较小的原因。

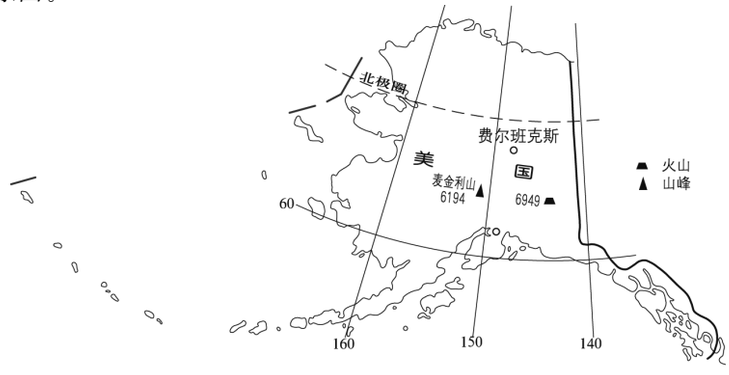

3. 分析下图所示岛屿成为世界著名旅游目的地的优势条件。

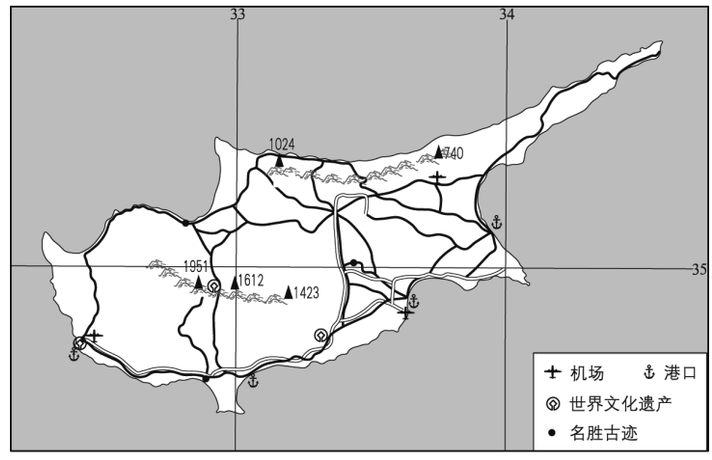

4. 阅读图文材料，回答问题。

《南极：终极之旅》是由资深极地科学家以其丰富学识和亲身经历，对南极洲的自然地理、生态环境、科学价值、历史人文等进行了全方位的介绍，尤其从旅游的角度对南极不同地区的景观特色、观光要览、经典旅游线路、相应的知识储备、野外探险安全、旅游环境保护等诸多方面加以详尽介绍。下图为《南极：终极之旅》封面。

说出南极地区主要的特色旅游资源，以及南极旅游开发的不利条件。

第三节　我国的旅游资源

第 1 学时　丰富多彩的旅游资源

板块一　提出问题　引领目标

导入问题，直指课时重点

雾凇是雾气和水汽遇冷凝结在枝叶上的冰晶。雾凇岛是松花江上的一座小岛，是观赏、拍摄雾凇的最佳地。雾凇岛的最佳观赏季节是每年的 12 月下旬到次年 2 月底，每天最理想的雾凇拍摄时间为 10 时～11 时 30 分之间。

1. 简要分析雾凇岛冬季易形成雾凇的原因。

2. 冬季前往雾凇岛旅游应做哪些方面的准备？

板块二　自学思疑　初探问题

尊重认知规律，亲历感悟知识生成

问题呈现

重点问题，统领性的问题，直指学习目标的问题

【问题一】　我国地域辽阔，有绚丽多姿的自然环境、悠久灿烂的历史文化，是世界上旅游资源最为丰富的国家之一。

1. 举例说出我国有哪些重要的自然旅游资源。

2. 举例说出我国有哪些重要的人文旅游资源。

【问题二】　“红色旅游”资源包括红军长征时期、抗日战争时期、解放战争时期留下的重要革命纪念地、纪念物及其所承载的革命精神，是进行爱国主义教育的材料。发展红色旅游，既是一项经济工程，更是一项文化工程、政治工程。

分析我国发展红色旅游的意义。

自主测评

检测自主学习效果，“学而时习之，不亦说乎”

1. 阅读图文材料，回答问题。

材料一　齐云山的风光绮丽动人，境内峰峦四起，峭壁耸立，飞云、流泉、云海、佛光四时变幻，绚丽多姿。山中奇峰、怪石广布，岩岩皆景，洞、涧、池、泉遍布其间，全山地质构造主要为沉积砂岩，赤如朱砂，灿若红霞，为典型的丹霞地貌。山奇、岩怪、水秀、洞幽。齐云山与黄山、九华山并称为皖南三大名山，现在是国家级风景名胜区。

材料二　皖南部分旅游景点示意图

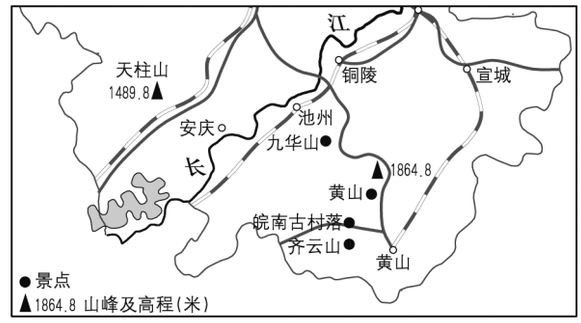

(1) 齐云山形成过程中经历的主要地质作用有哪些？

(2) 与黄山、九华山相比，齐云山的游客相对稀少，其旅游市场较冷清的主要原因是什么？

2. 阅读材料，回答问题。

北京什刹海景区景色优美，有恭王府、宋庆龄故居、郭沫若纪念馆，周边地区拥有整片保存较为完整的胡同和四合院，保留着许多富有老北京特色的民俗活动和京城传统的特色小吃，是北京著名的民俗旅游风景区。

(1) 说出该景区旅游资源的突出价值。

(2) 简析旅游开发对当地社会文化的积极影响。

板块三　合作互助　共析问题

发展创新思维，形成主动探究与合作的意识和能力

【问题三】　我国是世界上旅游资源最为丰富的国家之一。填表，归纳我国部分著名的自然旅游资源和人文旅游资源。

自然风光	
古代文化艺术宝藏	
革命纪念地	
民族风情	
十大名胜	
“五岳”	
四大佛教名山	
纳入“人与生物圈”自然保护区网	

板块四　展示交流　探究问题

提高分析问题、解决问题的能力，科学答题

精题设计

精选精展，展一反三

【精题一】　阅读图文材料，回答问题。

坭兴陶、宜兴陶、建水陶和荣昌陶并称中国四大名陶。随着全域旅游的兴起，“坭兴陶文化”成为广西钦州市旅游业发展的重要品牌之一。下面为钦州市旅游资源分布及对外交通示意图。

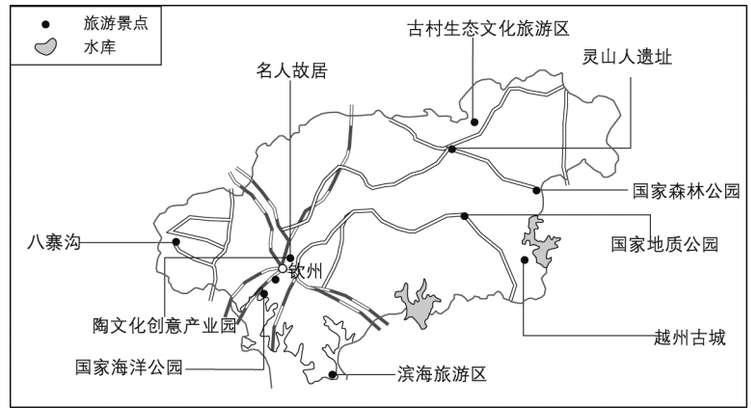

简述钦州市“坭兴陶文化”主题旅游开发的有利条件。

思路点拨：根据材料可知，“坭兴陶文化”成为广西钦州市旅游业发展的重要品牌之一，说明“坭兴陶”文化知名度高，且自然景观和人文景观众多，具有较高的美学价值和历史文化价值，且体现了当地政府的政策支持；据图可知，附近有名人故居、国家森林公园等知名旅游资源，集群状况和地域组合状况好；铁路、公路众多，交通通达度高，配套设施齐全，基础设施较为完善；离珠江三角洲经济发达地区较近，距客源市场近。

答案提示：“坭兴陶”文化知名度高，美学价值高；历史文化价值高；附近知名旅游资源多，构成集群，地域组合状况好；铁路、公路较发达，交通通达度高，基础设施较为完善；离经济发达地区（珠江三角洲）近，距客源市场近；政策支持。

【精题二】　下图中的山地均为世界遗产。阅读图文材料，回答问题。

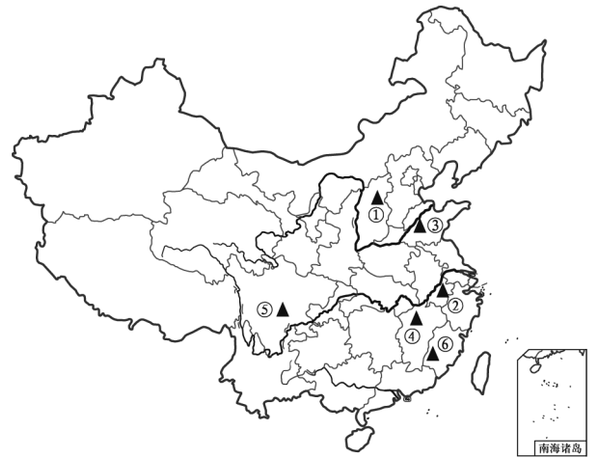

五台山是一座享誉世界的佛教名山，素有“清凉圣境”的美称，拥有世间罕见的佛教建筑群和大量的造像、雕像、壁画、经书等，于2009年6月作为文化景观被列入《世界遗产名录》。

1. 试比较①和⑤旅游资源开发条件的异同点。

2. 简述申遗成功对①文化发展的积极意义。

思路点拨：1. 由图可知，①位于山西，是五台山；⑤位于四川，是峨眉山，都属于佛教名山，都具有较高的历史文化价值，景区的景点较多。峨眉山位于南方，景色秀美，但是距经济发达地区较远，五台山更接近客源地。

2. 申遗成功，有利于民族文化的传承和保护，有利于文物古迹的保护。

答案提示：1. 相同点：都是佛教名山，都是世界遗产；历史文化价值高，旅游资源丰富。不同点：峨眉山自然景观秀美，五台山更接近旅游消费市场。　2. 促进文物古迹的保护，促进世界佛教文化的交流，促进民族文化的传承和保护。

探究问题

领悟性的问题，评价性的问题，挑战性的问题

【问题四】　西岳华山以险著称，有“自古华山一条路”之说，但省外游客在华山平均

停留的时间很短。试分析其原因。

板块五 归纳总结 应用演练

归纳总结，直指课时要点

归纳总结

扎实地掌握本课知识的重点和要点，理解知识之间的逻辑关系

我国的旅游资源
- 我国的自然旅游资源以①_____最重要
- 我国的②_____旅游资源：古代文化艺术宝藏，风土民情，土特产、中医、菜肴等

应用演练

应知应会的知识和技能

1. 阅读材料，回答问题。

经过世代演化，稻作梯田已成为代表人类与环境关系的文化景观。下表示意紫鹊界梯田的基本情况与旅游发展状况，下图为紫鹊界梯田景观图。

民族	苗族、瑶族、汉族等多民族
位置	湖南省娄底市新华县
气候	年均温 13.7℃，年降水量 1650 毫米～1700 毫米
旅游发展模式	政府主导型。发展历史 5000 余年，目前已成为国家重点风景名胜区
旅游发展问题	梯田旱化与弃耕造成景观品位下降；泥石流破坏大量梯田景观；劳动力流失；景区基础设施滞后，可进入性差

指出当地旅游管理部门为达到梯田旅游业可持续发展的目的应采取的具体措施。

2. 阅读材料，回答问题。

温泉孔雀城位于大北京1小时生活圈内，有无可复制的稀缺自然资源——地热温泉。该地独创高端温泉养生体系，致力于打造休闲、度假、养生为一体的大北京世界温泉养生度假小镇。

指出温泉孔雀城发展休闲旅游的优势，以及需要注意的问题。

3. 阅读图文材料，回答问题。

碛口镇是山西省吕梁市临县古村落最多的乡镇之一。碛口镇西临黄河，与陕西省吴堡县隔河相望。碛口镇距太原市230千米，距吕梁市50千米。这里的古村落隐于吕梁山深处，藏于黄土高原空谷，遮于黄土红枣林中。纯朴的百姓人家、古朴的村落风貌、黄河与黄土美景吸引着全国各地的许多艺术家前来采风创作，然而多年以来到这里旅游的普通游客十分稀少。下面为碛口镇主要古村落分布示意图及古村落景观图。

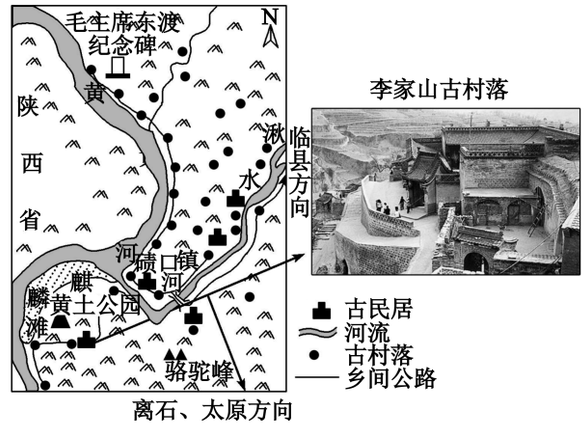

分析碛口镇发展旅游业的资源优势，以及普通游客稀少的主要原因。

4. 阅读材料，回答问题。

“候鸟式”养老旅游是老年人随着季节变化而转换居住地的一种休闲生活方式。近年来，我国北方老年人冬季赴海南岛养老旅游的数量大增。

分析海南岛冬季吸引我国北方老年人养老旅游的原因。

第 2 学时　我国的世界遗产

板块一　提出问题　引领目标

导入问题，直指课时重点

在柬埔寨首都金边召开的第 37 届世界遗产大会完成持续三天的新增世界遗产项目审议，通过了包括新疆天山、云南红河哈尼梯田在内的 19 处新增世界遗产，全球世界遗产总数达到 981 处。我国世界遗产数量仅次于意大利，位居世界第二位。下面依次为新疆天山景观、哈尼梯田景观。

新疆天山、云南红河哈尼梯田分别属于哪类世界遗产？

板块二　自学思疑　初探问题

尊重认知规律，亲历感悟知识生成

问题呈现

重点问题，统领性的问题，直指学习目标的问题

【问题一】　我国的许多旅游资源在审美、历史、艺术、科学等方面的价值具有世界意义。

1. 读结构图，分析我国世界遗产丰富的原因。

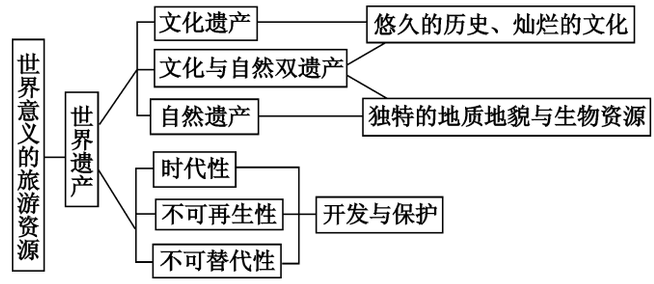

2. 我国的世界遗产数量众多，简述其重要性。

自主测评

检测自主学习效果，“学而时习之，不亦说乎”

1. 阅读图文材料，回答问题。

灵渠位于桂林市兴安县境内，是秦始皇为攻打百越时运输粮食等物资而修建的。灵渠是我国现存较完好且仍有利用价值的古水利工程之一，其南渠是连接湘江与大溶江的河段，全长 33.15 千米，落差 30.26 米，坡降 0.09%。2016 年，灵渠代表广西壮族自治区参加中国申报世界文化遗产的提名。

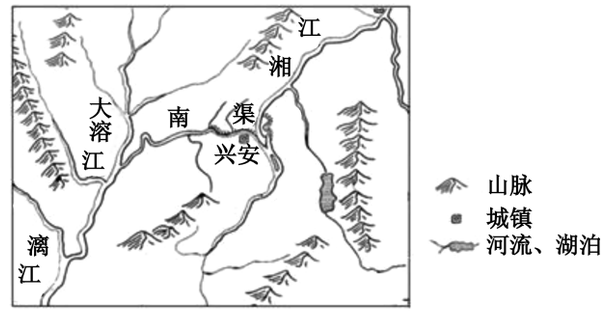

分析灵渠南渠选址的自然条件，并说明灵渠能申报世界文化遗产的原因。

2. 阅读图文材料，回答问题。

泰山是我国著名的风景名山，被列入第三批世界地质公园，著名景观有瀑布、旭日东升、云海玉盘等。与我国中部、西部地区的许多山峰相比，海拔 1500 多米的泰山并不突出，然而它却能位居五岳之首。泰山也是历代帝王封禅最多的山峰。下面为泰山景观图。

（1）山西一位游客打算到泰山游玩，请告诉他来泰山游玩的最佳季节及其理由。

（2）泰山位居“五岳”之首，是历代帝王封禅最多的山峰。试分析其原因。

板块三　合作互助　共析问题

发展创新思维，形成主动探究与合作的意识和能力

【问题二】　截至 2019 年 7 月，经联合国教科文组织审核被批准列入《世界遗产名录》的中国的世界遗产共有 55 项，包括世界文化遗产 37 项，世界文化与自然双重遗产 4 项，世界自然遗产 14 项。

1 我国的世界文化遗产（共 37 项）。

项目	所在省级行政区域	简要说明
长城	黑、吉、辽，河北至新疆维吾尔自治区	世界上最大的古代防御工程
明清皇宫（北京故宫、沈阳故宫）	北京、辽宁	建筑面积最大的古代皇宫，体现了中国古代皇家建筑布局和东方木结构建筑的特色
北京皇家园林—颐和园	北京	中国古代最典型的皇家园林
北京皇家祭坛—天坛	北京	中国规模最大的坛庙建筑群
周口店北京人遗址	北京	1929 年首次发现完整的古人类头盖骨化石的考古发掘点
明清皇家陵寝（明孝陵、明十三陵、明显陵、清东陵、清西陵、盛京三陵）	江苏、北京、湖北、河北、辽宁	中国规模最大、保存最完好的古代帝王陵墓群
承德避暑山庄及其周围寺庙	河北	中国规模最大的皇家园林、皇家寺庙建筑群
曲阜孔庙、孔林和孔府	山东	孔子的祭祀庙宇、世袭住宅、墓地
拉萨布达拉宫历史建筑群	西藏自治区	西藏自治区最大的王宫和重要寺庙
秦始皇陵及兵马俑坑	陕西	中国第一位皇帝的陵墓
莫高窟	甘肃	以盛唐壁画艺术、丰富的古代佛教文物著称的佛教石窟寺

登封“天地之中”历史古迹	河南	中国时代跨度最长、建筑种类最多、文化内涵最丰富的古代建筑群
云冈石窟	山西	以北魏时期雕塑艺术风格为主的佛教石窟寺
开平碉楼与村落	广东	广东省第一处世界文化遗产
龙门石窟	河南	以唐宋时期雕塑艺术风格为主的佛教石窟寺
大足石刻	重庆	以唐宋特别是南宋时期雕刻艺术风格为主的佛教石刻群
苏州古典园林	江苏	中国最著名的园林城市
平遥古城	山西	以古代银行业（票号）而兴盛的保存完整的明清古城
丽江古城	云南	以纳西族木府为核心的保存完整的高原古城
皖南古村落—西递、宏村	安徽	充分体现徽派建筑艺术的明清古代民居
青城山—都江堰	四川	道教名山、道教发源地，中国古代著名水利工程
武当山古建筑群	湖北	道教名山，中国规模最大的道教建筑群
高句丽王城、王陵及贵族墓葬	吉林、辽宁	兴于西汉末年，盛于公元 4～6 世纪，亡于 7 世纪中叶的高句丽王城遗址及墓葬群
五台山	山西	中国四大佛教名山之首
庐山风景名胜区	江西	临长江、依鄱阳湖，占尽地利，云飘雾漫，是著名的避暑胜地
安阳殷墟	河南	中国发现的最早古都遗址
澳门历史城区	澳门	建筑同时承载了东西方文化的特点
福建土楼	福建	独特的建筑风格和历史文化著称于世。世界上独一无二的山区大型夯土民居建筑
杭州西湖文化景观	浙江	是中国历代文化精英秉承“天人合一”哲理，在深厚的中国古典文化、绘画美学、造园艺术和技术传统背景下，创造的“中国山水美学”景观的最经典作品

元上都遗址	内蒙古自治区	是中国元代都城遗址，被认定是中原农耕文化与草原游牧文化奇妙结合的产物
红河哈尼梯田文化景观	云南	以哈尼族为主的各族人民利用“一山分四季，十里不同天”“山有多高，水有多高”的特殊地理气候，发挥聪明才智和创造精神开垦的上百万亩农业生态奇观
大运河	北京、天津、河北、河南、山东、江苏、安徽、浙江	世界上开凿最早、规模最大、距离最长的运河，是我国古代劳动人民创造的伟大的水利建筑
丝绸之路	陕西、甘肃、新疆维吾尔自治区	一条东方与西方之间经济、政治、文化进行交流的主要道路；世界首例跨国合作、成功申遗的项目
土司遗址	湖南、湖北、贵州	包括湖南永顺老司城遗址、湖北恩施唐崖土司城址、贵州遵义海龙屯，是“土司”的行政与生活中心聚落遗存，是“土司制度”的珍贵物证，见证了古代中国对多族群聚居地区管理和多元文化保护的独特智慧
左江花山岩画文化景观	广西壮族自治区	花山岩画密集分布在崇左市境内的左江及其支流明江两岸 200 多千米的崖壁上，其中宁明花山是典型代表
鼓浪屿	福建	鼓浪屿全岛的绿地覆盖率超过 40%，植物种群丰富。代表景点有：日光岩、菽庄花园、皓月园、毓园、鼓浪石、鼓浪屿钢琴博物馆、郑成功纪念馆、海底世界、天然海滨浴场、海天堂构等
良渚古城遗址	浙江	位于杭州市余杭区瓶窑镇内，是长江下游环太湖地区的一个区域性早期国家的权力与信仰中心所在。良渚古城是长江下游地区首次发现的新石器时代城址

2 我国的世界自然遗产（共 14 项）。

项目	所在省级行政区域	简要说明
武陵源风景名胜区	湖南	以奇特的砂岩峰林地貌享誉中外
九寨沟风景名胜区	四川	亚热带山地，喀斯特地貌，湖、瀑错落，人入其间，有脱尘忘俗之感
黄龙风景名胜区	四川	以石灰岩为主形成的山地喀斯特地貌风景
云南三江并流保护区	云南	保存完好的亚热带高山、深谷自然生态系统
四川大熊猫栖息地	四川	包括卧龙、四姑娘山、夹金山脉，面积 9245 平方千米
中国南方喀斯特	云南、贵州、重庆、广西壮族自治区	包括云南石林、贵州荔波、重庆武隆、广西桂林、贵州施秉、重庆金佛山、广西环江，有着多样的喀斯特地貌
三清山世界地质公园	江西	国家重点风景名胜区。景区内千峰竞秀、万壑奔流、古木茂盛、珍禽栖息，同时又是一座具有 1600 余年历史的道教名山
中国丹霞	广东、湖南、福建、贵州、江西、浙江	集地质多样性、地貌多样性、生物多样性、景观珍奇性于一体的杰出代表
澄江化石遗址	云南	保存完整的寒武纪早期古生物化石群，生动地再现了 5.3 亿年前海洋生命的壮丽景观和现生动物的原始特征
新疆天山	新疆维吾尔自治区	新疆天山是全球唯一的由巨大沙漠夹持的大型山脉，以深居内陆的地理位置，干旱的气候，山盆相间的地貌格局，众多的冰川河流，绝妙的自然景观，特殊的生物体系和生态过程等诸多自然特征，成为全球温带干旱区大型山地生态系统的典型代表
湖北神农架	湖北	有中国中部地区最大的原始森林，是许多珍稀动物的栖息地，是中国三大生物多样性中心之一
青海可可西里	青海	主要是保护藏羚羊、野牦牛、藏野驴、藏原羚等珍稀野生动物、植物及其栖息环境
梵净山	贵州	主要保护对象是以黔金丝猴、珙桐等为代表的珍稀野生动植物及原生森林生态系统
中国黄（渤）海候鸟栖息地	江苏	该区域为 23 种具有国际重要性的鸟类提供栖息地，支撑了 17 种世界自然保护联盟濒危物种红色名录物种的生存

3 我国的世界文化与自然双遗产（共 4 项）。

项目	所在省级行政区域	简要说明
泰山	山东	东岳，有“五岳独尊”之誉
武夷山	福建	以风景奇秀、生物种类丰富而著称，素有“武夷奇秀甲东南”之说
黄山	安徽	风光秀绝，气势恢宏，并有多处名山特色
峨眉山—乐山大佛	四川	佛教名山，普贤菩萨道场，素有“峨眉天下秀”之说；乐山大佛通高 71 米，是世界上最高的石刻造像

板块四　展示交流　探究问题

提高分析问题、解决问题的能力，科学答题

精题设计

精选精展，展一反三

【精题一】　母爱圣地——乳山，人间仙境——蓬莱，走遍四海，还是威海……好客山东欢迎您！江苏的李老师暑假在家，被央视播出的旅游广告所吸引，于是决定对山东进行自驾车考察旅游，其考察线路如图所示。读图，回答问题。

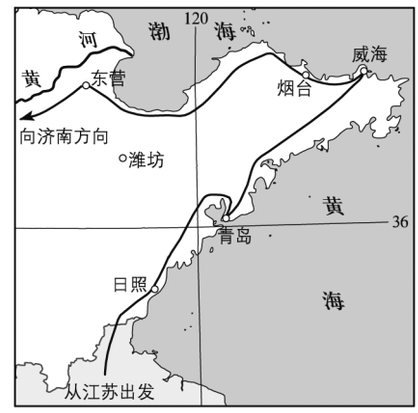

1 说出李老师设计的旅游线路上，旅游资源的空间分布特点；以及从东营经过济南回江苏的路上，还可以欣赏到的世界文化遗产名称。

2 山东省旅游业发达，试简述其原因。

3 东营是李老师在山东沿海考察的最后一个城市。这里的黄河三角洲国家级自然保护区是野生动植物资源的“基因库”，是许多珍稀、濒危鸟类迁徙停留的“国际机场”，目前开发才刚刚起步。你对东营开发沿海旅游资源有哪些建议？

思路点拨：1. 从图中可知，其旅游景点多分布在沿海地区。从东营经过济南再回到江苏会欣赏到泰山和“三孔”这两个世界文化遗产。

2. 山东旅游业发达可从旅游资源、经济发达程度、游客多少、交通通达性、基础设施

的完善程度、接待能力等方面分析。

3. 对东营沿海旅游资源开发的建议要从旅游景观、旅游设施和旅游环境等方面分析。

答案提示：1. 沿海分布。　泰山、“三孔”（孔府、孔庙、孔林）。　2. 独特而丰富的旅游资源；位于东部沿海地区，经济发达，客源丰富；旅游市场距离近；交通便利；基础设施完善，接待能力强。　3. 加强基础设施建设，开发与保护相协调，加强对环境的监测，加强环保宣传等。

【精题二】　下图所示区域中的世界文化遗产，始建于公元366年，以其现存规模大、保存完好的壁画和塑像闻名于世。近年来，游客数量不断增加，对该文化遗产构成较大威胁。

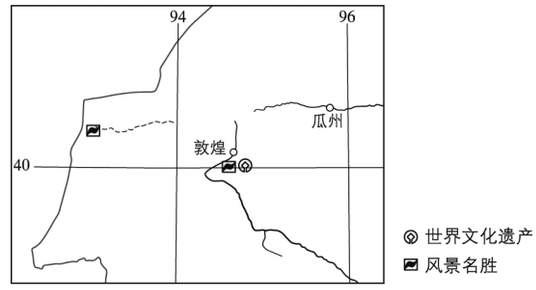

1. 简述图示区域中文化遗产保存较完好的自然原因。

2. 说出为保护该文化遗产应采取的措施。

思路点拨：1. 主要审题“自然原因”。根据经纬度可知，该区域位于我国西北地区，远离海洋，降水稀少，气候干旱，有利于文物保存。

2. 结合材料提示“近年来，游客数量不断增加，对该文化遗产构成较大威胁”，在自然条件下保护较完好，由于人为原因对文化遗产构成较大威胁，保护该文化遗产应采取的措施主要从人为因素方面来考虑。

答案提示：1. 地处内陆，降水稀少，气候干旱，有利于文物保存。　2. 合理控制游客数量，实行淡、旺季门票制，加强监测和管理，用数字化和多媒体展示等。

探究问题

领悟性的问题，评价性的问题，挑战性的问题

【问题三】　分析我国积极申报世界遗产的原因。

板块五 归纳总结 应用演练

归纳总结，直指课时要点

归纳总结

扎实地掌握本课知识的重点和要点，理解知识之间的逻辑关系

我国的旅游资源
- 丰富多彩的旅游资源
  - 我国的自然旅游资源以①_____最重要
  - 我国的②_____旅游资源
- 我国的世界遗产
  - 世界③_____遗产
  - 世界④_____遗产
  - 世界文化与自然遗产

应用演练

应知应会的知识和技能

1. 阅读图文材料，回答问题。

以成都为中心的川西地区是目前我国的旅游热点地区。下面为成都旅游热线图。

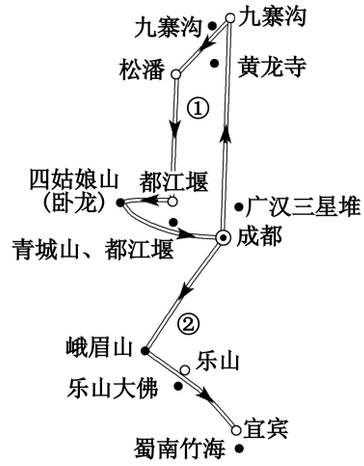

(1) ①②两条旅游热线，①线路更受欢迎，请简要分析其原因。

(2) 九寨沟是 5A 级景区，每年吸引大量国内外游客前来旅游。2017 年 8 月 8 日夜景区发生 7 级地震，部分景点及道路受损，8 月 9 日起停止接待游客。你对九寨沟景区震后恢复发展旅游业有哪些建议？

2. 阅读图文材料，回答问题。

在德国波恩召开的第39届世界遗产大会上，中国申报的“中国土司遗产”成功列入世界文化遗产名录。中国土司遗产包括湖南永顺土司城遗址、贵州播州海龙屯遗址、湖北唐崖土司城遗址。这次申报的三处遗址为中国规模较大、格局完整、遗存丰富且最具价值特征代表性的土司城遗址。至今，这些遗产所在地的居民仍传承着各自典型的民族习俗与文化传统。下面为湖南永顺土司城遗址景观图。

说明中国土司遗址在开发文化旅游的过程中应注意的问题。

3. 西藏自治区位于我国的西南边陲，拥有良好的旅游资源。读西藏自治区旅游资源分布示意图，回答问题。

（1）简述西藏旅游资源的特色。

（2）说出图中属于世界文化遗产的景点名称。

（3）简要评价拉萨旅游开发的区位条件和客源市场条件。

（4）面对“西藏热”，布达拉宫景区已严格限制游客人数。试分析这样做的原因。

4. 阅读图文材料，回答问题。

材料一 2014 年 6 月 22 日，在卡塔尔首都多哈召开的第 38 届世界遗产大会，同意将中国大运河列入《世界遗产名录》。至此，大运河作为文化遗产正式列入《世界遗产名录》。在这次大会上与中国大运河同时申遗成功的还有“丝绸之路”。

材料二 中国大运河示意图

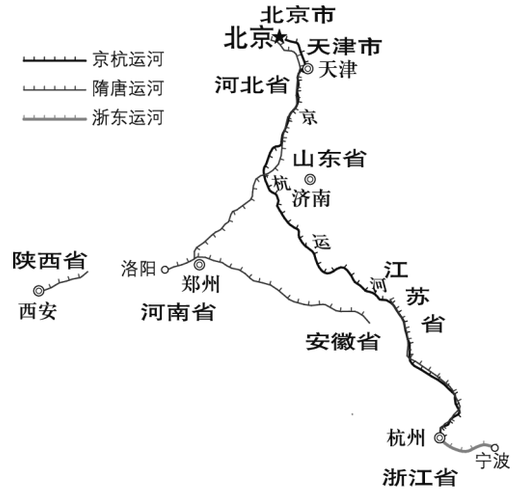

(1) 中国大运河与京杭运河是两个不同的概念，请你谈谈两者的区别并分析中国大运河申遗的目的。

(2) 请对中国大运河的旅游条件做出评价。

5. 阅读图文材料，回答问题。

深秋时节，夕阳之下，金色的胡杨林把塔里木河两岸装点得如诗如画。漫步在金色的胡杨林中，仿佛进入了美丽的童话世界。下面为胡杨林景观图。

(1) 塔里木河胡杨林景观十分美丽，游客却比较少，试分析其原因。

(2) 并简述当地开发旅游资源对经济发展的影响。

第二章核心知识点

知识点三　旅游资源的类型与分布

1. 旅游资源的特点

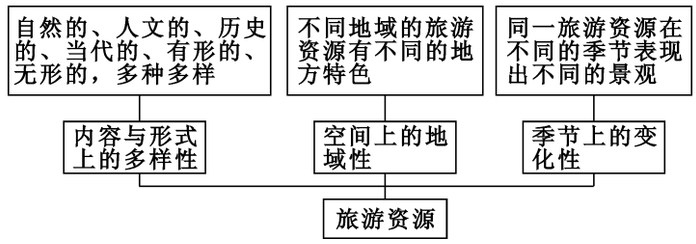

2. 旅游资源的类型

根据旅游资源的本质属性，一般将旅游资源划分为自然旅游资源和人文旅游资源两种类型。它们的种类、形成过程、旅游价值、表现形式不同。

	种类	举例	旅游价值	核心	表现形式	形成过程
自然旅游资源	地文景观类	路南石林	对于探险猎奇、游乐、疗养等性质的旅游具有重要意义	地貌景观	具体形式	自然过程
	气象气候类	黄山云海				
	水域风光类	杭州西湖				
	生物景观类	黄山迎客松				
	宇宙类	陨石				
人文旅游资源	古迹和古建筑	北京故宫	表现在教育性（知识、文化的）旅游方面的意义	建筑景观	具体形式和精神文化形式	历史过程及当代人类活动
	现代建筑成就	上海东方明珠塔				
	休闲、求知、健身	植物园				
	购物	庙会				

知识点四　旅游资源的地理成因分析

各种旅游景观，都是自然因素和人文因素综合作用的产物。

		形成原因	举例
自然景观	地质地貌景观	地质构造、岩性和地貌因素，对自然景观形成有重要作用	断块隆升形成了雄伟的泰山、恒山、华山、庐山等，构造断陷形成鄱阳湖、青海湖等，火山活动形成了五大连池等；在石灰岩分布区，流水常年溶蚀形成了贵州溶洞、云南石林等
	天象与气候景观	冷、热、干、湿和风、云、雨、雪等天气现象，本身就是自然景观；气候对风景地貌的雕塑、风景水体的形成、观赏性动植物的生长与演化，也有着控制性的影响	哈尔滨的冰雪、长春的雾凇、黄山的云海等
	水域风光	水文因素是旅游景观的重要组成部分，水动力作用是许多旅游景观形成的重要原因	海洋、湖泊、泉水、瀑布和冰川等都是重要的旅游景观类型。水的溶蚀作用形成喀斯特地貌，河流下切作用形成了长江三峡；海洋的潮汐作用形成了钱塘江大潮
	生物景观	取决于气候、水文、土壤和地形条件的综合影响	各类自然保护区、森林公园和特色生物景观，都是富有生机的自然景观不可缺少的组成部分
人文景观		自然地理环境造成了人文景观的地域差异；各地不同的历史文化、人口特征、生活习惯和政治经济状况，形成了丰富多彩的人文旅游景观	我国西北地区气候干燥，有利于壁画的保存，而南方地区气候潮湿，以雕刻造像为主；各民族的风俗民情、宗教文化景观、各地的生活习俗等形成了不同的人文旅游景观

知识点五　旅游资源开发条件评价

1. 区位条件和可进入性

区位条件和可进入性
- → 优越的地理位置 → 增强旅游资源的吸引力
- → 旅游交通条件 → 决定了旅游区的可进入性和旅游资源开发的难易程度
- → 与周边区域的关系 → 决定了旅游区之间是优势互补、联动发展，还是互为替代、竞争发展

2. 客源市场条件

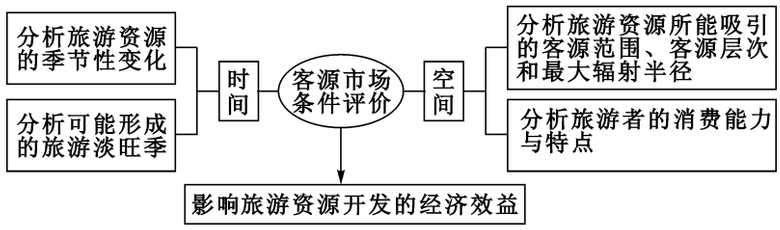

3. 区域环境背景

自然环境背景	水文、生物	影响旅游资源的质量和品位
	气候的季节性变化和舒适程度	影响旅游感受，形成淡旺季
	自然灾害发生率	影响旅游安全和旅游开发效益
社会文化环境背景	政治局势、政策法规、社会治安、政府及当地居民对旅游业的态度、卫生保健状况、地区开放程度、风俗习惯	

4. 经济背景

主要是指旅游资源所在区域的经济状况，例如资金、劳动力、物产和物资供应、基础设施、建设用地等条件。一般情况下，旅游资源所在地的社会经济越发达、开发能力越强，对旅游者的吸引力越大。

第二章综合测试题

1. 阅读图文材料，回答问题。

近年来，冰川探险游越来越流行，但由于冰川探险旅游的特殊性和全球变暖的影响，冰川探险游中极易发生安全事件。下面为我国大陆六大最美冰川分布图。

（1）分析冰川探险游危险的原因。

（2）分析冰川探险游受旅游者青睐的原因。

2. 阅读材料，回答问题。

海南是我国重要的旅游目的地之一，是我国唯一的热带海岛型旅游度假省份。2019 年春节期间，旅游人数再创新高。在海南，你会看到全国各地的车辆行驶在路上，成为一道独特的景观。据统计，来自东北的游客占海南客源市场比重最大，其次是海南本省的游客；来自河南、河北、内蒙古、重庆、湖南、湖北等省区的游客比重也比较大，来自广西、广东、福建等省区的游客相对较少。

分析春节期间海南省旅游客源市场的特点。

3. 阅读图文材料，回答问题。

古村落是指民国以前建村，保留了较大的历史沿革，即建筑环境、建筑风貌、村落选址、名人故居未有大的变动，具有独特的民俗民风，虽经历久远年代，但至今仍为人们服务的村落。这些古村落现已成为许多大学生写生、画家采风取材、游客观赏的最佳胜地。下面为我国西南地区著名的古村落分布示意图。

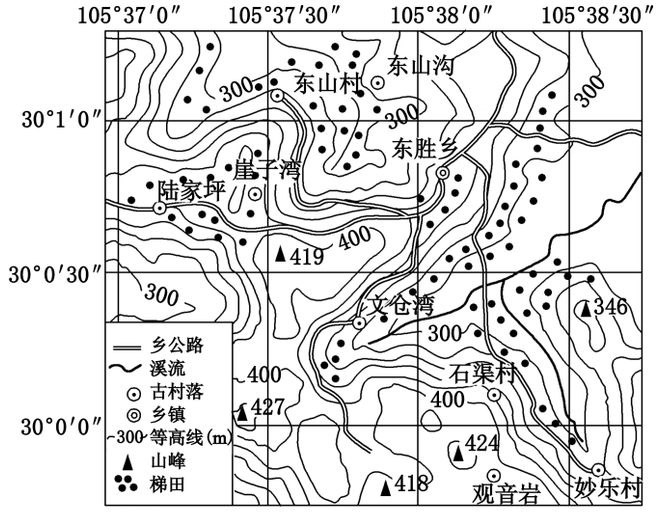

指出该地发展古村落旅游的有利条件和主要开发方向。

4. 阅读图文资料，回答问题。

冰岛位于北大西洋中部，靠近北极圈，温带海洋性气候给冰岛带来丰沛的降水。冰岛全境冰川、火山大范围地并存，因此被称为“冰与火之国”。神奇的北极光、引人入胜的温泉吸引着越来越多的游客瞩目冰岛。下面为冰岛地理位置示意图。

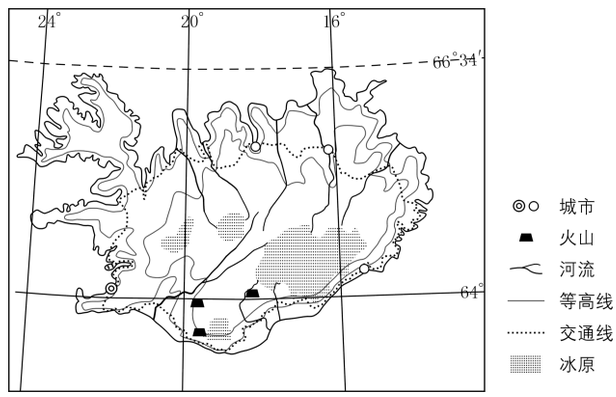

写出冰岛突出的旅游资源价值，并简析冰岛温泉众多的原因。

5. 阅读图文材料，回答问题。

苏州国际旅游节为满足大众需求，推出了个性化的旅游服务——“私人订制”旅行。所谓“私人订制”是指高端旅行策划机构根据客户的特定要求，从路线、方式和服务着手为客户量身打造的具有浓郁个人专属风格的旅行。下图示意苏州旅游景区分布及部分“私人订制”旅游路线。

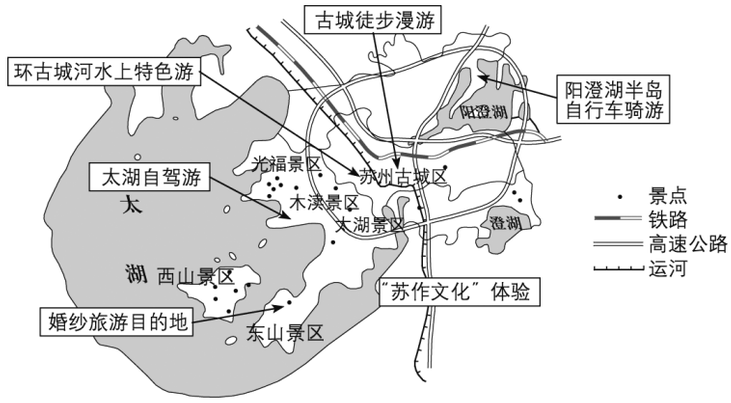

说出苏州推出“私人订制”旅行的原因及其意义。