板块一　中国古代史

（一）史前时期：中国境内早期人类与文明的起源

【能力提升】

1 在研究中国早期人类的代表——北京人时，小丽和同学们针对下面几幅图片展开对北京人生活的讨论。你认为据此可以得出的结论有　　（　　）

北京人使用的石器

北京人头部复原像

北京人狩猎场景想象图

①北京人会制造粗糙的石器　②北京人已经可以直立行走　③他们的面部保留有猿的特征　④北京人已经掌握了原始农耕

A. ①②③　　B. ①②④

C. ②③④　　D. ①③④

2 历史遗址、遗迹是我们了解历史的重要途径之一。下列历史遗址、遗迹中，有助于我们了解史前农耕社会生活的是　　（　　）

A. 周口店北京人遗址

B. 河姆渡和半坡遗址

C. 殷墟和都江堰遗址

D. 陕西秦始皇陵兵马俑

3 （2019·江苏苏州）许倬云在《万古江河》中提到，现在常说的“新石器”与“旧石器”时代，以人类生产食物来维持生计的方式为分界线，从旧石器时代采集食物，到新石器时代生产食物。许倬云认为划分新、旧石器时代的分界线是　　（　　）

A. 天然火的运用

B. 打制石器的使用

C. 群居生活出现

D. 原始农业的兴起

4 传说是在文字尚未发明的时代，人们利用口耳相传的方式对历史所做的记录。因此，传说通常不一定可靠。下列属于传说的是　　（　　）

①炎帝神农氏曾在山西高平地区尝百草、种五谷　②商朝龟甲卜辞记载，王室征伐、问吉凶　③黄帝造宫室、车船、兵器　④河姆渡居民已会种植水稻

A. ①②　　B. ②③

C. ①③　　D. ②④

5 历史图片被称为“凝固的历史”。对下列图片中历史信息的解读，不正确的是　　（　　）

图一　河姆渡遗址出土的稻谷

图二　黄帝（汉画像石）

图三　司母戊鼎

图四　春秋铁农具

A. 图一是我国长江流域原始农耕的实物证据

B. 图二证明了中国历史上确有黄帝这一人物

C. 图三反映了我国古代青铜铸造的高超工艺

D. 图四说明春秋时期已经用铁农具耕种土地

6（2019·广东）《周易·系辞下》记载，“黄帝、尧、舜……舟楫之利以济不通”。以下考古发现能够印证记载中“舟楫”的是　（　）

A. 辽宁建平出土的彩陶罐

B. 河南舞阳出土的七孔骨笛

C. 重庆巫山出土的筒形瓶

D. 陕西宝鸡出土的船形彩陶壶

【拓展延伸】

阅读材料，回答问题。

材料一：

图一　北京人头盖骨化石　图二　北京人牙齿化石

图三　北京人使用的石器

材料二：河姆渡原始居民主要使用磨制石器，用耒耜耕地，种植水稻，住干栏式的房子，过着定居生活。他们已经会挖掘水井，饮水比以前方便了。他们会饲养家畜，会制造陶器，还会制作简单的玉器和原始乐器。

半坡原始居民普遍使用磨制石器，他们用磨光的石器和木质的耒耜耕地，用石刀收割庄稼。他们的主要粮食作物是粟。半坡原始居民饲养猪和狗等动物，还打猎捕鱼。半坡原始居民住在半地穴式的圆形房子里。他们能制造色彩鲜艳的彩陶，上面绘有各式各样的美丽图案。半坡居民已学会纺线、织布、制衣。

材料三：相传右图人物是五六千年前的部落联盟首领，他曾联合一些部落，在阪泉之战中打败炎帝部落，后来两大部落联盟打败蚩尤部落。

【能力提升】

1（2019·江西）《礼记·礼运》认为，在“天下为公”的“大同”之世之后，社会进入“天下为家”的“小康”之世。“大人世及以为礼，城郭沟池以为固，礼义以为纪。”中国最早具备以上“小康”之世特征的王朝是　（　）

A. 夏朝　　B. 商朝

C. 周朝　　D. 秦朝

2 夏、商、周三代是中华文明的第一个高峰时期，为后代文明的发展奠定了基础。下列对这一时期的文明成就表述正确的是　（　）

A. 夏朝是中国历史上第一个封建王朝

（1）材料一中的古人类化石和石器发现于哪一地点？它们的发现有什么重要价值？

（2）材料二中的两段话分别代表了我国哪两个流域原始居民的农耕生活？根据材料二概括他们的农耕生活有哪些共同特点。

（3）材料三中的人物被后人尊称为什么？相传他的发明有哪些？（列举两例）

（4）综合上述材料，你认为了解史前社会的重要途径有哪些？

（二）夏商周时期：早期国家与社会变革

山西教育出版社

B. 西周的地方管理制度是郡县制
C. 青铜器主要用于祭祀的礼器和农具
D. 商朝出现了体系较为完整的甲骨文

3 某班同学在参观某博物馆时，讲解员指着一块刻有文字的兽骨残片告诉同学们说："这些文字记录和反映了商王室的活动和商朝的政治、经济情况，对研究商朝的历史有重要的价值。"据此判断，这块残片上的文字应该是 （　　）
A. 刻画符号　　B. 甲骨文
C. 隶书　　D. 小篆

4 （2019·山东青岛）"至于商朝的历史，则因有近代殷墟出土的遗物为佐证，已大体可以列入信史的范围。"下列出土的遗物可以佐证商朝历史的是 （　　）
A. 棉纺织品
B. 景德镇的瓷器
C. 刻有文字的甲骨
D. 圆形方孔半两钱

5 对血缘、制度、价值取向和家国的认同，便是对文化的认同。"西周"所处的时代，体现出这些文化认同的主要特征是 （　　）
A. 封邦建国、制礼作乐
B. 社会变革、百家争鸣
C. 国家分裂、民族交融
D. 皇权强化、闭关锁国

6 （2019·山东聊城）《诗经》中的"千耦其耘"是对西周时期大规模集体耕作的形象描述。当时实行大规模集体耕作的原因主要是 （　　）
A. 劳动力充足
B. 技术落后
C. 生产工具简陋
D. 农作物品种单一

7 成语典故是我国历史文化遗产中的一颗璀璨明珠。下列成语典故与其对应的战役，发生在今山西境内的是 （　　）
A. 围魏救赵——桂陵之战
B. 破釜沉舟——巨鹿之战
C. 纸上谈兵——长平之战
D. 草船借箭——赤壁之战

8 公元前 636 年，在外颠沛流离了 19 年的重耳，历经千辛万苦，在秦国的帮助下，回到晋国做了国君。后来，他在大臣的辅佐下，进行了一系列政治、经济改革，为晋国走上富强、成就霸业创造了条件。城濮之战，晋国打败楚国，成为天下霸主。这段话中描述的主人公是 （　　）
A. 秦孝公　　B. 晋文公
C. 楚庄王　　D. 晋献公

9 位于太原汾河西畔的山西博物院，其基本陈列以"晋魂"为主题，由文明摇篮、夏商踪迹、晋国霸业、民族熔炉、佛风遗韵、戏曲故乡、明清晋商七个历史文化专题构成。小朱同学为其中的四个专题寻找相关的史实，其中不正确的是 （　　）

选项	专题	史实
A	文明摇篮	甲骨文发祥地
B	晋国霸业	晋楚城濮之战
C	民族熔炉	北魏孝文帝迁都
D	佛风遗韵	山西大同云冈石窟

10 生产工具和生产技术的革新是推动社会经济发展的重要标志。下列由于运用了先进技术而成为我国农业发展史上一次革命的是 （　　）

A. 耒耜


B. 牛耕

C. 曲辕犁

D. 筒车

11 （2019·湖南益阳）我国古代儒家主张"仁""信"、墨家主张"兼爱"、法家主张以"法"治国；社会主义核心价值观中有"和谐""诚信""友善""法治"等内容。这表明社会主义核心价值观（　　）
A. 照搬了春秋战国时期的思想
B. 是现代中国建设的经验总结
C. 植根于优秀的中华传统文化
D. 是马克思主义中国化的产物

【拓展延伸】

1 夏、商、西周是我国早期国家产生和发展的重要阶段，创造了灿烂的文明。阅读材料，结合所学，回答问题。

材料一：夏传子，家天下。四百载，迁夏社。汤伐夏，国号商。六百载，至纣亡。周武王，始诛纣。八百载，最长久。

——《三字经》

（1）根据材料一和所学知识，填写下面表格中所缺的内容。

山西教育出版社
山西教育出版社
山西教育出版社

朝代	开国之君	亡国之君	都城
①	禹	桀	阳城
商	②	纣	亳
西周	周武王	③	镐京

材料二：大道之行也，天下为公，选贤与能，讲信修睦。故人不独亲其亲，不独子其子，使老有所终，壮有所用，幼有所长……是故谋闭而不兴，盗窃乱贼而不作，故外户而不闭，是谓大同。今大道既隐，天下为家，各亲其亲，各子其子，货力为己，大人世及以为礼，城郭沟池以为固……故谋用是作，而兵由此起。禹、汤、文、武、成王、周公，由此其选也。……是谓小康。

——《礼记》

（2）材料二所描述的从“大同”到“小康”，社会发生了怎样的变化？

材料三：3900 多年前，殷商国力强盛。工匠们正在铸造一个巨大的青铜器。这项大型工程在当时堪称尖端科技，从采矿、冶炼、运输、合金、铸造到修饰成形，过程漫长。它就是我们熟知的后母戊鼎，因鼎身的三字铭文而得名。铸造这件 832.84 千克的青铜器，前后各道工序均需大量熟练工人协作配合。所需金属原料至少在 1000 千克以上，而且必须有巨大的熔炉。

——《国宝会说话》解说词

（3）材料三中国宝“后母戊鼎”的制作过程说明了什么？

材料四：周初的分封，一定程度上摧毁了中原地区原有的氏族部落壁垒，将中央王朝的统治伸展到了中原各地，也将周人的文化传播到了中原地区的每一个角落，由此拉开了中国历史上第一次民族大融合的序幕，也极大地推动了中国统一多民族国家的发展。

——韦东超《朝贡体制和分封制对我国统一多民族国家形成的作用》

（4）根据材料四，简述周初分封制的内容及所起的作用。

2 春秋时期，随着战乱纷争局面的出现，社会经济、政治、思想等领域都发生了大的变化。阅读下列材料，结合所学知识，回答问题。

材料一：古书上记载，春秋时期，人们已使用铁农具来耕种土地。在湖南、河南、江苏等地的春秋墓葬中，发掘出一批铁农具。此外，至迟在春秋末年，人们已使用牛来耕地。

材料二：春秋时期，各诸侯国为了自身利益，相互之间展开激烈的争斗。一些强大的诸侯国为取得优势，以“尊王攘夷”的名义进行征战，争夺霸主的地位。战国时期，强大的地方诸侯国各自为政，扩充军队，力图拓展疆域。当时的战争规模很大，参战兵力多，交战区域广，持续时间长。

材料三：百家争鸣促进了思想和学术的繁荣，成为中国古代第一次思想文化发展的高峰，为中国古代文化的发展奠定了基础，对后世有十分重要而深远的影响。

——上述材料均摘自人教版七年级上册历史教科书

材料四：秦孝公用商君，坏井田，开阡陌，急耕战之赏……倾邻国而雄诸侯。……至于始皇，遂并天下。

——《汉书·食货志》

（1）材料一中铁制农具和牛耕的出现，对当时社会发展起了什么作用？

（2）根据材料二的描述，说明春秋战国时期的战争有何利弊。

（3）材料三中“百家争鸣促进了思想和学术的繁荣”的原因是什么？

（4）根据材料四，总结“商君”改革的措施，并分析改革是如何为“始皇”“并天下”奠定基础的。

（5）综合上述材料，概括春秋战国时期的阶段特征。

（三）秦汉时期：统一多民族国家的建立和巩固

【能力提升】

1. 2018年3月，全国人大表决通过，在“国家机构”中新增“监察委员会”，监察委员会依照法律规定独立行使监察权。两千多年前，秦朝负责监察百官的是（　　）

A. 丞相　　B. 御史大夫
C. 市舶司　　D. 军机处

2. （2019·湖北孝感）秦始皇统一全国后，先后设立了40多个郡，郡下设县，由中央直接进行管辖。该措施的主要作用是（　　）

A. 形成了森严的等级制度
B. 专制主义集权达到顶峰
C. 解除诸侯王国对中央的威胁
D. 直接有效地控制地方

3. 下面图示是某学习小组整理的汉朝初年的发展线索，你认为画线处应填写的是（　　）

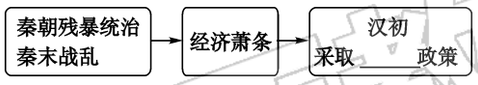

A. 文景之治　　B. 光武中兴
C. 独尊儒术　　D. 休养生息

4. （2019·江苏泰州）为汉代大一统国家的巩固和发展打下坚实基础，被称为中国古代第一个治世的是（　　）

A. 文景之治　　B. 光武中兴
C. 贞观之治　　D. 开元盛世

5. 西汉的律法规定贾人不得衣丝乘车；隋唐律法规定工商之子不当仕；明朝的律法规定普通百姓可以穿绸、纱、绢、布四种布料的衣服，而商贾只能穿绢和布两种布料的衣服。这说明古代社会（　　）

A. 提倡节俭
B. 服饰潮流演变
C. 重农抑商
D. 法律条文烦琐

6. （2019·山东济宁）下图漫画反映的加强中央集权的措施，与其实施者对应正确的是（　　）

A. “削藩”——汉景帝

山西教育出版社

B. “推恩令”——汉武帝

C. 休养生息——隋炀帝

D. “杯酒释兵权”——宋徽宗

7 “秦代和汉代对儒学采用的手段大相径庭，秦代重在‘禁’，汉代重在‘尊’，但两者反映的本质都是加强思想控制，巩固统治。”材料中对儒学的“禁”和“尊”的史实分别是（　　）

A. 焚书坑儒　“罢黜百家，独尊儒术”

B. 焚书坑儒　八股取士

C. 八股取士　“罢黜百家，独尊儒术”

D. 八股取士　百家争鸣

8 （2019·湖北襄阳）习近平总书记在纪念改革开放40周年的讲话中，称赞中国古代人民“谱写了万里驼铃万里波的浩浩丝路长歌”。习总书记称赞的历史事件是（　　）

A. 修建都江堰

B. 修筑长城

C. 开辟丝绸之路

D. 开通大运河

9 有人说：“东汉王朝就是在外戚与宦官的打来斗去，皇帝像走马灯似的换来换去的过程中走向灭亡的。”与这句话描述的历史现象无关的是（　　）

A. 东汉皇帝在位时间短

B. 东汉争夺帝位斗争激烈

C. 东汉外戚宦官交替专权

D. 东汉王朝存在时间短

10 自古以来，历届中央政府就重视加强对新疆的管辖。下列机构的设置，可以印证这一事实的是（　　）

①西域都护府　②宣政院　③伊犁将军　④驻藏大臣

A. ①②　　B. ②③

C. ①③　　D. ②④

【拓展延伸】

1 阅读材料，回答问题。

材料一：“秦王扫六合，虎视何雄哉！挥剑决浮云，诸侯尽西来。”

——李白

材料二：

材料三：“及至始皇……废先王之道，焚百家之言，以愚黔首。隳名城，杀豪杰，收天下之兵……以弱天下之民……然陈涉……斩木为兵，揭竿为旗，天下云集响应……山东豪俊遂并起而亡秦族矣。”

——贾谊《过秦论》

（1）材料一中李白所盛赞的“秦王”是谁？它反映了秦王的主要功绩是什么？

（2）据材料二两幅图片所示，秦朝为巩固统一采取的两项重要措施是什么？这两项措施起到什么作用？

（3）材料三中“斩木为兵，揭竿为旗”指的是什么？“亡秦”的根本原因是什么？秦亡的原因给后世带来了什么启示？

2 影响经济发展的因素多种多样，经济的发展推动社会的进步。下面两个板块分别呈现的是两汉和魏晋南北朝时期经济发展的相关问题，请你完成学习任务。

图一　耧车

图二　五铢钱

图三

板块一　【释读图片——再现两汉经济】

（1）图一耧车的用途是什么？

（2）图二五铢钱是哪位皇帝在位时期统一的货

币？除此之外，他在经济上还采取了哪些措施？

（3）图三是一块汉代反映集市贸易的画像砖：左上端一酒店内两个卖主正在打酒给买主；左下端两个卖肉摊贩与买主正作互言、互换或互答之状。右上端另一买主挑着酒担悠然离去；右下端一卖鱼摊贩正在与买主商谈。好一个热闹兴隆的集市！从对图的解读中可以得到怎样的信息？

（4）下表是丝绸之路开通后，在这条贸易路线上传播的物品和技术。据此说明当时贸易有何特点？丝绸之路的开通起了什么作用？

汉朝传到西域	丝绸、漆器等物品，开渠、凿井、铸铁等技术
西域传入中国	良种马、香料、玻璃、宝石；核桃、葡萄、石榴、苜蓿；乐器、歌舞

【能力提升】

1 《三国志》中说曹操“广纳贤士，擅用人才，施行仁政于民，超世之杰矣”。而《三国演义》中说曹操是“乱世之奸雄”。以下关于史书与历史小说的评论，正确的是（　　）

A. 史书通常以历史小说为依据
B. 历史小说与史书内容基本一样
C. 历史小说的人物经过了艺术加工
D. 史书带有强烈的个人感情色彩

2 我国古代不乏以少胜多的著名战役，其中为三国鼎立局面的形成奠定基础的是（　　）

A. 赤壁之战　　B. 巨鹿之战
C. 官渡之战　　D. 淝水之战

3 西晋结束了三国鼎立局面，完成全国统一，但它也是中国历史上二世而亡的短命王朝之一。下列对西晋短期而亡原因的叙述，不正确的是（　　）

A. 大贵族、大地主在治国方略上缺乏雄才大略
B. 晋惠帝昏庸无能，统治阶级生活极为腐化
C. 地方上的“八王之乱”推翻了西晋政权
D. 内迁各少数民族反抗西晋的民族压迫

板块二　【研读史料——认识魏晋南北朝经济】

（5）《晋书·食货志》记载东晋后期南方的情形：“天下无事，时和年丰，百姓乐业，谷帛殷阜，几乎家给人足矣。”材料中描述的南方社会经济发展的原因是什么？

（6）结合所学知识，从农业方面举出南方经济发展的至少两个事例。

（四）三国两晋南北朝时期：政权分立与民族交融

4 （2019·广东）公元3世纪，西域商人只有得到魏国敦煌太守仓慈发给的专门许可证，才可以去洛阳从事商业贸易。这种现象说明（　　）

A. 西北地区民族关系紧张
B. 丝绸之路仍在发挥作用
C. 中外文化交流基本中断
D. 政权分立影响经济发展

5 东晋在_____中战胜前秦，解除了来自北方的威胁。相对稳定的局势，使社会经济有所发展，江南出现了“荆扬晏安，户口殷实”的景象。这段话中的横线处应填（　　）

A. 昆阳之战　　B. 官渡之战
C. 赤壁之战　　D. 淝水之战

6 （2019·湖北孝感）“皇帝对胡汉联姻非常高

兴，在御座上指派各皇弟与汉族官僚的女儿联姻；他还把自己的鲜卑姓氏改为‘元宏’。”材料反映的历史史实是 （　　）

A. 商鞅变法

B. 孝文帝改革

C. 回族的形成

D. 唐蕃“和同为一家”

7. 5世纪末，北魏孝文帝迁都洛阳，采用汉族官制、律令。此举 （　　）

A. 促进了民族交融

B. 确立了三国鼎立局面

C. 加快了江南地区开发

D. 实现了南北方的统一

8. 图片是历史学习的重要资料。如果为下面这组图片拟定一个主题，最恰当的是 （　　）

西晋时汉人使用的方凳和胡床

穿汉族服装的少数民族贵族

汉族妇女在制作蒸馍与胡饼

穿裤褶服（胡服）的南朝乐队

A. 对外交往开放频繁

B. 民族交融蔚然成风

C. 多民族国家的巩固

D. 社会经济繁荣发展

9. 东汉末年书法逐渐成为一门艺术。下列推动书法艺术持久发展的原因有 （　　）

①造纸术的发明，使书写的载体变得快捷方便　②人们对书法美的不懈追求　③《兰亭集序》达到收放自如、浑然天成的境界　④书法艺术是中华民族的文化瑰宝

A. ①②　　B. ③④　　C. ①③　　D. ②④

【拓展延伸】

1 秦汉至三国两晋南北朝的几百年间，中华文化不断创新与发展，传承着中华文明。围绕这一时期的“科技成就”，回答下列问题。

秦汉时期

图一　蔡伦

图二　张仲景坐堂

（1）图一人物有何重大贡献？写出这一贡献对世界文明产生的影响。

（2）请为图二主人公写一段人物推介。（提示：从时代、身份、主要贡献、品行、后世评价等角度介绍）

魏晋南朝时期

织布　　农耕　　炼水银

图三

图四　祖冲之纪念币

（3）根据图三，判断这些插图出自魏晋时期的哪部科技著作，并简述其历史地位。

（4）图四是中国在1986年发行的祖冲之纪念币，请用史实说明纪念他的理由。（至少两点）

2 魏晋南北朝是我国境内各民族之间交往、交流与交融的重要时期。阅读下列材料，结合所学知识，回答问题。

材料一：西晋统治腐朽，向内迁的各族人民收取重税，征兵派役，甚至掠卖少数民族人民为奴婢。这些暴政激起了内迁各族人民的强烈反抗。一些少数民族首领乘机起兵反晋，316年，西晋被匈奴族刘渊部所灭。

材料二：拥有先进农业、手工业技术的汉族劳动人民和具有封建传统文化修养的汉族士人的流入，壮大了拓跋氏政权的实力。北魏孝文帝在位时期，提倡儒学治国，认为鲜卑族必须学习先进的汉文化才能巩固政权。他将都城从平城迁到洛阳，推行了一系列改革措施。

——材料一、二均摘自部编版七年级历史教材

（1）西晋时期内迁到今天山西境内的少数民族主要有哪些？

（2）根据材料一，简析西晋短期灭亡的原因。

山西教育出版社

（3）材料二中北魏孝文帝认为学习汉文化的目的是什么？列举其推行改革的汉化措施。

（4）综上所述，除民族交融外，请写出魏晋南北朝时期的另一个阶段特征。

（五）隋唐时期：繁荣与开放的时代

【能力提升】

1 在隋朝重大历史事件的时间轴上，与①②③处时间相对应的历史事件分别是（　　）

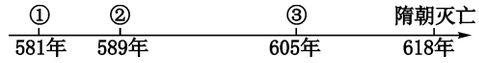

A. ①建立隋朝　②统一全国　③开通运河
B. ①灭亡陈朝　②建立隋朝　③开通运河
C. ①开通运河　②建立隋朝　③灭亡陈朝
D. ①建立隋朝　②开通运河　③统一全国

2 “穿越剧”“伪历史剧”的流行，引起了历史学者的担忧和批判。下列情节均选自当下热门的电视剧，其中情节明显与历史史实不符的是（　　）

A. 秦将白起在长平之战后坑杀赵国军队40多万人
B. 西汉时期，司马迁因仗义执言被关入狱中
C. 唐玄宗将哥窑冰裂纹瓷器赏赐给日本遣唐使
D. 清朝晋商乔致庸设立“票号”经营汇兑业务

3 唐太宗时制定的《贞观律》规定：对官员、地主“占田过限”“在官侵夺私田”等不法行为，予以惩治；擅自加重赋敛的要坐以赃罪或枉法罪。这反映了（　　）

A. 唐太宗时社会出现了治世局面
B. 唐朝初年政府征收苛捐杂税
C. 唐朝官员贪赃枉法的严重后果
D. 唐朝对官员的刑罚过于严苛

4 唐朝是我国诗歌创作的黄金时代。唐诗内容丰富，风格多样，才华横溢的诗人层出不穷。祖籍山西太原的白居易是其中成就最高的诗人之一。“慈恩塔下题名处，十七人中最少年”是他29岁及第时写下的诗句。上述情景的出现主要得益于（　　）

A. 八股取士制度
B. 九品中正制
C. 科举考试制度
D. 三省六部制

5 “川中水车如纺车，以细竹为之，车骨之末，缚以竹筒，旋转时低则舀水，高则泻水。”这是对下图所示古代生产工具的描述，可见其主要作用是（　　）



A. 纺织　　B. 排洪
C. 耕作　　D. 灌溉

6 1999年，在印度尼西亚海域“黑石号”唐代沉船上打捞到近7万件中国瓷器，包括数量不等的越窑青瓷、北方白瓷等。瓷器种类多样，部分瓷器的形制、图案、色彩有明显的西亚、波斯艺术风格。这一考古发现可以说明（　　）

①唐代制瓷业规模大，行销范围广　②景德镇已成为唐代制瓷业中心　③青瓷、白瓷是唐朝瓷器的代表　④唐代瓷器风格受到外部的影响

A. ①②③　　B. ①③④
C. ①②④　　D. ②③④

山西教育出版社

7 唐朝时期的社会风气比较开放，社会充满活力，人们多显示出一种昂扬进取、积极向上的精神风貌。当时的一些妇女受过诗书、音乐等方面的教育，喜好骑马、打球、拔河、射箭、弈棋等活动。下列对唐朝出现这种现象原因的表述，不正确的是（　　）

A. 强盛的国力
B. 开明宽容的民族政策
C. 广泛的对外交流
D. 男女平等的思想理念

8 张敏同学学习了唐朝对外交往的史实后，对鉴真和玄奘的事迹进行了对比。下面是她归纳出的两人的共同之处，其中正确的是（　　）

①都是唐朝的高僧　②都是中外友好交流的使者　③都为完成使命历尽艰辛　④都应日本政府之邀前往传播佛法

A. ①②④　　B. ②③④
C. ①③④　　D. ①②③

9 唐诗宋词是中华民族的文化基因，为了弘扬民族文化，中央电视台推出了《中国诗词大会》节目，引起了全国收视热潮。张亮同学从内容题材丰富、数量众多、作者广泛的唐诗作品中，归纳出如下唐朝的精神风貌。结合所学，你认为正确的有（　　）

①昂扬进取，积极向上　②风花雪月，沉迷山水　③开放包容，兼容并蓄　④思想保守，谨慎对外

A. ①②　　B. ①③
C. ②③　　D. ②④

【拓展延伸】

1 诗词在唐宋时期发展到顶峰，是中国文学的璀璨明珠；诗词也从侧面反映了当时的社会发展状况。阅读和欣赏下列诗词，结合所学知识，回答问题。

材料一：忆昔开元全盛日，小邑犹藏万家室。稻米流脂粟米白，公私仓廪俱丰实。

——唐·杜甫《忆昔》

材料二：待到秋来九月八，我花开后百花杀。冲天香阵透长安，满城尽带黄金甲。

——唐·黄巢《不第后赋菊》

材料三：山外青山楼外楼，西湖歌舞几时休？暖风熏得游人醉，直把杭州作汴州。

——宋·林升《题临安邸》

材料四：怒发冲冠，凭栏处、潇潇雨歇。抬望眼，仰天长啸，壮怀激烈。三十功名尘与土，八千里路云和月。莫等闲、白了少年头，空悲切。

靖康耻，犹未雪。臣子恨，何时灭！驾长车，踏破贺兰山缺。壮志饥餐胡虏肉，笑谈渴饮匈奴血。待从头、收拾旧山河，朝天阙。

——宋·岳飞《满江红》

（1）材料一描绘了开元时期什么样的情景？

（2）材料二抒发了作者等待时机，改天换地的愿望。为了实现这一愿望，他做了什么事？

（3）从唐朝“开元全盛”到唐末“冲天香阵透长安”，导致唐朝国势由盛转衰的标志性事件是什么？

（4）材料三、材料四的诗词分别反映出南宋怎样的社会状况？并简述岳飞“收拾旧山河”的事迹。

（5）赏析以上诗词后，你认为诗词在社会发展中起了什么作用？

2 七年级某班研究性学习小组的同学，在复习唐宋时期的经济发展时，设计了如下的学案，请你一起完成学习任务。

任务一　【读文释史】

（1）根据下面描述，在括号中分别写出对应的工具名称。

描述一：设计精妙，轻便灵巧，操作时可自如

地控制入土深浅，回转省力，适于精耕细作。

（　　）

描述二：如纺车，以细竹为之，车骨之末，缚以竹筒，旋转时低则舀水，高则泻水。（　　）

（2）“苏湖熟，天下足”是宋代流行的谚语，说的是当时长江下游和太湖流域成为富饶的粮仓。据此简析宋朝农业发展的原因。

任务二　【对比学史】

（3）我国是世界上最早发明瓷器的国家。分别列举唐、宋两朝在陶瓷业方面的典型成就各一例。

（4）观察图一、图二，结合所学知识，分别指出唐、宋在城市规划或市场分布上的不同特点。

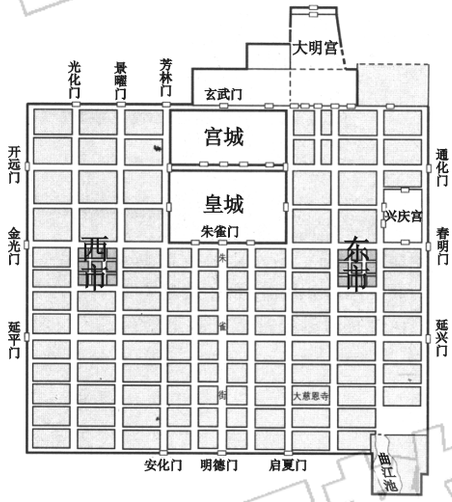

图一　唐朝长安城平面图

任务三　【文物辨史】

（5）下列两组文物或实物的存在，分别说明了什么？

一组：唐朝墓葬出土的文物



北宋纸币铜板拓片　“济南刘家功夫针铺”商标广告

二组：宋代留存实物

（六）辽宋夏金元时期：民族关系发展和社会变化

【能力提升】

1. 山西民间有“六郎站在雁门关，一箭射到大青山（位于内蒙古）”的传说。下列对这一传说的理解，说法最合理的是（　　）

A. 杨六郎勇武过人，这种传说完全可能发生
B. 当时与杨六郎发生冲突的是成吉思汗率领的蒙古军
C. 历史传说多虚拟夸张，不可作为历史研究资料
D. 传说虽有夸张，但可以推测出北宋与北方民族处于战争状态

2. 下图为中国历史某一时段纪年表，图中①②所指的朝代分别是（　　）

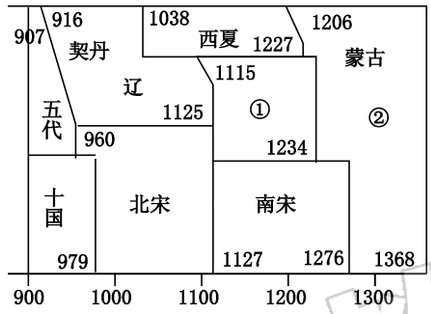

A. ①北魏　②南宋
B. ①北周　②陈
C. ①金　②元
D. ①东晋　②唐

3. 市舶收入在宋朝政府财政收入中占有重要的地位，在宋高宗南渡初年表现得尤为突出。那时，南宋政府的年收入不满1000万缗（缗：古代铜钱计量单位），而市舶收入已达150多万缗，竟占南宋政府财政收入的15%。材料主要说明（　　）

A. 人口南迁带来大量劳动力和先进生产技术
B. 海外贸易是宋朝政府财政收入的重要来源
C. 南宋时期，我国的经济重心南移正式完成
D. 造船和航海技术的进步是宋代海外贸易兴盛的重要原因

4. “国家根本，仰给东南”“丝织业、棉纺织业、造纸业中心及对外贸易港口多集中在南方”“苏湖熟，天下足”。这些现象说明了（　　）

A. 魏晋时期江南地区得到开发
B. 安史之乱以后北方人口南迁
C. 两宋时期经济重心南移完成
D. 明清时期城市商品经济活跃

5. 下列有关山西古代的史实中，表述不正确的是（　　）

A. 长平之战加速了秦国统一中国的进程
B. 北朝时期开凿的云冈石窟堪称宏伟精巧的雕刻艺术品
C. 李渊在太原起兵反隋，敲响了隋朝灭亡的丧钟
D. 元朝时，在山西设行中书省加以管辖

6. 分封制、郡县制、行省制是我国古代史上重要的地方管理制度。下列对其相同点的表述，正确的是（　　）

①都是为了加强对地方的控制，巩固统治　②都有效加强了中央集权，维护了国家统一　③官员都由君主直接任免，不得世袭　④都在一定时期内产生过积极作用

A. ①②　　B. ③④
C. ①④　　D. ②③

7. 为了对辽阔的疆域进行有效的治理，元朝的统治者根据各地区的情况，采取因地制宜的方式，在东北、西北、东南、西南等地区设置相应的管理机构加强中央对这些地区的统治。下列相关史实与元朝的管辖无关的是（　　）

A. 在东南地区设澎湖巡检司，管辖澎湖和琉球（今台湾）

B. 对西藏地区行使行政管理权，由宣政院直接统辖

C. 在西藏设置地方机构，征收赋税，屯驻军队

D. 在北部蒙古边境开设贸易场所“榷场”，进行互市

8. 在北宋的开封城内有许多娱乐兼营商业的场所，叫作“瓦子”。大的瓦子，可容几千人。瓦子中圈出许多专供演出的圈子，称为“勾栏”。勾栏内商业广告琳琅满目，有各种艺人在这里卖艺谋生，如说书的、唱曲的、演杂剧的、耍杂技的、表演蹴鞠的，令人眼花缭乱。这一现象说明了开封城（　　）

A. 城市规模大　　B. 市民生活丰富

C. 贸易往来频繁　D. 文学艺术繁荣

9. 某文学兴趣小组对宋词繁荣的原因进行了探究，形成以下四种看法，其中不正确的是（　　）

A. 吟唱宋词日益成为宋代节日庆典的主要形式之一

B. 宋代实行重文轻武政策，文人地位提高，创作热情高涨

C. 印刷业和教育事业发展，推动文化领域的空前繁荣

D. 城市经济的繁荣，为词的兴盛提供雄厚的物质基础

10. 2005 年香港邮政发行一套 4 枚“中国古代四大发明”特别邮票，展示中国的四大划时代发明——指南针、造纸术、火药和印刷术。下列关于四大发明的解读，不正确的是（　　）

A. 指南针推动了航海事业的发展

B. 活字印刷术是唐朝毕昇发明的

C. 火药在宋元时期广泛用于军事

D. 造纸术促进了世界文化的传播

11.《元史·地理志》记载：“元有天下，薄海内外，人迹所及，皆置驿传，使驿往来，如行国中。”对这种现象的理解，不正确的是（　　）

A. 元朝建立了遍布全国的驿站

B. 中外交通发达

C. 造船技术和航海技术有了较大发展

D. 元朝统治严厉

【拓展延伸】

1. 从古代丝绸之路到现今的“一带一路”，中国对外交流日益深入和扩大。阅读下列材料，结合所学知识，回答问题。

材料一：宋元时期，在工商业发达的基础上，海外贸易有所发展。由于当时西夏、辽、金、蒙古与宋对峙，宋军费支出浩大，不能不谋求广开财源，注重发展海外贸易。南宋偏安江南之后，中西陆路交通几乎断绝，海外交通空前发达。

——摘编自《中外文化交流史》

材料二：明朝前期，社会安定，国力雄厚。从 1405 年到 1433 年，郑和率船队 7 次下西洋，先后到过亚洲、非洲的 30 多个国家和地区，最远到达红海沿岸和非洲东海岸。

材料三：清朝……开放四个港口，作为对外通商口岸，并对出口的商品种类和出海船只的载重量做出严格的限制。（后）下令只开广州一处作为对外通商口岸，关闭了其他港口。

——材料二、三摘编自部编版历史教材七年级下册

材料四：古丝绸之路绵亘万里，延续千年，积淀了以和平合作、开放包容、互学互鉴、互利共赢为核心的丝路精神。这是人类文明的宝贵遗产。

——习近平在“一带一路”国际合作高峰论坛开幕式上的演讲

（1）根据材料一，指出宋元时期海外贸易和海外交通发展的原因。

（2）根据材料二概括郑和能够实现远航的条件有哪些，并简述郑和下西洋的积极意义。

（3）材料三中清朝的对外政策给中国社会带来了哪些影响？

（4）材料四中“丝路精神”的核心是什么？请你概括影响国家对外交往的因素。

2. 某校七年级（1）班的历史学习兴趣小组，编制了下面有关元朝的学案，请你参与完成。

活动一　【史实再现——探寻蒙古崛起】

（1）依据下面的年代尺，简述成吉思汗和忽必烈的主要活动。

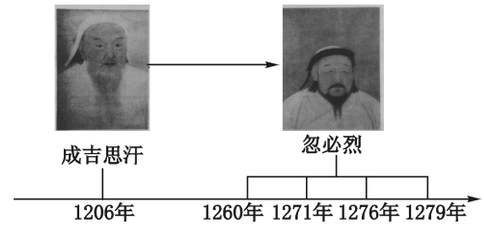

活动二　【提取信息——概括交融途径】

（2）从下面的材料中，可以概括出元朝民族交融的哪些方式？

元朝时候，边疆各族包括蒙古族，大量迁入中原和江南，同汉族等杂居相处。原先进入黄河流域的契丹、女真等族，经过长期共同生活，已同汉族没有什么区别。唐朝以来，不少来自波斯、阿拉伯的人，同汉、蒙、畏兀儿等族，长期杂居相处，互通婚姻，逐渐交融，开始形成一个新的民族——回族。元朝境内大规模的人口流动，促进了各族经济、文化的发展与交融。

活动三【列举成就——树立时空观念】

（3）分别写出元朝的都城与元朝管理西藏的机构。

活动四【总结提升——归纳元朝贡献】

（4）根据以上内容，概述元朝在我国历史上的重要贡献。

山西教育出版社

（七）明清时期：统一多民族国家的巩固与发展

【能力提升】

1 君主专制中央集权是中国古代政治制度的一个重要特征。下列措施中，有利于加强君主专制中央集权的是（　　）

①汉初分封同姓王　②元朝设立行省制度　③明朝罢丞相，权分六部　④清朝雍正设立军机处

A. ①②③　　B. ①②④

C. ②③④　　D. ①③④

2 据史料记载，凡有紧急事务，雍正则命（张）廷玉立刻入宫，自己口授大意，张廷玉则于御前伏地书写，或是隔着门帘在案几书写，文稿书写完毕即呈雍正预览，随即颁行。……军机大臣“只供传述缮撰，而不能稍有赞画于其间也”。上述材料反映出军机处实质上（　　）

A. 是处理政务最重要的中枢机构

B. 军机大臣的主要工作是撰写文稿

C. 军机大臣与皇帝关系十分密切

D. 标志着我国君主专制进一步强化

3 康熙时有人修《明史》，对南明的史事使用了明朝纪年，结果朝廷下令把参与编写、印刷、销售的70多人全部处死，总共处罚了200多人。清朝统治者这样做的根本目的是（　　）

A. 打击知识分子

B. 维护集权统治

C. 提倡尊孔读经

D. 严禁文化交流

4 史料一般包括文献史料、实物史料、口述史料三大类，它是我们发现历史、解释历史的依据。下列史料所属的类别不正确的是（　　）

A. 司母戊鼎和唐三彩骑驼乐舞俑是实物史料

B.《三国演义》和《西游记》是文献史料

C. 抗战老兵的回忆录音是口述史料

D.《本草纲目》和《天工开物》是文献史料

5 下列对明朝北京城的描述，不正确的是（　　）

A. 以木结构为主呈现出中轴对称的建筑特点

B. 明太祖朱元璋建都于此

C. 紫禁城是北京城的核心

D. 紫禁城是当时世界上最辉煌的皇家建筑群

6 李自成领导的农民起义军所到之处，得到广大人民的热烈欢迎和拥护。其根本原因是（　　）

A. 明末土地兼并严重，赋税沉重

B. 农民觉悟高，拥护起义军

C. 陕西北部一带连年自然灾害

D. “均田免赋”口号的提出

7 明朝鼎盛时期，全国人口达到1亿多。到康熙时，全国人口总数已达到1.5亿。乾隆末年，全国人口发展到3亿，占当时世界总人口的1/3。清前期人口增加的原因是（　　）

①耕地面积不断扩大　②粮食产量大幅提高　③社会秩序安定　④城镇商品经济发展

A. ①②③④　　B. ①②③

C. ②③④　　D. ①②④

8 晋商以雄厚的资金实力、先进的经营管理模式、诚信为本的商业文化，广拓经营领域和活动范围。他们经营的盐、铁、棉、布、皮毛、丝绸、茶叶、金融等商号，遍及全国各地并远涉欧洲、日本、东南亚和阿拉伯国家，称雄国内商界长达500年之久。从上述材料中可以得到的信息有（　　）

①先进的经营理念是晋商成功的重要秘诀　②第一次世界大战期间，晋商达到鼎盛时期　③晋商一度是世界上实力最雄厚的商帮　④晋商经营领域广泛，销售市场广阔

A. ①②　　B. ②③

C. ①④　　D. ③④

9 下列作者与作品的对应关系，正确的是（　　）

①李时珍——《本草纲目》　②徐光启——《农政全书》　③施耐庵——《西游记》　④吴承恩——《水浒传》

A. ①③　　B. ③④

C. ①②　　D. ②③④

10（2019·四川宜宾）明清时期，小说和戏剧深受人民喜爱，主要是因为（　　）

A. 人民文化素质很高

B. 封建社会走向衰落

C. 内容反映现实生活

D. 题材高雅不落俗套

【拓展延伸】

1 我国历代政府都非常重视民族团结和注重对边疆地区的有效管辖。结合所学，回答下面问题。

（1）元朝和清朝政府为了加强对西藏地区的管

辖，分别采取了什么措施？

（2）台湾在明朝后期被哪国侵占？到了清朝统治期间，台湾的回归经历了怎样的过程？

（3）分别列举清朝为了巩固西北和东北这两个边疆地区的安全所做出的重大斗争。

明清时期是我国古代君主专制中央集权不断强化的时期。阅读下列材料，结合所学知识，回答问题。

材料一：经过春秋战国时期的诸侯争霸，到秦朝统一多民族国家的形成，以皇权为中心的中央集权制度建立起来。历经汉魏至明清，皇帝与宰相之间的权势此消彼长，中央与地方争权斗争接连不断，最终皇权不断强化，中央集权逐渐得到巩固。中央集权制度作为古代中国政治制度的突出特色，对中国历史产生了深远影响。中国统一多民族国家的形成与发展，官僚政治与行政管理以至文化教育传统，无不与此有着密切的关系。

——摘编自人教版高中历史教材必修1

材料二：（军机大臣）只供传述缮撰，而不能稍有赞画于其间也。

——赵翼《檐曝杂记》卷一

材料三：“明月有情还顾我，清风无意不留人。”雍正皇帝时的一位进士因写了这两句诗而被斩首。大臣胡中藻写的诗中有“一把心肠论浊清”之句，乾隆帝看了竟说“加‘浊’字于国号‘清’之上，是何居心？”胡中藻被杀，友人也受到牵连。

——摘编自部编版历史教材七年级下册

（1）材料一中皇权与相权之争结束于何时？列举这一时期为强化皇权采取的措施。

（2）根据材料二，简述军机处的职能及其作用。

（3）材料三反映了清朝统治者在思想上实行了怎样的举措？这一举措对思想和文化造成什么样的后果？

（4）综上所述，概括明清时期加强君主专制中央集权表现出的特点。

山西教育出版社