第七章　省级行政区域

单元导航

本章概要

在学习中国自然地理和人文地理总论的基础上，从全国范围内选学部分不同尺度的区域，进一步认识所学区域的自然地理和人文地理的主要特征，其目的是让学生掌握学习区域地理的一般方法。中国区域地理选取了3种不同尺度的区域，从大到小依次是省际区域、省级行政区域和省内区域，本章内容是认识省级行政区域。我国共有34个省级行政区域，分为省、自治区、直辖市和特别行政区4种类型。本章就按这4种行政区域类型各选取1～2个区域讲述，所选的5个省级行政区域都非常有代表性。4个直辖市中选取了首都所在的北京市，5个自治区中选取了面积最大的新疆维吾尔自治区，23个省中选取了祖国宝岛台湾省，还选取了两个特别行政区香港和澳门。所选的省级行政区域都从自然地理和人文地理两个方面进行了讲述，体现了二者的有机结合，体现了人与自然环境的紧密联系，体现了区域地理的地域性、综合性特点。在认识区域差异的同时，以发展的眼光介绍了区域内改革开放以来社会经济发展的巨大成就。

知识总览

<table>
<tr><th>节</th><th>目标要求</th><th>活动建议</th></tr>
<tr><td>北京——祖国的心脏</td><td rowspan="4">运用地图说出区域的位置与范围，并对区域的地理位置作出简要评价。
在地形图上识别区域主要的地形类型，并用自己的语言描述区域的地形特点。
阅读地图与气候统计图表，说出区域的气温、降水的分布概况，并归纳其气候特征。
运用地图和资料，说出区域产业的结构与空间分布特点。
运用地图和资料，描述区域人口、城市的分布特点。
以区域某一地理事物的分布为例，绘制略图，描述该地理事物的分布特点。
举例说明区域自然地理要素的相互作用和相互影响。
举例说出影响区域农业或工业发展的地理因素。
根据有关资料，说出支柱产业对区域经济发展的带动作用。
举例说出区际联系对区域经济发展的意义。
举例说明祖国内地对香港、澳门经济繁荣的促进作用。
运用有关资料，分析说明外向型经济对区域发展的促进作用。
利用资料说出首都北京的自然条件、历史文化传统和城市职能，并举例说明其城市建设成就。
在地图上指出台湾省的位置和范围，分析其自然地理环境和经济发展特色，说明台湾省自古以来一直是中国不可分割的神圣领土。</td><td rowspan="4">收集一个地区的专题地图，例如地形图、政区图、水系图、矿产图、交通图、旅游图等，讨论这个地区的区域地理特征。
观看有关我国区域地理景观特色的影像资料。
收集有关北京的图片资料，编辑以北京概况为主题的地理小报。
绘制台湾岛简图，在其上标明主要地理事物的名称。
组织“宝岛——台湾在我心中”的专题演讲会。
召开地理专题讨论会，对某一专题进行探讨。
收集有关资料，讨论我国某一地区改革开放以来的发展成就。</td></tr>
<tr><td>新疆——祖国面积最大的省级行政区域</td></tr>
<tr><td>台湾——祖国的宝岛</td></tr>
<tr><td>香港和澳门——祖国的特别行政区</td></tr>
</table>

7.1 北京——祖国的心脏

板块一 创设问题，引领目标

问题导学，明确目标

同学们，图片中的建筑物巧夺天工，造型新颖大方。你知道该建筑物的名称吗？该建筑物位于我国的哪个城市？

板块二 自学思疑，初探问题

自主学习，亲身感悟

自学提示

阅读教材，关注下列核心词语。

政治文化中心　著名古都　国际城市　名胜古迹　水资源

问题呈现

阅读教材，思考下列问题。

1. 为什么把北京称为祖国的心脏？

2. 北京市的主要职能是什么？

3. 为什么说北京是一座世界著名的古都？

4. 为把北京建设成国际大都市，北京市在产业结构和布局上做了哪些调整？

5. 制约北京城市发展的主要自然因素是什么？

基础自测

1. 北京是全国的 （　　）
   A. 工业和交通中心　　B. 政治和文化中心
   C. 金融和文化中心　　D. 工业和金融中心
2. 北京的气候类型是 （　　）
   A. 热带季风气候　　B. 温带季风气候
   C. 亚热带季风气候　　D. 温带大陆性气候
3. 北京中关村科技园区的特色产业是 （　　）
   A. 旅游业、金融贸易　　B. 钢铁、汽车工业
   C. 食品、服装等加工工业　　D. 软件、信息等高新技术产业
4. 北京是拥有世界文化遗产最多的城市。下列文化遗产位于北京的是 （　　）
   A. 明十三陵　　B. 丽江古城
   C. 龙门石窟　　D. 承德避暑山庄

板块三　合作探究，共析问题

主动合作，协同探究

与图对话

1. 阅读教材图 7.1、图 7.2，认识北京的位置和范围。
（1）读出北京市的经纬度位置和相邻的省市。

（2）找出北京市主要的河流与水库。

（3）分析北京市铁路、公路的分布特点。

2. 阅读教材图 7.3～图 7.7，认识北京的城市职能。
（1）说出各图片展示的景观名称。

（2）总结北京的城市职能。

（3）分析北京城区道路的分布特点。

（4）说出北京城市的特点。

3. 阅读教材第 58 页“北京市的地形和河流”图，认识北京的自然地理特征。

（1）找出北京市主要的山地、平原、河流。

（2）分析北京市的地势特点和河流流向。

活动探究

北京是我国最大的铁路枢纽，有京沪、京九、京哈、京广、京包—包兰等铁路干线连接北京。读图，请把下面四条铁路线的名称在图中标注出来。

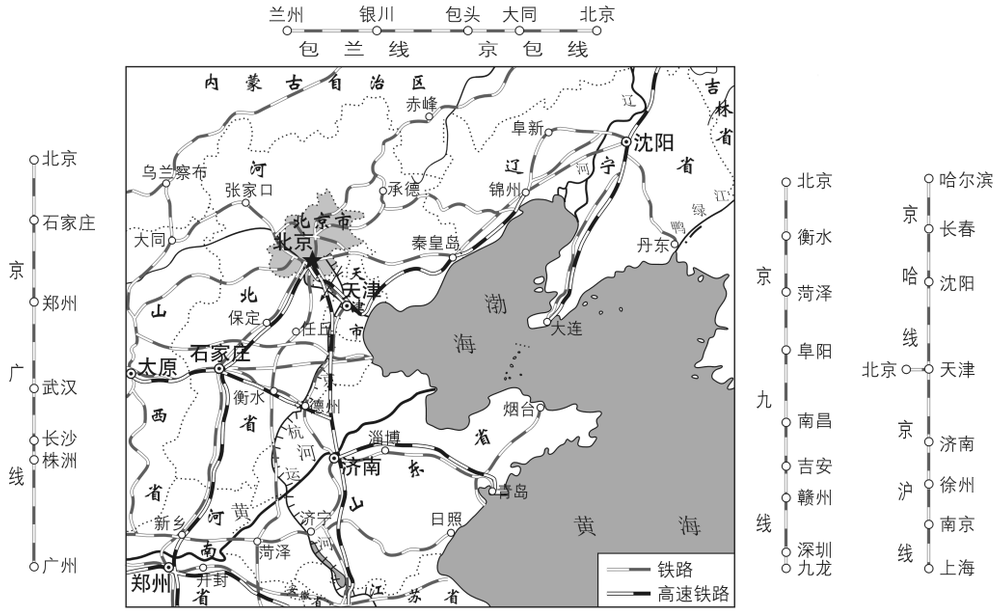

板块四　展示交流，巩固训练

精选精展，精选精练

精题展示

【精题一】 2017年雄安新区正式成立，新区定位是疏解北京非首都功能的集中承载地，通过聚集科研院所和发展高新产业，建成中国的“硅谷”。2019年4月26日，第二届“一带一路”国际合作高峰论坛在北京盛大开幕。下图示意雄安新区位置，完成1、2题。

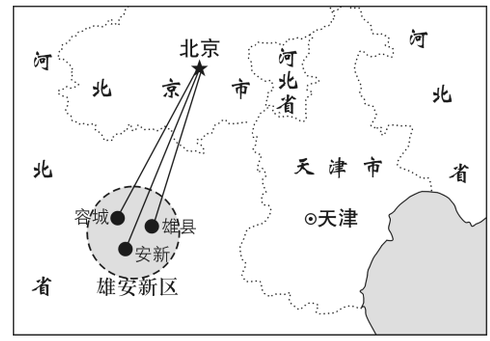

1. 由北京迁往雄安新区的单位或机构，可能是（　　）

A. 中央电视台　　B. 人工智能研发公司

C. 某国大使馆　　D. 中国铁路总公司

2. “一带一路”国际合作高峰论坛在北京盛大开幕，体现了北京是我国的（　　）

A. 政治中心　　B. 经济中心

C. 文化中心　　D. 对外交流中心

思路点拨： 1. 雄安新区是建成高新技术产业的“硅谷”，所以由北京迁往雄安新区的单位或机构最可能的是电子信息产业。

2. “一带一路”国际合作高峰论坛是国际经济会议，此会在北京召开体现了北京是我国的对外交流中心。

答案提示： 1. B　　2. D

【精题二】 “睡城”也称“卧城”，主要指大城市周边人口相对集中的大型社区居民点，人口虽然大量入住，但是仅局限于晚上回家睡觉，白天照样开车或乘车赶往市中心上班。燕郊镇隶属于河北省三河市，是我国众多“睡城”中的典型代表。每日跨省上班的京漂族，在燕郊和北京之间的道路上，呈现出明显的“潮汐式”流动。下图为燕郊相对位置示意图，图中箭头及数字表示京漂族每天上班的方向及平均距离。读图，完成1、2题。

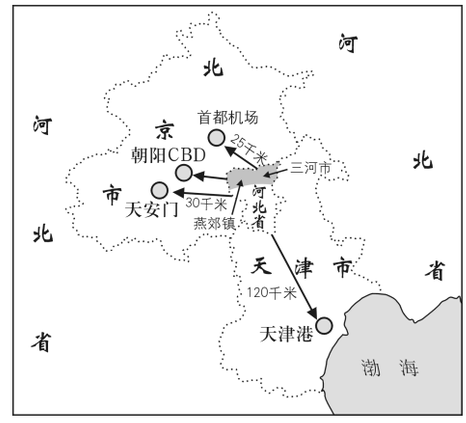

1. 燕郊成为“睡城”，其原因有 （　　）

①交通便利　②工资水平高　③房价相对较低　④与北京、天津的距离较近

A. ①②③　　B. ①②④　　C. ①③④　　D. ②③④

2. 人口“潮汐式”流动会给北京带来一系列问题。下列有利于缓解这些问题的措施是 （　　）

A. 在燕郊及附近地区大量建住宅区　　B. 在北京与燕郊之间增建高速公路

C. 北京调整产业结构，大力发展高新技术产业　　D. 燕郊及附近地区承接北京转移的部分产业

答案提示：1. 燕郊被称为“睡城”，是因为这里是京漂族睡觉的地方。这里的经济水平较低，房价较低，与北京、天津的距离较近。京漂族在北京购不起房，在这里购房或租房居住。除房地产外，该地交通便利，工资水平较北京低，消费水平低。燕郊是京漂族睡觉、休息的地方，所以称“睡城”。

2. 流动的主要原因是北京、天津企业多，就业机会多，工资水平高，福利待遇高；燕郊房价低，生活成本低，两者之间交通便利。燕郊及附近地区承接北京转移的部分产业，可以增加燕郊及其附近的就业岗位和就业机会。

答案提示：1. C　　2. D

巩固训练

下图是被称为“北京之魂”的老北京胡同，完成 1、2 题。

1. 作为古都之一的北京，保留着众多的胡同。在城市建设和发展中，对这些胡同我们应该 （　　）

A. 建成商业楼　　B. 想拆就拆

C. 建成住宅小区　　D. 有选择地保护和改造

2. 如今，许多外国游客喜欢乘坐三轮车，或骑车，或步行游览北京的胡同。这主要是因为 （　　）

A. 游览北京的胡同费用很低，可节省开支　　B. 游览北京的胡同可以听到纯正的北京话

C. 北京的胡同具有独特的历史文化价值　　D. 北京的胡同具有便捷的交通条件

读 2018 年春节十大“空城”示意图，完成 3、4 题。



3. 十大“空城”主要分布在我国的 （　　）

A. 东部地区　　B. 西部地区　　C. 西北地区　　D. 中部地区

4. 北京市流动人口多，成为十大“空城”之首的主要原因是 （　　）

①是全国政治中心　②是全国文化中心　③是全国金融中心　④是全国经济中心

A. ①②　　B. ③④　　C. ①③　　D. ②④

5. 读北京市示意图，回答问题。

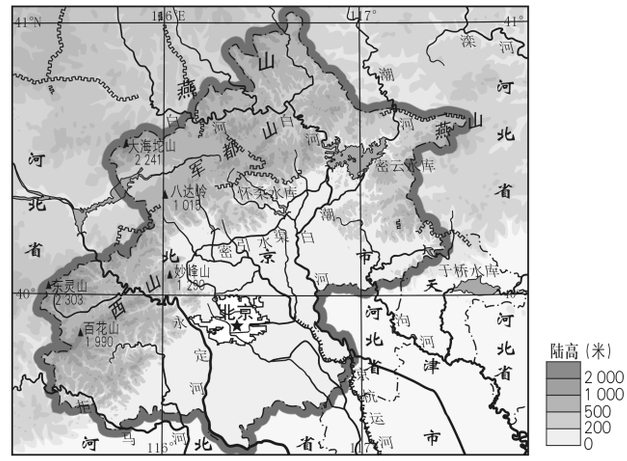

（1）归纳北京的地形特征。

（2）北京境内有多条河流，但仍然水资源非常紧张。试分析其原因。

板块五　知识构建，核心问题

归纳总结，关键问题

1. 基本概况

（1）地理位置：位于华北平原的西北角，西面和北面背靠群山。

（2）地势：由西北向东南倾斜。

（3）城市职能：北京是全国的政治中心、文化中心、国际交往中心。

2. 世界著名古都

（1）北京旧城：格局形成于元、明两代，方方正正，布局均衡对称，堪称我国历代都城规划和建设的代表作。

（2）旅游名胜：长城、故宫、北京人遗址、颐和园、天坛等被列入世界遗产名录，另外还有四合院、胡同、牌楼等。

3. 现代国际城市

（1）重点功能区：中央商务区、中关村科技园区、金融街、王府井商业街。

（2）现代化交通网：北京已经形成了航空、公路、铁路四通八达的现代化立体交通网络；市区形成了环形加放射状的快速道路网，是全国最大的铁路交通枢纽和国际航空港。

（3）建设目标：“国家首都、世界城市、文化名城、宜居城市”。

7.2　新疆——祖国面积最大的省级行政区域

第 1 学时　“三山夹两盆”的地形　大陆性气候

板块一　创设问题，引领目标

问题导学，明确目标



同学们，展现在我们面前的这幅图片是我国著名的“火焰山”，你知道它位于我国的哪个省区吗？你知道这个省区的自然环境特征吗？

板块二　自学思疑，初探问题

自主学习，亲身感悟

自学提示

阅读教材，关注下列核心词语。

交通枢纽　战略位置　“三山夹两盆”　大陆性气候　干旱

问题呈现

阅读教材，思考下列问题。

1. 新疆的地理位置有什么特点？

2. 新疆主要的地形类型有哪些？其分布上有什么特点？

3. 新疆气候的突出特点是什么？其形成原因是什么？

基础自测

读西部地区略图，完成 1～4 题。

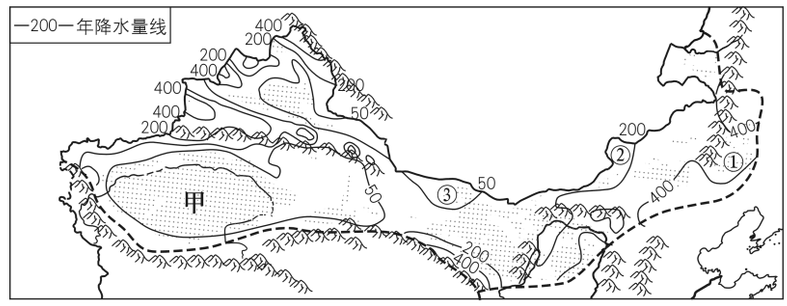

1. 图中甲所在的地形区是 （　　）

A. 塔里木盆地　　B. 四川盆地　　C. 华北平原　　D. 云贵高原

2. 图中①→②→③降水量逐渐减少，造成这种差异的主要因素是 （　　）

A. 地形因素　　B. 纬度位置　　C. 海陆位置　　D. 人类活动

3. 新疆地形的特点是 （　　）

A. 平原、丘陵相间分布　　B. 高山、高原相间分布

C. 高原、盆地相间分布　　D. 高山、盆地相间分布

4. 新疆降水稀少，气候干旱，其气候类型为 （　　）

A. 高原山地气候　　B. 温带季风气候

C. 亚热带季风气候　　D. 温带大陆性气候

板块三　合作探究，共析问题

主动合作，协同探究

与图对话

1. 阅读教材图 7.12、图 7.13，认识新疆的地理位置和地形特点。

（1）读出新疆在全国的位置，分析其海陆位置的特点。

（2）读出新疆大致的经纬度位置。

（3）读出与新疆相邻的国家、省区。

（4）找出新疆主要的山地、盆地、河流，概括其地形分布特点和河流特点。

2. 阅读教材图 7.14，认识大陆性气候的特征。

（1）看清图名，看懂图中横坐标和纵坐标的含义、单位、数值。

（2）读出三幅图中各月气温和降水量的数值。

（3）分析各图气温和降水量的年变化规律和特点。

（4）分析喀什、乌鲁木齐和大连三地气温与降水量年变化的共同点和不同点及其形成差异的原因。

活动探究

1. 阅读材料，回答问题。

在新疆吐鲁番盆地的中部，有一座色若鸡血、东西延绵百余千米的山岭——火焰山，当地人称为“克孜勒塔克”（意为红色的山）。维吾尔族民间相传，火焰山是被龙血染成红色的。其实火焰山山体主要是第三纪红色砂岩组成，所以呈暗红色。火焰山所在的吐鲁番盆地深居亚洲内陆，四面环山，低凹闭塞，位于盆地的艾丁湖还低于海平面 154 米，整个盆地所承受的巨大光热很难散发出去。盛夏，在烈日的照射下红光灼灼，热浪滚滚，宛若熊熊的烈火在燃烧。地表沙子温度常达 70℃，最高温度曾达 80℃，故有“沙窝里煮鸡蛋，石板上烙面饼”之说。

（1）火焰山位于新疆的哪个盆地？

（2）简述火焰山的形成原因。

2. 人们常用“早穿皮袄午穿纱，围着火炉吃西瓜”来形容新疆的气候特点。同学们，你能探究出其中的地理原因吗？

板块四　展示交流，巩固训练

精选精展，精选精练

精题展示

【精题一】　新疆塔里木盆地是我国极富特色的地区之一。读图，完成1、2题。

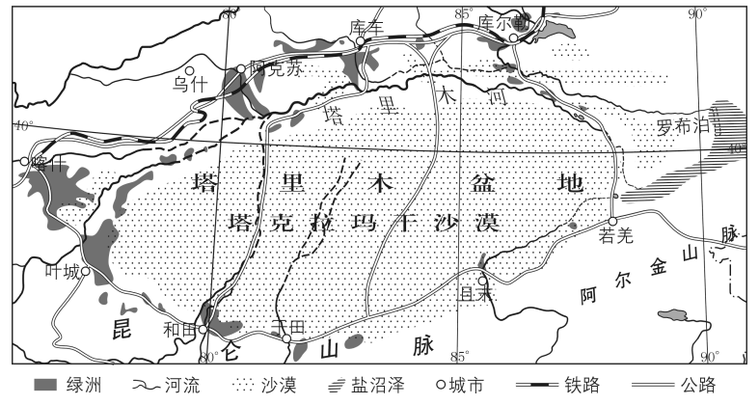

1. 绿洲主要分布在盆地的　（　　）

A. 边缘　　B. 内部　　C. 南部　　D. 东部

2. 下列地理事物分布与绿洲无关的是　（　　）

A. 河流　　B. 人口　　C. 交通设施　　D. 矿产

思路点拨：新疆塔里木盆地气候干旱，在盆地边缘的山麓地带和河流沿岸，分布着星星点点的绿洲，是新疆农业所在地，也是人口、城市和交通的分布地区。

答案提示：1. A　　2. D

【精题二】　位于新疆布尔津县的禾木村素有“中国第一村”的美称。原始的人字形木屋，万山尽染的秋色，袅袅的炊烟，胜似仙境。读禾木村景观图，完成1、2题。



1. 人字形屋顶的主要目的是　（　　）

A. 降水丰沛，利于排水　　B. 冬季寒冷，防止积雪

C. 为了美观，排列整齐　　D. 夏季炎热，便于散热

2. 禾木村木屋的大门都朝东开，其主要原因是　（　　）

A. 便于接受阳光照射　　B. 避开冬季寒风

C. 抵御台风影响　　D. 利于出行方便

思路点拨：1. 新疆布尔津县的禾木村属温带大陆性气候，冬季寒冷，降雪较多，故人字形屋顶的木屋可防止积雪。

2. 位于新疆北部布尔津县的禾木村，冬季盛行西北风，禾木村木屋的大门都朝东开，主要是避开冬季寒风。

答案提示：1. B　　2. B

巩固训练

读下列示意图，完成 1～4 题。

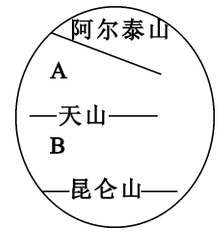

1. 上图表示的是新疆地形的结构图，其中字母 A、B 所代表的盆地名称是 （　　）

A. 塔里木盆地、准噶尔盆地　　B. 准噶尔盆地、柴达木盆地

C. 塔里木盆地、柴达木盆地　　D. 准噶尔盆地、塔里木盆地

2. 塔里木盆地的年降水量在 （　　）

A. 800 毫米以上　　B. 400 毫米至 800 毫米

C. 50 毫米以下　　D. 200 毫米以下

3. 我国最大的沙漠位于 （　　）

A. 准噶尔盆地　　B. 内蒙古高原

C. 塔里木盆地　　D. 柴达木盆地

4. 塔里木盆地中河流的水源主要来自 （　　）

A. 湖泊水　　B. 雨水

C. 地下水　　D. 高山冰雪融水

5. 某旅行社推出从锡林郭勒经河西走廊、吐鲁番盆地到塔里木盆地的西北风情旅游路线，如图所示。读图，完成下列要求。

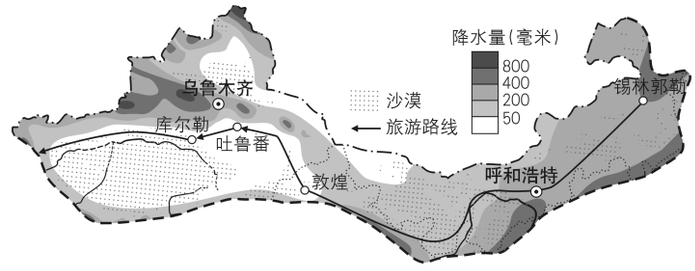

(1) 路线经过的地方，大部分地区年降水量在_____毫米以下，草原、荒漠广布。这里河流稀少，且多为_____河流，是我国内流河的主要分布区。

(2) 锡林郭勒的植被主要是_____，这里散养着许多奶牛。一路向西，植被逐渐过渡为荒漠草原和_____。在塔里木盆地，有我国面积最大的_____沙漠。

(3) 在甘肃河西走廊、新疆高山的山麓地带和河流沿岸的_____上，人们利用冰雪融水和地下水发展了_____农业，使这里成了粮棉瓜果之乡。在吐鲁番盆地，游客会看到“_____”这种著名灌溉引水工程。

(4) 塔里木盆地油气资源丰富，通过_____工程把天然气运送到我国东部地区，缓解东部地区能源供应紧张的局面。

板块五　知识构建，核心问题

归纳总结，关键问题

新疆的自然环境特征

地理位置	位于我国西北边陲，深入亚欧大陆腹地，是亚欧大陆陆上交通枢纽
“三山夹两盆”	阿尔泰山、准噶尔盆地、天山、塔里木盆地、昆仑山
大陆性气候	冬冷夏热，降水稀少，温差较大
河流、植被	河流多为内流河，植被类型以荒漠为主

第 2 学时　绿洲农业　能源资源的开发和利用　边境贸易和旅游业

板块一　创设问题，引领目标

问题导学，明确目标

据报道，2013 年 8 月 27 日 L8007 次摘棉专列载着首批 2799 名摘棉工赴新疆摘棉。预计当年新疆需要摘棉工 55 万人左右。新疆人力资源和社会保障部门多措并举，保障摘棉工顺利“淘金”。

每年 9 月，有数十万农民工大军从全国各地来到新疆。最热闹的时候，每天都有几趟专列抵达新疆。这些主要来自河南、青海、甘肃、宁夏、陕西等地的浩浩荡荡的农民工大军，直到 11 月中下旬才会带着“淘金”的收获，满意地踏上返乡之路。

为什么每年 9 月到 11 月，新疆会成为农民工“淘金”的理想地？

板块二　自学思疑，初探问题

自主学习，亲身感悟

自学提示

阅读教材，关注下列核心词语。

灌溉　绿洲农业　农作物　优质水果　能源资源　边境贸易　旅游资源

问题呈现

阅读教材，思考下列问题。

1. 绿洲的分布有什么规律？

2. 新疆的人口和城镇分布有什么规律？

3. 制约新疆农业生产发展的主要因素是什么？

4. 新疆矿产资源的特色和优势是什么？

5. 新疆发展边境贸易和旅游业的有利条件有哪些？

基础自测

“天山南北好牧场，葡萄瓜果甜又甜……戈壁沙滩变良田，积雪融化灌农庄……”完成1、2题。

1. 歌词描述的省级行政区域是 （　　）

A. 云南省　　B. 湖北省

C. 海南省　　D. 新疆维吾尔自治区

2. “戈壁沙滩变良田，积雪融化灌农庄”体现了当地富有特色的 （　　）

A. 河谷农业　　B. 水田农业

C. 绿洲农业　　D. 基塘农业

读塔里木盆地荒漠化发展地区分布示意图（阴影部分表示荒漠化发展地区）和草方格沙障图，完成3、4题。

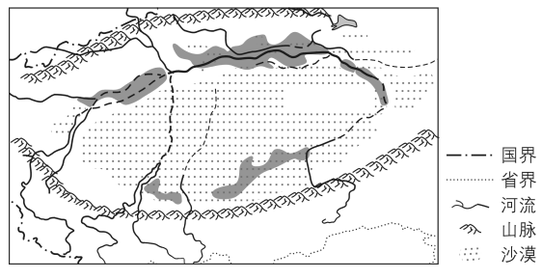

3. 近几十年来，塔里木盆地荒漠化速度加快的最主要原因是 （　　）

A. 大量开采矿产，破坏天然植被　　B. 人类不合理的生产、生活活动

C. 工业化和城市化的迅速发展　　D. 气候干旱，降水稀少，沙漠广布

4. 在西北地区经常可以看到如图所示的草方格沙障，其主要生态功能是 （　　）

①改变植被类型　②截留水分　③改变气候类型　④削弱风力

A. ①②　　B. ②④　　C. ③④　　D. ①③

板块三　合作探究，共析问题

主动合作，协同探究

与图对话

1. 阅读教材图7.15，认识新疆绿洲、城市和人口的分布。

（1）根据图例找出新疆绿洲的分布地区，并分析绿洲的分布规律。

（2）找出新疆的主要城市，说出它们的名称。

（3）分析新疆人口、城市分布与绿洲的关系。

2. 阅读教材图 7.17，认识新疆油气资源的分布。

（1）根据图例说出新疆有哪些重要的矿产资源，并在图中找出其主要分布地区。

（2）分析新疆油气资源的分布规律。

（3）找出西气东输工程的起点、路线经过的新疆的城市。

3. 阅读教材图 7.17，认识新疆重要的边贸口岸。

（1）找出新疆主要的城市和边贸口岸，注意观察它们的相关地理位置。

（2）找出新疆主要的铁路线，说出它们的名称。

（3）新疆主要的现代交通运输方式有哪些？

（4）新疆塔里木盆地和准噶尔盆地公路线的分布有何特点？为什么？

活动探究

1. 新疆是我国著名的“瓜果之乡”，品种繁多的瓜果不仅色彩鲜艳，而且特别甜。同学们，你知道新疆的瓜果为什么色泽鲜艳，而且特别甜吗？

2. 阅读材料，回答问题。

新疆的位置和地形特点导致气候以干旱为突出特点，使新疆形成与之相适应的荒漠为主的自然景观。事实说明，自然环境是一个整体，各要素之间相互制约、相互影响。人类是自然环境的产物，环境特征

会影响人类的生产和生活，干旱的自然环境导致新疆城市、人口和交通设施都集中分布在绿洲地区。但是，目前随着人口的增长、经济的发展，人口与水资源的矛盾日益突出，使新疆乃至整个西北地区都因为缺水而陷入了生存和发展的困境。

请结合所学知识，面对现实，谈谈我们应该从哪些方面做好缓解人水的矛盾。

板块四　展示交流，巩固训练

精选精展，精选精练

精题展示

【精题一】　读图，完成 1、2 题。

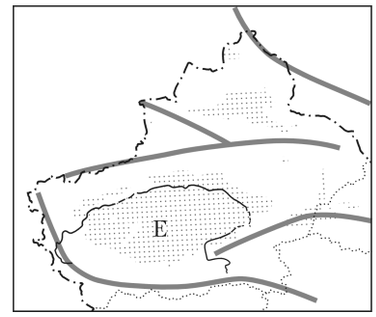

1. 关于该地区的叙述，正确的是　（　　）

A. 气候最突出的特点是“高寒”　　B. 地形结构为“三山夹两盆”

C. 有我国海拔最高的湖泊　　D. E 处为世界面积最大的沙漠

2. 本区拥有丰富的自然资源。下列叙述错误的是　（　　）

A. 风力大，可利用风能发电

B. 水能资源丰富，可建水能发电站

C. 天然气储量丰富，可通过管道运输到东部沿海地区

D. 坎儿井是本区著名的地下引水工程

思路点拨： 1. 由图可知，图中区域是新疆维吾尔自治区，这里气候最突出的特点是干旱，本区的地形结构是“三山夹两盆”，本区内有我国最长的内流河和最大的沙漠。最高的湖泊在青藏地区。

2. 本区风力大，可以利用风能发电。这里地势平坦，河流稀少，水能资源不丰富，但天然气资源丰富，可通过管道运输到东部沿海地区。本区著名的地下引水工程是坎儿井。

答案提示： 1. B　　2. B

【精题二】　新疆维吾尔自治区的喀什市，于 2010 年 5 月正式成立经济特区。与我国沿海的经济特区相比，喀什市具有的优势是　（　　）

A. 海陆交通便利　　B. 有利于与中亚国家的贸易往来

C. 工农业发达　　D. 科技力量雄厚

思路点拨： 喀什与我国沿海的经济特区相比，具有的优势是这里地处祖国的西大门，有利于与中亚国家的贸易往来。

答案提示： B

巩固训练

新疆喀什地区的疏勒县是东营的对口援建城市，暑假期间东营的小琦到新疆看望援疆的爸爸。读图，完成1、2题。

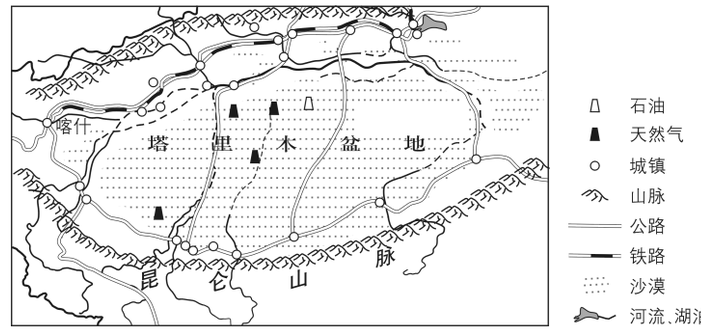

1. 小琦到喀什后，发现这里的瓜果特别甜。其原因是 （　　）

A. 降水丰富，水分充足　　B. 气温低，生长缓慢

C. 夏季日照充足，昼夜温差大　　D. 人口稀少，环境污染小

2. 小琦在塔里木盆地游览时遇到的情景可能有 （　　）

①一路上阴雨连绵　②城市和人口主要分布在盆地边缘的绿洲上　③盆地绿洲的用水主要来自天山和阿尔泰山的冰川融水　④在盆地内部看到许多大型油田

A. ①②　　B. ③④　　C. ①③　　D. ②④

读我国西气东输一线工程主干道走向示意图，完成3、4题。

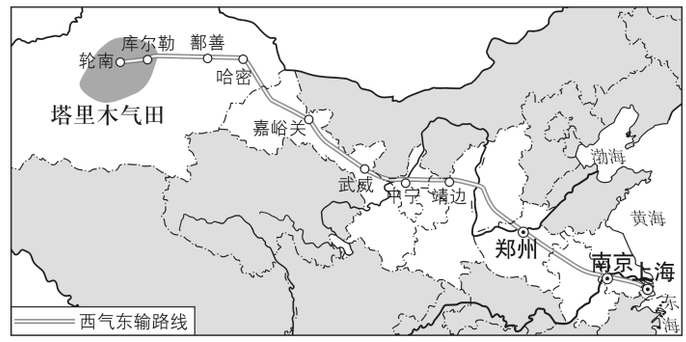

3. 西气东输一线工程主干道由西向东途经地区的自然带分别为 （　　）

①亚热带常绿阔叶林带　②温带落叶阔叶林带　③温带草原带　④温带荒漠带

A. ①②③④　　B. ②①③④　　C. ③④①②　　D. ④③②①

4. 西气东输工程对东部地区生态环境的有利影响是 （　　）

A. 促进东部地区改变能源结构　　B. 促进东部地区轻重工业的结构调整

C. 有效改善大气环境　　D. 有利于带动东部地区城镇基础设施的建设

5. 阅读图文材料，回答问题。

材料一　新疆是我国最大的棉花生产基地，种植面积、单位面积产量、总产量、收购量连续多年位居全国第一，近年棉花产量占全国的40%以上。新疆也是我国唯一的长绒棉产地，以纤维长、色泽好、品质高而受到国内外用户的青睐。

材料二　下图为新疆的特色农产品。

长绒棉

吐鲁番的无核葡萄

哈密瓜

材料三 新疆棉花种植区分布图。

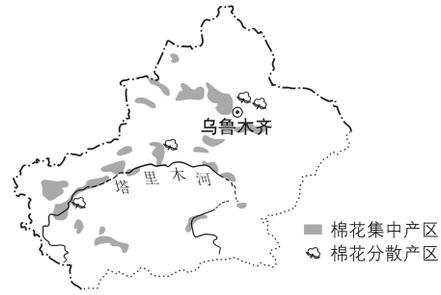

（1）新疆绿洲的特色农产品主要有哪些？新疆盛产哪些优质瓜果？

（2）新疆的瓜果为什么特别甜，色彩也特别鲜艳？

（3）结合新疆的自然条件，分析新疆种植棉花的优势条件，以及影响棉花种植空间分布的因素。

板块五 知识构建，核心问题

归纳总结，关键问题

1. 绿洲农业

（1）灌溉水源：高山冰雪融水。

（2）分布：塔里木和准噶尔等盆地边缘以及水源充足、土质较好的山前冲积平原地区。

（3）主要农作物：小麦、玉米、甜菜、长绒棉等。

2. 能源资源的开发和利用

（1）开发条件：有利条件——油气资源丰富，尤其天然气的储量占全国陆上天然气总储量的 1/4 左右。

不利条件——气候严酷，交通不便。

（2）西气东输：

起点		新疆塔里木盆地的轮南油气田
终点		上海
意义	**西部**	油气资源得到开发，带动了西部地区的经济发展
	东部	缓解了东部地区的能源短缺问题，改善了东部地区的大气环境

3. 边境贸易和旅游业

（1）著名的边贸口岸：阿拉山口、霍尔果斯、红其拉甫、塔城等。

（2）旅游业发展的有利条件：旅游资源丰富，古丝绸之路等历史文化古迹和多姿多彩的民族风情。

7.3 台湾——祖国的宝岛

第1学时 祖国不可分割的神圣领土

板块一 创设问题，引领目标

问题导学，明确目标

同学们，图片展示的日月潭是我国一个著名的旅游景点。你知道它位于我国哪个省吗？你知道日月潭名称的来历吗？

板块二 自学思疑，初探问题

自主学习，亲身感悟

自学提示

阅读教材，关注下列核心词语。

台湾岛　澎湖列岛　钓鱼岛　赤尾屿　统一

问题呈现

阅读教材，思考下列问题。

1. 说出台湾省的地理范围。

2. 台湾岛的地形有什么特点？

3. 台湾岛的气候有什么特点？

基础自测

国庆黄金周期间，西安市某旅行社组织一批游客乘专机从西安咸阳国际机场起飞，直航飞赴我国最大的海岛观光旅行。完成1～4题。

1. 该海岛属于我国的 （　　）

A. 海南省　　B. 台湾省　　C. 广东省　　D. 福建省

2. 该专机航行方向大致是 （　　）

A. 由西北向东南　　B. 由东北向西南

C. 由西南向东北　　D. 由东南向西北

3. 该旅行团安排的游览项目丰富多彩，其中行程之一是 （　　）

A. 攀登泰山观日出　　B. 骑骆驼沙漠探秘

C. 乘船游览日月潭　　D. 孔子故里看孔庙

4. 乘车途中，知识丰富、语言流畅的导游向游客介绍了该岛神奇秀美的最高峰。这座山峰是 （　　）

A. 五指山　　B. 普陀山　　C. 黄山　　D. 玉山

板块三　合作探究，共析问题

主动合作，协同探究

与图对话

1. 阅读教材图7.19、图7.20，认识台湾岛的地理位置和自然特征。

（1）写出台湾岛的经纬度位置、海陆位置和相关位置。

（2）写出台湾岛主要的山地、平原、河流，概括其地形分布特点和河流特点。

2. 阅读教材图7.21，认识台湾岛的地形地势特征。

（1）说出该图的图名和该剖面图横、纵坐标的含义。

（2）读出该剖面图自西向东通过的海域和地形区名称。

（3）归纳总结台湾岛的地势特点。

活动探究

阅读材料，回答问题。

我国年降水量最多的地方是台湾岛东北部的火烧寮，年均降水量高达6558毫米，北京年均降水量为484毫米，火烧寮一年的平均降水量相当于北京13年半的降水量。

试探究火烧寮成为我国“雨极”的原因。

板块四　展示交流，巩固训练

精选精展，精选精练

精题展示

【精题一】　台湾岛是我国第一大岛。读图，完成1、2题。

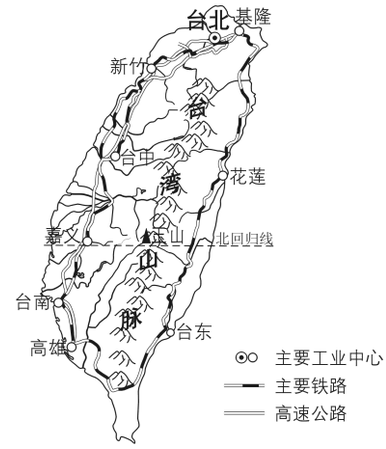

1. 关于台湾岛的叙述，正确的是　（　　）

A. 地形以平原为主　　B. 气候属温带海洋性气候

C. 最长的河流是浊水溪　　D. 主要的少数民族是壮族

2. 影响台湾岛交通线呈环状分布的主要因素是　（　　）

A. 地形　　B. 气候　　C. 河流　　D. 土壤

思路点拨：1. 台湾岛的地形以山地为主，气候属热带、亚热带季风气候，主要少数民族是高山族，最长的河流是浊水溪。

2. 台湾岛的地形以山地为主，平原主要分布在沿海地区，故台湾岛交通线呈环状分布在四周的沿海地区。

答案提示：1. C　　2. A

【精题二】　2017年11月22日，在台湾省云林县发生5.2级地震。据历史统计，台湾省震中100千米范围内发生5.0级～7.3级地震已达213次。下图示意台湾省农业分布，完成1、2题。

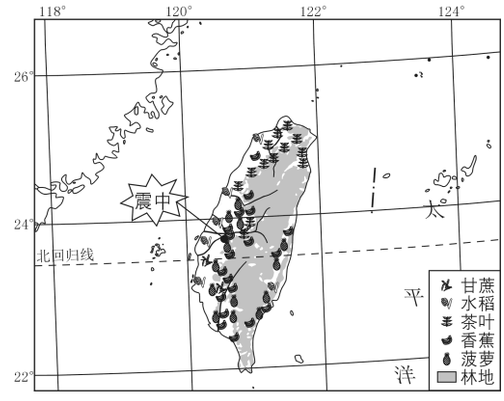

1. 台湾岛被誉为“东方甜岛”“海上米仓”，影响其农产品种类的首要因素是 （　　）

A. 气候　　B. 地形　　C. 土壤　　D. 交通

2. 图示地区多地震的原因是位于 （　　）

A. 亚洲和太平洋的交界　　B. 喜马拉雅—地中海火山地震带

C. 东海和太平洋交汇处　　D. 亚欧板块和太平洋板块交界处

思路点拨：1. 台湾岛被誉为“东方甜岛”“海上米仓”主要是因为其所处纬度较低，所以气候湿热，水热条件优越，农业相对发达。

2. 台湾岛多火山地震，主要是因为其地处亚欧板块和太平洋板块交界地带，地壳运动活跃。

答案提示：1. A　　2. D

巩固训练

1. 关于台湾岛地理位置的叙述，错误的是 （　　）

A. 台湾岛地跨热带和亚热带　　B. 台湾岛位于太平洋西岸

C. 台湾岛东侧濒临台湾海峡　　D. 台湾岛隔台湾海峡与福建省相望

2. 关于台湾岛地形的叙述，正确的是 （　　）

A. 台湾岛 2/3 的面积为平原　　B. 台湾岛的地形以山地和丘陵为主

C. 台湾岛的地势西高东低　　D. 台湾岛的最高峰位于中央山脉

3. 关于台湾岛气候的叙述，正确的是 （　　）

A. 全部为多雨的热带季风气候　　B. 夏季高温多雨，冬季寒冷干燥

C. 属高温多雨的热带雨林气候　　D. 属热带、亚热带季风气候，温暖湿润

4. 台湾省的人口和工业主要分布在台湾岛的 （　　）

A. 东部　　B. 北部　　C. 西部　　D. 南部

5. 读台湾岛略图，完成下列要求。

(1) 在图中适当位置填注台湾海峡、太平洋、浊水溪。

(2) 将我国东部最高峰的海拔高度填在图中适当位置。

(3) 在图中适当位置用符号“●”标注我国年降水量最多的地方。

(4) 自选图例，在图中适当位置描绘台湾山脉。

(5) 在图中用绿颜色标注台湾最大平原的位置。

(6) 根据图中河流流向说出台湾岛的地形大势。

板块五　知识构建，核心问题

归纳总结，关键问题

台湾——祖国不可分割的神圣领土

地理位置与范围	位置	北临东海，东临太平洋，西隔台湾海峡与福建省相望；北回归线横穿中南部
	范围	包括台湾岛及周围的澎湖列岛、钓鱼岛、赤尾屿等众多小岛。台湾岛是我国面积最大的岛屿
自然环境与资源	气候	热带、亚热带季风气候，温暖湿润
	地形	台湾岛 2/3 为山地，形成该岛东部多山脉、中部多丘陵、西部多平原的地形特征
	水文	河流短而水流急，水能资源蕴藏量大；航运条件差
	地质	地处亚欧板块与太平洋板块的交界地带，多火山、地震

第 2 学时　资源丰富的宝岛　出口导向型经济

板块一　创设问题，引领目标

问题导学，明确目标

祖国宝岛——台湾岛，自然环境优美，风光秀丽，物产丰富。自 2005 年 8 月 1 日起，产自台湾地区的优质水果正式进入祖国内地市场销售。

台湾生产的水果主要有哪些？

板块二　自学思疑，初探问题

自主学习，亲身感悟

自学提示

阅读教材，关注下列核心词语。

山地　丘陵　平原　物产　宝岛　出口导向型　工业分布

问题呈现

阅读教材，思考下列问题。

1. 台湾省地处热带和亚热带地区，为什么会有亚寒带的植被景观？

2. 为什么台湾岛蕴藏着丰富的水能资源？

3. 为什么台湾岛西海岸自古就是重要的海盐产区？

4. 为什么台湾省主要的工业城市多分布在西部沿海地带？

基础自测

乌鱼子是台湾岛西南沿海特产，主要用乌鱼的鱼子精制而成，是“世界三大美食”之一。完成1、2题。

1. 宝岛台湾物产丰富，美誉众多。下列美誉属于台湾的是 （　　）

①亚洲天然植物园　②东方甜岛　③海上米仓　④天然橡胶的故乡　⑤原材料仓库

A. ①②③　　B. ②③④　　C. ①③⑤　　D. ②④⑤

2. 关于台湾岛的叙述，不正确的是 （　　）

A. 河流短急，内河航运发达

B. 铁路环岛分布主要受地形影响

C. 人口、城市主要分布在沿海及西部平原

D. 出口贸易一直是台湾省重要的经济命脉

位于陕西省的黄帝陵，相传是华夏始祖轩辕黄帝的陵园。每年清明节，国家在这里举行隆重的祭祖大典，大陆同胞、台湾同胞和海外侨胞共同参加祭祀典礼。完成3、4题。

3. 台湾同胞参加黄帝陵清明节祭祀典礼，说明了 （　　）

A. 大陆和台湾人民同根同祖　　B. “黄土风情”感染力强

C. 台湾与大陆近在咫尺　　D. 大陆疆域辽阔、人口众多

4. 陕西省蕴含历史文化的简称是 （　　）

A. 晋　　B. 鲁　　C. 秦　　D. 黔

板块三　合作探究，共析问题

主动合作，协同探究

与图对话

1. 阅读教材图7.22，结合下面的结构图，了解台湾岛丰富的物产分布。

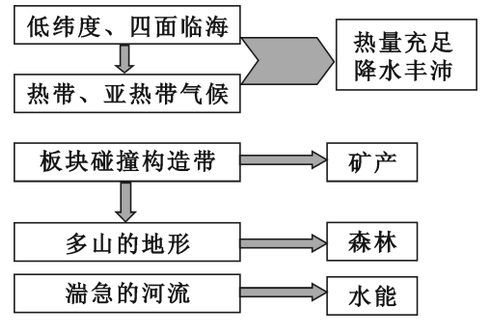

“海上米仓”	“东方甜岛”	“水果之乡”	“森林之海”	“东南盐仓”
盛产大米		盛产亚热带水果		盐产丰富

2. 阅读教材图 7.25，分析台湾岛的工业分布特点。

（1）台湾岛的工业主要分布在哪几个城市？这几个城市的分布有什么特点？

（2）这种分布特点的形成，可能受到哪些因素的影响？

3. 阅读教材图 7.26，认识台湾省出口贸易结构的变化。

（1）说出 20 世纪 60 年代以前，台湾省的出口贸易结构以及主要出口的产品。

（2）说出 2010 年台湾省的出口贸易结构以及主要出口的产品。

（3）分析台湾省出口贸易结构变化的特点及其原因。

活动探究

1. 读台湾岛山地植被分布图，简要分析为什么台湾岛有“天然植物园”之称。

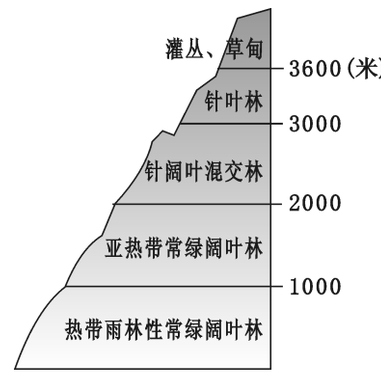

2. 阅读图文材料，回答问题。

材料一 台湾岛旅游资源十分丰富，风景区类型多种多样，包括森林风景区、湖潭风景区、水库风景区、温泉风景区、瀑布风景区、海滨风景区、绿岛风景区等，自古以来就有“美丽宝岛”的美誉。

材料二 台湾岛旅游资源分布图。

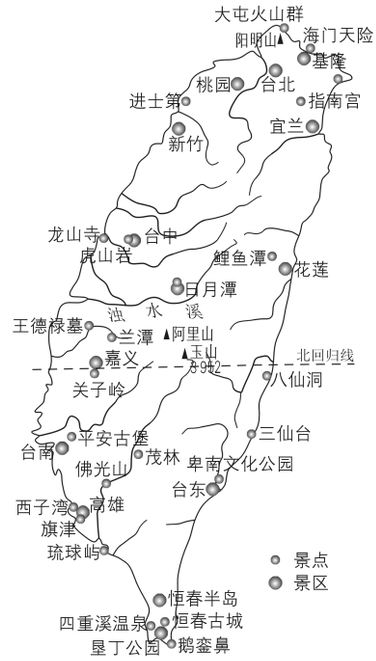

(1) 请你为大家介绍一到两个台湾岛有名的旅游景点。

(2) 结合所学知识，简要说明台湾岛为什么有类型多样的旅游资源。

板块四 展示交流，巩固训练

精选精展，精选精练

精题展示

【精题一】 国家旅游局在第三届海峡论坛大会上宣布，大陆居民个人赴台旅游正式启动。小丽成为了一名幸运者，她查阅了很多关于台湾的资料，你认为不可信的是 ( )

A. 台湾环岛建有电气化铁路和高速公路

B. 日月潭、阿里山是台湾岛著名的旅游景点

C. 台湾岛河流短小，水流湍急，水能资源丰富

D. 台湾岛人口最多的少数民族高山族，主要分布在西部沿海

思路点拨： 台湾岛的少数民族主要分布在中部和东部的山地。

答案提示： D

【精题二】 福建省历来以方言复杂著称。方言的形成主要由于社会的分裂、人民的迁徙和地理的阻隔。读福建省主要方言分布示意图，完成1～3题。

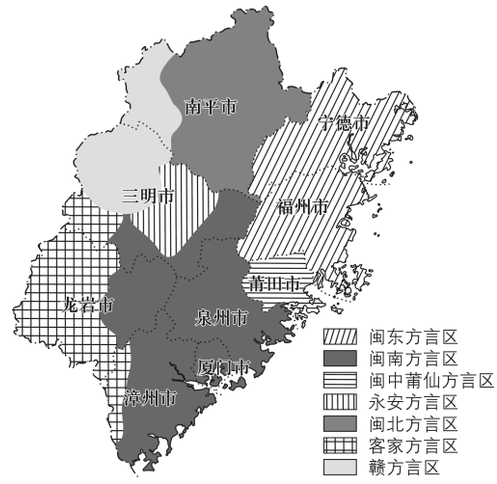

1. 福建省方言分布最广的是 （　　）

A. 闽南方言　　B. 闽北方言

C. 客家方言　　D. 莆仙方言

2. 闽东方言主要分布在 （　　）

A. 龙岩、漳州　　B. 莆田、泉州

C. 南平、三明　　D. 福州、宁德

3. 福建省方言复杂的主要自然原因是 （　　）

A. 多山地丘陵，地形闭塞　　B. 气候复杂，垂直变化大

C. 河流众多，水运条件好　　D. 植被茂密，视野不开阔

思路点拨：1. 由图可知，福建省方言分布最广的是闽南方言。

2. 由图可知，闽东语主要分布在福州、宁德两市。

3. 由题干信息“方言的形成主要由于社会的分裂、人民的迁徙和地理的阻隔”，再结合福建省主要方言分布可知，福建省方言复杂的主要自然原因是多山地丘陵，地形闭塞，各区域之间缺乏必要的交流。

答案提示：1. A　2. D　3. A

巩固训练

台湾岛属热带、亚热带气候，温暖湿润。台湾山脉海拔较高，水热状况随地势变化大，从山麓到山顶分布着热带、亚热带、温带和亚寒带森林。完成1、2题。

1. 台湾岛植物种类繁多，其中最著名的树种是 （　　）

A. 樟树　　B. 椰子树　　C. 茶树　　D. 松树

2. 该树种产品产量居世界首位，这种产品是 （　　）

A. 椰汁　　B. 茶叶　　C. 松子　　D. 樟脑

3. 在今年海交会上，来自宝岛台湾的农产品大受欢迎，这些农产品最有可能是 （　　）

A. 大米、菠萝　　B. 苹果、梨

C. 棉花、甜菜　　D. 玉米、大豆

4. 下列美誉不属于台湾岛的是 （　　）

A. “海上米仓”　　B. “东方甜岛”

C. “热带动物王国”　　D. “亚洲天然植物园”

5. 读台湾岛矿产、农产、城市分布略图，完成下列要求。

（1）写出图中字母所代表的城市名称。

A. _____ B. _____ C. _____

（2）台湾岛最大的重工业中心和最大的港口城市是_____，号称“台湾硅谷”的城市是_____，台湾岛上距离大陆福建省福州港最近的港口城市是_____。（均填字母）

（3）台湾岛的农产品和森林主要分布在什么地方？为什么？

板块五　知识构建，核心问题

归纳总结，关键问题

1. **资源丰富的宝岛**

美称	含义
“亚洲天然植物园”“植物王国”	森林面积广且树种繁多（最著名的树种是樟树，特有树种是红桧）
“海上米仓”	台湾岛盛产稻米，其中最著名的是“蓬莱米”
“水果之乡”	台湾岛盛产热带、亚热带水果，香蕉、菠萝驰名中外
“兰花之乡”	台湾岛盛产兰花，香是兰花的精髓，人们把兰花称为国香、香祖
“东方甜岛”	台湾岛盛产甘蔗
“东南盐库”	海盐产量很高，自古以来就是重要的海盐产地

2. **台湾岛的海盐产区及原因**

台湾岛的海盐产区分布在台湾海峡沿岸。首先，台湾岛西海岸属淤泥质海岸，比较平坦；其次，受台湾山脉对东南季风的阻挡，降水较少，有利于海水的蒸发。

3. **台湾省的经济**

（1）发展过程：

20 世纪 50 年代	以农业和农产品加工业为主
20 世纪 60～90 年代	出口加工工业，形成“进口—加工—出口”型经济
20 世纪 90 年代以来	以电子工业为主导的高新技术产业

（2）出口导向型经济发展的有利条件：大量受过教育和培训的劳动力，海岛多港口，吸收我国资本，大力建设出口加工区。

（3）出口贸易一直是台湾省重要的经济命脉；目前，祖国大陆是台湾省最大的贸易伙伴。

4. **台湾岛的人口、城市**

（1）分布特征：主要分布在西部沿海地区。

（2）主要城市：台北、台中、高雄。

5. **自然地理环境对台湾岛农业生产的影响**

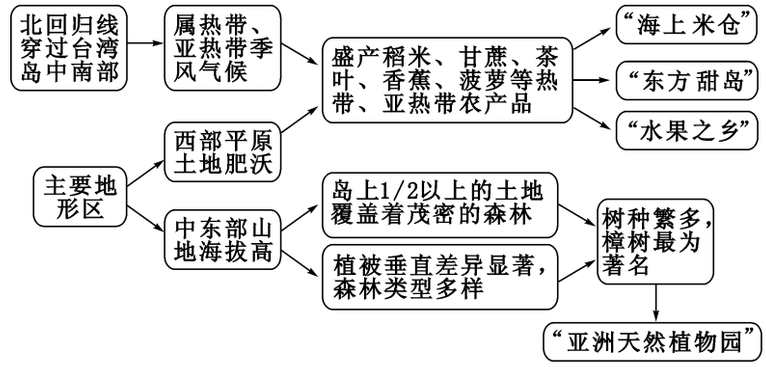

6. **影响台湾岛工业分布的因素**

（1）地形：西部地区是平原，地势平坦；中东部地区是山地。

（2）发展历史：西部地区距离祖国大陆较近，发展较早。

（3）人口分布：西部地区人口密集，劳动力丰富，消费市场广阔。

（4）交通：西部地区铁路密集，而且与祖国大陆仅仅隔着台湾海峡，无论是台湾岛内还是与大陆之间，交通都非常便利。

7.4 香港和澳门——祖国的特别行政区

板块一 创设问题，引领目标

问题导学，明确目标

同学们，你能说出上图展示的两面旗帜的名称吗？

板块二 自学思疑，初探问题

自主学习，亲身感悟

自学提示

阅读教材，关注下列核心词语。

东方明珠　香港岛　地理位置　会展中心　四大支柱　填海造陆

问题呈现

阅读教材，思考下列问题。

1. 香港特别行政区和澳门特别行政区与祖国内地其他省级行政区域相比有什么“特别”之处？

2. 简述港澳与祖国内地的联系。

基础自测

1. 与香港和澳门相邻的省级行政区域的简称是　（　　）

A. 粤　B. 桂　C. 云　D. 闽

2. 被誉为“购物者的天堂”和“东方明珠”的是　（　　）

A. 台北　B. 香港　C. 澳门　D. 深圳

3. 香港对外贸易比澳门发达的主要原因是　（　　）

A. 香港比澳门面积大、人口多　B. 香港自然资源比澳门丰富

C. 香港有深水港，港口条件优于澳门　D. 香港有铁路与广州连通

4. 与澳门毗邻的经济特区是　（　　）

A. 珠海　B. 深圳　C. 厦门　D. 广州

板块三　合作探究，共析问题

主动合作，协同探究

与图对话

1. 阅读教材图 7.27、图 7.28，认识香港的位置和范围。

（1）说出香港特别行政区的组成范围。

（2）说出香港在全国的位置及其海陆位置和相关位置。

（3）分析香港地理位置的优越性。

2. 阅读教材图 7.32，认识澳门的位置和范围。

（1）说出澳门特别行政区的组成范围。

（2）说出澳门在全国的位置及其海陆位置和相关位置。

（3）分析澳门地理位置的优越性。

3. 阅读教材第 78 页“澳门的填海造陆”图，认识澳门土地面积变化的原因。

（1）说出澳门特别行政区各组成部分之间的联系方式。

（2）分析澳门土地面积变化的原因及其意义。

活动探究

1. 读香港城市景观图，回答问题。

（1）香港城区高楼林立，其自然原因是什么？

（2）为了缓解香港用地紧张，一般采取哪些措施？

2. 你了解图中的景点吗？除此之外，你还了解澳门哪些景点？请把它们介绍给同学。

妈祖阁



“唐城”

3. 读图，说一说香港进出口贸易的地区构成特点。

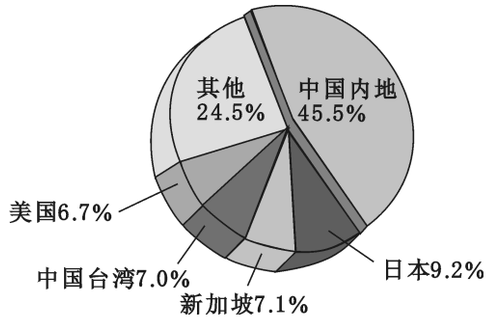

2010 年香港进口商品的地区构成

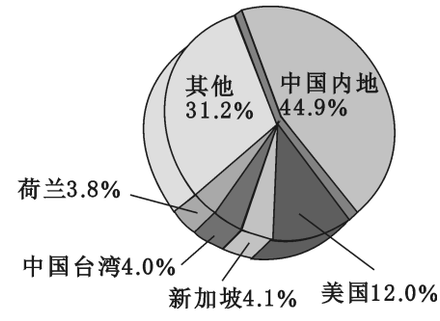

2010 年香港出口商品的地区构成

板块四　展示交流，巩固训练

精选精展，精选精练

精题展示

【精题一】　读图，完成1、2题。

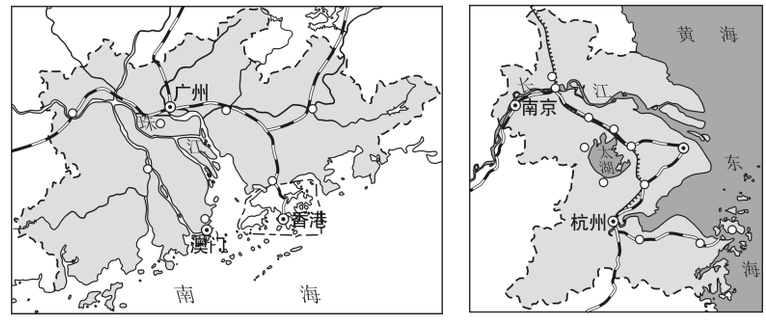

甲　　乙

1. 香港和澳门均为我国的特别行政区，其相同的地理特征是（　　）

A. 位于珠江口东侧，与广东省相邻　　B. 人多地狭

C. 均为世界重要的金融中心　　D. 经济支柱都是旅游博彩业

2. 图示区域均是我国重要的工业基地。与乙图相比，甲图所示区域发展工业的突出优势是（　　）

A. 煤、铁等矿产资源分布集中　　B. 多港湾，海上运输便利

C. 毗邻港澳，很多地方是“侨乡”　　D. 高等院校众多，科技力量雄厚

思路点拨：1. 香港位于珠江口东侧，澳门位于珠江口西侧。香港是世界重要的金融中心，澳门的经济支柱是旅游博彩业。香港和澳门地域狭小，人口密度很大，属于人多地狭的省区。

2. 甲图是珠江三角洲工业基地，乙图是长江三角洲工业基地。与长江三角洲工业基地相比，珠江三角洲工业基地的突出优势是毗邻港澳，很多地方是“侨乡”，便于引进港澳地区的资金、技术、人才和管理经验。长江三角洲和珠江三角洲工业基地都多港湾，海上运输便利；附近都没有丰富的煤铁资源；都是高等院校众多，科技力量雄厚。

答案提示：1. B　　2. C

【精题二】　粤港澳大湾区发展目前致力于共建金融核心圈，形成以香港为龙头，以广州、深圳、澳门、珠海为依托，以广州南沙、深圳前海和珠海横琴为节点的大湾区金融核心圈。完成1～3题。

1. 关于粤港澳大湾区的叙述，不正确的是（　　）

A. 珠江三角洲的城市化进程将加快

B. 区域内各城市的经济发展差距将更进一步拉大

C. 辐射粤东西北地区，促进广东的全面发展

D. 区内交通基础设施将进一步完善

2. 关于三个节点的叙述，正确的是（　　）

A. 深圳前海位于珠江口东岸，毗邻澳门

B. 珠海横琴位于珠江口西岸，毗邻香港

C. 三个节点所在的城市都属于经济特区

D. 三个节点都位于珠江口，海运便利，有利于对外贸易

3. 2018年是改革开放40周年。20世纪90年代依靠自身优势承接产业转移的珠江三角洲地区实现了第一次腾飞；但近年来，珠江三角洲地区经济增长已放缓。针对此现状，可采取的对策是（　　）

A. 减小企业投资规模　　B. 高薪招聘务工人员

C. 进行产业升级和区域创新　　D. 迁出大型制造业

思路点拨：1. 粤港澳大湾区发展目前致力于共建金融核心圈，形成以香港为龙头，以广州、深圳、澳门、珠海为依托，以广州南沙、深圳前海和珠海横琴为节点的大湾区金融核心圈。随着粤港澳大湾区的进一步发展，珠江三角洲的城市化进程将加快，区域内各城市的经济发展差距将越来越小，辐射粤东西北地区，促进广东省的全面发展，区内交通基础设施将进一步完善。

2. 香港位于珠江口的东岸，北与深圳市相邻；澳门位于珠江口的西侧，北与珠海市相邻；广州南沙节点不属于经济特区。广州南沙、深圳前海和珠海横琴三个节点都位于珠江口，海运便利，有利于对外贸易。

3. 针对题干所述现状，可采取的对策是进行产业升级和区域创新。

答案提示：1. B　2. D　3. C

巩固训练

读下列景观图，完成 1、2 题。

①香港东涌地域开拓工程

②西九龙填海工程

③香港中环

④香港合和大厦

1. 符合香港扩展城市建设用地“上天”方式的是　(　　)

A. ①②　B. ②③　C. ③④　D. ①④

2. 符合香港扩展城市建设用地“下海”方式的是　(　　)

A. ①②　B. ②③　C. ③④　D. ①④

3. 有人把城市楼房高度超过 90 米的部分高度之和称为“城市个头”。香港的“城市个头”在我国各城市中排名靠前，其原因主要是　(　　)

A. 香港地狭人稠　B. 香港的交通逐渐向现代化立体化发展

C. 香港地势较高　D. 香港容易发生洪涝灾害

4. 珠江三角洲地区在与香港的合作中，充当的主要角色是　(　　)

A. 人才输出地　B. 资源输出地　C. 加工厂　D. 资金输出地

5. 读澳门陆地面积的变化示意图，回答问题。

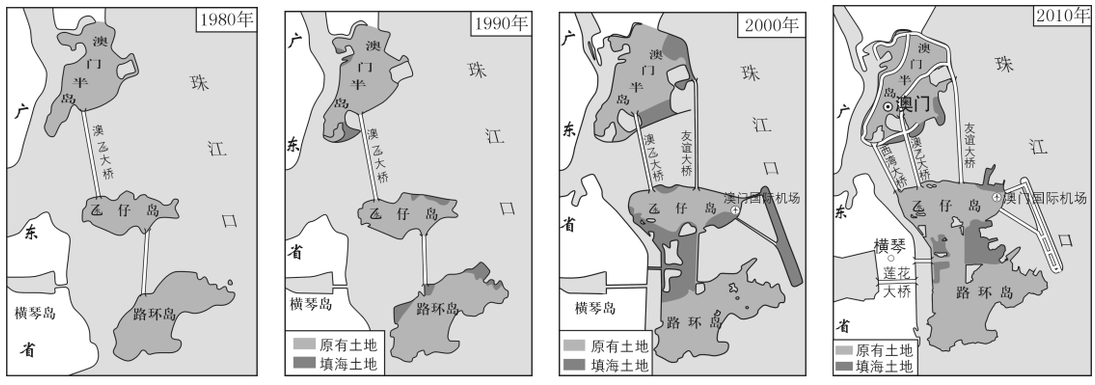

(1) 说一说澳门陆地面积的变化趋势。

（2）推测澳门陆地面积变化的主要原因。

板块五　知识构建，核心问题

归纳总结，关键问题

1. **特别行政区**

	香港	澳门
位置	珠江口东岸，与广东省深圳市相邻	珠江口西岸，与广东省珠海市相邻
组成	由香港岛、九龙、新界和附近200多个岛屿组成	由澳门半岛、氹仔岛、路环岛组成
人口	约706.8万人（2010年）	约54.5万人（2010年）
面积	1104平方千米（2010年）	29.7平方千米（2010年）
回归祖国时间	1997年7月1日	1999年12月20日
政治制度	我国政府制定了“一国两制”政策，祖国内地实行社会主义制度，港澳实行资本主义制度	

2. **香港城市建设用地扩展方式**

“上天”——建设高层建筑，“下海”——填海造陆。

3. **港澳与祖国内地的密切联系**

（1）经济发展条件：不利条件——地狭人稠、自然资源匮乏。有利条件——发挥地理位置优势，依托祖国内地强有力的支持。

（2）经济特点：

①香港：重要的国际金融中心、贸易中心、信息服务中心及航运中心。

②澳门：旅游博彩业是支柱产业。

（3）香港与祖国内地的经济合作优势互补、互惠互利。

祖国内地		港澳
稳定地供应港澳淡水、食品、原料、燃料等生产和生活资料	优势互补，互惠互利	拥有丰富的资金、技术、人才和管理经验

第七章测评

一、单项选择题

读北京市地形图，完成 1～4 题。

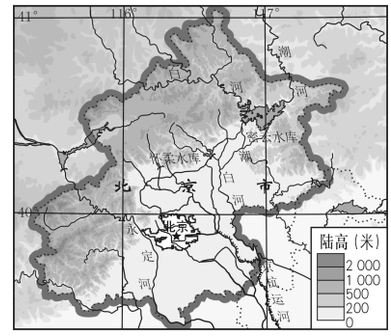

1. 关于北京的叙述，不正确的是 （　　）

A. 是我国的政治、文化中心

B. 地势由西北向东南倾斜

C. 突出的环境问题有水资源紧缺，交通拥堵等

B. 为了缓解人口压力，应进一步扩大城市规模

2. 北京市的整体地势特征是 （　　）

A. 东高西低　　B. 南高北低

C. 西北高、东南低　　D. 东北高、西南低

3. 下列城市发展目标，与北京市不相符的是 （　　）

A. 国家首都　　B. 文化名城

C. 工业中心　　D. 世界城市

4. 下列做法，有利于北京市可持续发展的是 （　　）

A. 利用名胜古迹发展旅游　　B. 在城区大量开采地下水

C. 山区砍伐林木，增加耕地面积　　D. 鼓励外地人口迁入，扩大城市规模

读我国东南沿海局部图，完成 5、6 题。

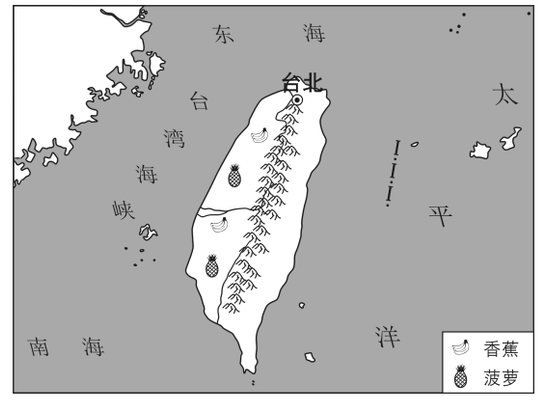

5. 台湾岛东西两侧濒临的海域分别是 （　　）

A. 大西洋、琼州海峡　　B. 太平洋、琼州海峡

C. 大西洋、台湾海峡　　D. 太平洋、台湾海峡

6. 台湾岛素有“水果之乡”的美称，盛产的热带、亚热带水果有（　　）

①甜菜　②香蕉　③菠萝　④苹果

A. ①②　　B. ②③　　C. ①④　　D. ③④

读珠江三角洲局部图，完成7、8题。

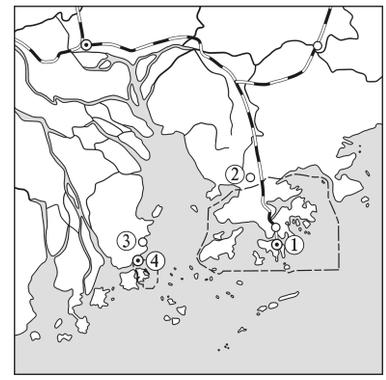

7. 图中表示香港的是（　　）

A. ①　　B. ②　　C. ③　　D. ④

8. 北京直达香港的铁路线是（　　）

A. 陇海线　　B. 京广线　　C. 京沪线　　D. 京九线

二、综合题

9. 读我国南方地区集中连片扶贫攻坚主战场示意图，回答问题。

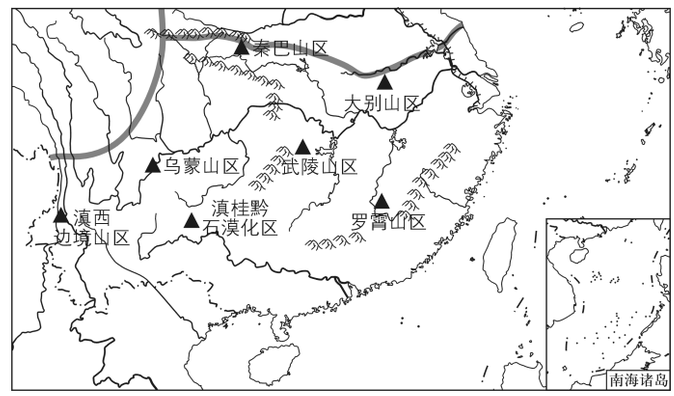

（1）我国南方地区地形复杂多样，东部有_____平原和东南丘陵交错分布，西部以_____高原和_____盆地为主。南方地区集中连片扶贫攻坚主战场的主要地形是_____。

（2）在湿热的环境下发育了红色的土壤，因此南方地区被称为“_____”。长江三角洲地区河网密布，物产富饶，自古以来就是我国著名的“_____”。

（3）长江中下游地区有我国最大的城市群，核心城市是_____。

（4）香港是世界著名_____。澳门_____发达，是其经济发展的支柱产业。台湾岛上森林面积广阔，有“_____”的美誉。

10. 读台湾省地形图，回答问题。

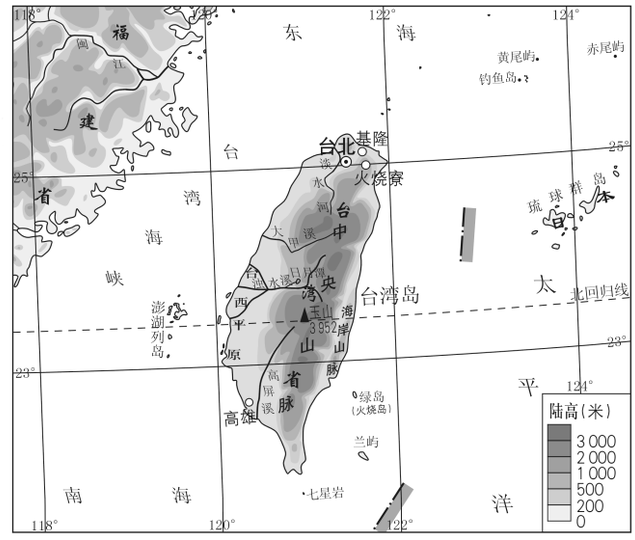

(1) 说出台湾省的地理位置。

(2) 简要说明台湾海峡地理位置的重要性。

11. 阅读图文材料，回答问题。

1979 年国家首先选择珠江三角洲设立经济特区，1990 年国家决定开发浦东新区，2017 年国家决定设立又一具有全国意义的雄安新区。下图示意珠江三角洲、浦东新区、雄安新区的位置。

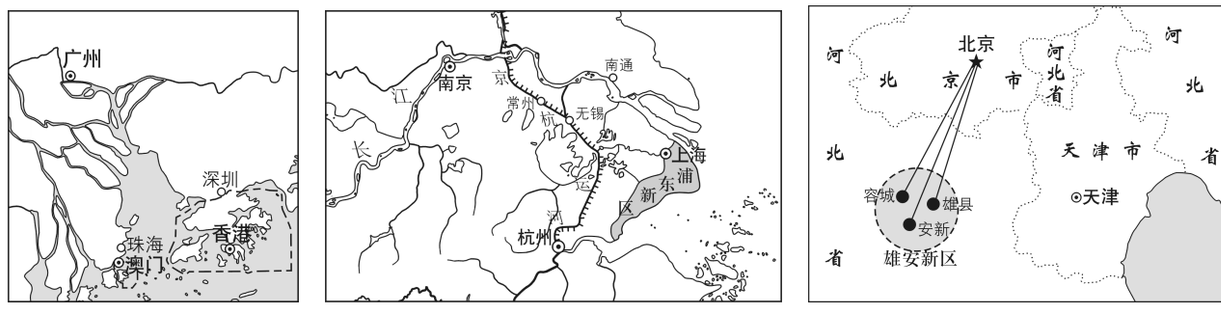

(1) 国家首先选择珠江三角洲建立经济特区，主要是因为其临近港澳。初期珠江三角洲与香港优势互补、合作共赢，形成了“_____”的合作模式。

将下列序号填入图中括号：①资金　②土地　③劳动力　④外贸窗口　⑤技术、管理、设备　⑥资源

珠江三角洲 ⇄ 香港和澳门

优势（　　）

（　　）优势

随着经济的发展，如今粤港地区形成了新的合作模式，香港重点发展服务业，珠江三角洲地区重点发展制造业，内地成为了“世界工厂”。

(2) 为积极参与全球分工，国家发展浦东新区。浦东新区的优势在于依托全国最大的经济中心上海，且濒临____海，海陆空交通发达，建成后将成为为国际经济、金融、贸易、航运中心，这必将对_____流域乃至全国都有_____作用。

（3）雄安新区距离北京约100千米，以疏解北京非首都功能区和推动京津冀区域协同发展为重点。按此规划，将从北京搬迁进入雄安新区的是_____（选填序号：①党的中央机构、②国务院、③部分高等院校、④跨国公司总部），作为古城标志的明清皇宫——_____依然会保留在原地。

（4）从20世纪80年代至21世纪初，珠江三角洲、浦东新区、雄安新区的建立，以及西部大开发、中部崛起和_____振兴战略等，反映了不同时期国家发展的需求，必将推动区域协调发展和平衡发展。

12. 阅读图文材料，回答问题。

2019年4月29日至10月7日，北京世界园艺博览会在北京市延庆区举行，展期162天。延庆区素有“夏都”之称，是北京人的避暑胜地，同时也是北京市太阳能和风能资源最丰富的地区。下图示意延庆区及周边地图和延庆区人口分布及其在北京市的位置。

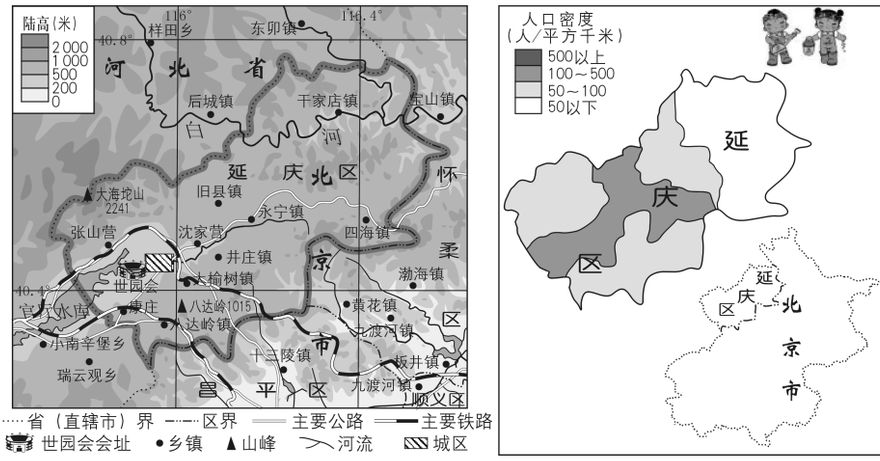

（1）分析北京市举办世界园艺博览会的优势条件。

（2）从延庆区是北京市的“夏都”“太阳能资源最丰富的地区”“风能资源最丰富的地区”的说法中，任选其一解释其与自然环境的关系。

第八章　省内区域

单元导航

本章概要

这一章内容是在学习了我国的疆域和人口、自然环境、自然资源、经济发展的总体状况、地域差异，以及四个省际区域和五个省级行政区域的地理特点、差异的基础上来组织的。本章的重点是认识省内区域的特点。

第一节是“西双版纳——晶莹透亮的‘绿宝石’”，通过动植物王国、旅游胜地突出了西双版纳的特色。第二节“河西走廊——沟通东西方的交通要道”，从古今交通要道、灌溉农业和脆弱的生态环境介绍了河西走廊的特点。

知识总览

节	目标要求	活动建议
西双版纳——晶莹透亮的“绿宝石”	举例说明区域内自然地理要素的相互作用和相互影响。 根据有关资料，说出支柱产业对区域经济发展的带动作用。 举例说明区域环境和区域发展对生活方式和生活质量的影响。	观看我国有关区域地理景观特色的影像资料。 召开地理专题讨论会，对某一专题进行讨论。
河西走廊——沟通东西方的交通要道	运用地图说出区域的位置与范围，并对区域地理位置作出简要评价。 以某区域为例，说明我国西部开发的地理条件以及保护生态环境的重要性。	收集一个地区的专题地图，例如地形图、政区图、旅游图等，讨论这个地区的区域地理特征。 收集区域地理资料，并对资料进行筛选和分类，在此基础上归纳总结区域的基本地理特征，并与相关地区进行比较。

8.1 西双版纳——晶莹透亮的“绿宝石”

板块一 创设问题，引领目标

问题导学，明确目标

风景优美的西双版纳能吸引国内外游客的原因是什么？

板块二 自学思疑，初探问题

自主学习，亲身感悟

自学提示

阅读教材，关注下列核心词语。

动植物王国　西双版纳　旅游胜地　旅游业

问题呈现

阅读教材，思考下列问题。

1. 西双版纳位于我国哪个省？

2. 西双版纳生活着十多个少数民族，哪一个少数民族最著名？

3. 西双版纳主要的旅游资源有哪些？

4. 傣族有哪些独特的文化习俗？

基础自测

1. 下列图片所示的传统民居中，属于西双版纳的是 (　　)

A

B

C

D

2. 西双版纳主要的气候类型是 (　　)

A. 热带雨林气候　　B. 热带季风气候

C. 亚热带季风气候　　D. 高山气候

3. 除海南省外，我国原始热带雨林保存最为完整的省级行政区域是 (　　)

A. 云南省　　B. 四川省　　C. 台湾省　　D. 广东省

4. 下列少数民族中，位于西双版纳自治州的是 (　　)

A. 傣族、维吾尔族　　B. 傣族、哈尼族

C. 傣族、朝鲜族　　D. 傣族、满族

板块三　合作探究，共析问题

主动合作，协同探究

与图对话

1. 阅读教材图 8.1、图 8.2，分析西双版纳的地理位置及其优越性。

(1) 描述西双版纳的地理位置。

(2) 说明西双版纳地理位置的优越性。

2. 阅读教材图 8.3，分析西双版纳的气候特点及其对当地植被的影响。

(1) 描述西双版纳的气候特点。

(2) 简述西双版纳的气候特点对当地植被的影响。

3. 阅读教材图 8.4、图 8.5，认识西双版纳的动植物资源。

(1) 列举西双版纳的珍稀动物。

(2) 列举西双版纳的热带植物。

（3）分析西双版纳成为祖国“绿宝石”的原因。

4. 阅读教材图 8.6，了解西双版纳蓬勃发展的旅游业。

（1）列举西双版纳著名的旅游景点和线路，并分析这些景点及线路开发所依托的有利条件。

（2）分析西双版纳与相邻国家的交通状况。

（3）西双版纳先后开辟了多条州内、边境旅游的精品线路，分析这种规划对西双版纳旅游业发展的好处。

活动探究

阅读图文材料，回答问题。

《人说山西好风光》是一首脍炙人口的山西民歌。有人提出山西应该把旅游业作为重要突破口，加快转型跨越发展的步伐，使山西成为中国著名并具有国际影响力的旅游目的地。

大同云冈石窟

王莽岭日出

你认为这个建议可行吗？请说明理由。

板块四　展示交流，巩固训练

精选精展，精选精练

精题展示

【精题一】 傣族聚居在云南省南部，住竹楼，着短衣长裙。这是因为要适应（　　）

A. 炎热气候　　B. 干旱气候　　C. 地表崎岖　　D. 多雨气候

思路点拨：西双版纳属热带季风气候，雨季降水多，闷热潮湿，住竹楼、着短衣长裙是为了通风散热，适应当地的气候。

答案提示：A

【精题二】 下列自然条件中，有利于西双版纳成为“热带动物王国”的是 （　　）

A. 地处 23.5°N 附近，纬度位置适宜

B. 高低错落、层次繁多的雨林有利于大型动物隐蔽

C. 地处我国西南边陲，为主要少数民族聚居区之一

D. 气候终年高温，长夏无冬

思路点拨：西双版纳属温暖湿润的热带季风气候，有保存完好的热带雨林。热带雨林是动物良好的隐蔽场所，同时为生物提供了充足的食物来源。

答案提示：B

巩固训练

西双版纳是祖国大地上一块屈指可数的绿色宝地，境内保存完好的热带雨林生态系统举世闻名。完成 1、2 题。

1. 关于西双版纳地理位置的叙述，正确的是 （　　）

A. 西双版纳位于西南边陲的云南省南部　　B. 西双版纳地处横断山脉的中部

C. 西双版纳南部和老挝、越南接壤　　D. 北回归线经过西双版纳地区

2. 西双版纳植物种类繁多，素有“植物王国”之称，这些植物构成了 （　　）

A. 亚热带常绿阔叶林景观　　B. 高山植物垂直变化景观

C. 热带雨林景观　　D. 温带落叶阔叶林景观

3. 澜沧江流出中国国境后被称为 （　　）

A. 湄南河　　B. 红河　　C. 湄公河　　D. 怒江

4. 西双版纳的重要支柱产业是 （　　）

A. 商业　　B. 农业　　C. 旅游业　　D. 轻工业

5. 阅读图文材料，回答问题。

材料一 中国地震台网正式测定：2014 年 10 月 7 日 21 时 49 分，在云南省普洱市景谷傣族彝族自治县（北纬 23.4°，东经 100.5°）发生 6.6 级地震，震源深度 5 千米。国务院迅速布置各项救灾工作，救灾款物陆续抵达。

材料二 相关地区位置示意图。

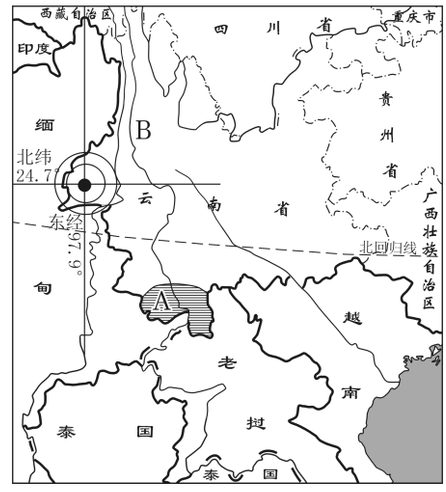

（1）地震发生区位于_____火山地震带上。地震发生区受_____板块和_____板块的影响，地震活动频繁。

（2）正在北京参加全国“两会”的云南省省委书记应乘_____（交通工具）赶赴地震灾区，指导当地的抗震救灾工作。

（3）图示阴影部分 A 是_____地区，它地处_____山脉最南端，流经该区域的河流 B 是_____。

（4）试从地理位置、自然景观、民族风情三个方面分析 A 地区的旅游优势。

板块五　知识构建，核心问题

归纳总结，关键问题

1. 动植物王国

位置	相对位置	云南省境内，与缅甸、老挝等国为邻
	纬度位置	北回归线以南，属热带地区
	海陆位置	我国西南部，离太平洋和印度洋距离较近
气候		热带季风气候，全年气温高，降水丰富
代表性的动植物		长臂猿、孔雀、亚洲象、蜂猴、望天树、铁树、榕树、板根树

2. 旅游胜地

发展优势——旅游资源丰富	自然	热带雨林景观，素有“热带动物王国”之称
	人文	以傣族为主体的多样性民族风情
存在问题及解决措施	问题	旅游景点分散，规模较小；旅游接待能力较低，以国内游客为主；生态环境压力较大
	措施	整合景点资源，提高景点的组合性、集群性；加强基础设施建设，提高接待能力，加强宣传力度；科学合理地利用和保护旅游资源，走可持续发展道路

8.2 河西走廊——沟通东西方的交通要道

板块一 创设问题，引领目标

问题导学，明确目标

这是一段无论用多精彩的文字都难以详述的历史；/这是一个无论用多长时间都不能讲完的故事；/记忆中几百年前的荒芜犹存，/来自一个世纪前的伤痕宛在。/风，从千年戈壁吹过；/梦，从净土天国洒落；/穿过这片充满传奇又无比脆弱的土地，/一群怀揣梦想又激情昂扬的人们慢慢求索着……

请说出穿过河西走廊的铁路和你所知道的位于河西走廊的城市名称。

板块二 自学思疑，初探问题

自主学习，亲身感悟

自学提示

阅读教材，关注下列核心词语。

丝绸之路　交通要道　灌溉农业　绿洲　脆弱　生态环境

问题呈现

阅读教材，思考下列问题。

1. 河西走廊的名称是如何得来的？

2. 祁连山的位置在哪里？

3. 河西走廊绿洲上的主要农作物有哪些？

4. 说明河西走廊绿洲的分布与人口、城市分布的关系。

基础自测

1. 河西走廊地区的灌溉水源主要来自　（　　）

A. 黄河水　　B. 祁连山冰雪融水

C. 湖泊水　　D. 长江水

2. 河西走廊地区的气候特点是 （　　）

A. 四季如春　　B. 降水稀少，气候干旱

C. 长夏无冬　　D. 降水丰沛，气候湿润

3. 河西走廊的主要农业类型属于 （　　）

A. 种植园农业　　B. 灌溉农业

C. 水田农业　　D. 乳畜业

4. 河西走廊主要的生态问题是 （　　）

A. 气候严寒　　B. 水资源短缺，沙尘天气多

C. 旅游资源破坏严重　　D. 气候炎热潮湿

板块三　合作探究，共析问题

主动合作，协同探究

与图对话

1. 阅读教材图 8.7、图 8.8，分析河西走廊的地理位置及其重要性。

（1）描述河西走廊的地理位置。

（2）简述河西走廊地理位置的重要性。

2. 阅读教材图 8.9～图 8.11，分析河西走廊绿洲的分布特点。

（1）说出当地主要河流的名称，判断这些河流属于内流河还是外流河。

（2）分析绿洲分布与河流的关系，归纳本区绿洲和城镇的分布特点。

3. 阅读教材图 8.12，想一想，人们应该如何保护绿洲。

（1）分析导致河西走廊绿洲面积不断缩小的人为原因。

（2）探究保护河西走廊生态环境的措施和意义。

活动探究

1. 河西走廊的环境特点对人口和城市分布以及农业生产会产生怎样的影响？

2. 阅读教材图 8.2、图 8.8 和地图册中的云南省图、甘肃省图，结合所学知识，归纳比较西双版纳和河西走廊的地理差异，完成下表内容。

	西双版纳	河西走廊
地理位置		中国甘肃省西北部的狭长平地。在祁连山以北，马鬃山、合黎山、龙首山以南，东起乌鞘岭，西至古玉门关
地形	处于横断山脉南端	
气候（类型、温度带、干湿地区）		属温带大陆性气候，是干旱地区
河流	外流河，以降水补给为主	
民族		有汉、蒙古、藏、裕固、哈萨克、回、满等民族，以汉族为主

板块四　展示交流，巩固训练

精选精展，精选精练

精题展示

【精题一】　河西走廊气候干旱的原因是　（　　）

A. 海拔高　　B. 深居内陆，山岭阻隔海洋水汽输送

C. 太阳照射强烈　　D. 纬度高

思路点拨：河西走廊深居内陆，距海远，加上山脉的阻挡，夏季风难以进入，降水少，干旱地区面积大。

答案提示：B

【精题二】　河西走廊的绿洲农业，由于过度开垦，造成的主要影响是　（　　）

A. 水源严重不足　　B. 土壤沙化、盐碱化

C. 水土流失　　D. 地面塌陷

思路点拨：河西走廊位于西部内陆地区，地表干旱，由于过度开垦，导致土地退化，表现最明显的是土壤沙化和盐碱化。

答案提示：B

巩固训练

1. 河西走廊两侧相邻的省区是 （　　）

A. 青海省、内蒙古自治区　　B. 宁夏回族自治区、陕西省

C. 青海省、西藏自治区　　D. 新疆维吾尔自治区、内蒙古自治区

2. 限制河西走廊地区发展的主要因素是 （　　）

A. 矿产资源　　B. 旅游资源

C. 水资源　　D. 能源资源

3. 河西走廊的农田多集中在山麓绿洲，其主要原因是 （　　）

A. 地形平坦　　B. 气候较冷

C. 土壤肥沃　　D. 灌溉水源充足

4. 河西走廊地区生态环境的保护非常重要，下面措施合理的是 （　　）

A. 大量开垦绿洲　　B. 大量引水灌溉

C. 过度开垦　　D. 修建防风固沙工程

5. 阅读图文材料，回答问题。

材料一　河西走廊土地构成中，绿洲所占比例小，其余为荒漠、戈壁等难以利用的土地，且气候干旱，植被稀少，多风沙，再加上当地人们过度放牧、乱砍滥伐等不合理的开发利用行为，使得河西走廊沙尘天气频发，河西走廊绿洲面积不断缩小。人们可从控制人口数量、发展节水农业、因地制宜积极植树种草、涵养水源、防风固沙等方面来保护河西走廊的生态环境，这对当地经济的可持续发展具有重要意义。

材料二　下图为民勤沙尘暴。

材料三　河西走廊绿洲分布图。

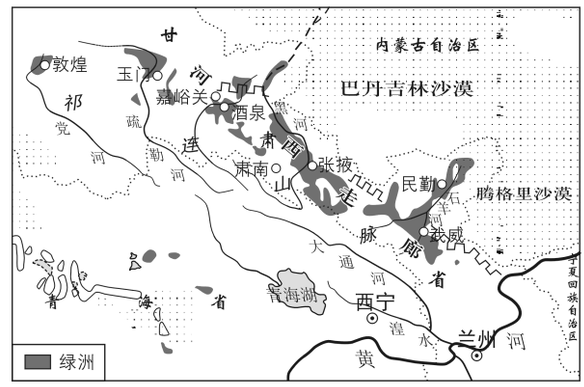

（1）说出绿洲分布与河流的关系，归纳本区绿洲和城镇的分布特点。

（2）分析产生沙尘暴的自然原因和人为原因。

（3）分析导致河西走廊绿洲面积不断缩小的人为原因。

（4）就河西走廊地区的生态环境提出合理性建议。

板块五　知识构建，核心问题

归纳总结，关键问题

1. 古今交通要道

古代："丝绸之路"的咽喉要道；

现在：两洲两洋的"黄金走廊"。

2. 自然环境与生产、生活

河西走廊降水稀少，水资源短缺，地表以荒漠和半荒漠为主。祁连山的冰雪融水成为本区内流河的主要水源补给来源。冰雪融水和河流对河西走廊绿洲的形成、人口分布以及城镇的兴起与发展起着巨大的作用。

3. 保护河西走廊地区的生态环境

控制人口数量；发展节水农业；因地制宜，积极植树种草；涵养水源、防风固沙等。

第八章测评

一、单项选择题

1. 西双版纳所属的省区是下列轮廓图中的 （　　）

A　　B　　C　　D

2. 下列四幅图中属于西双版纳民族风情的是 （　　）

A　　B　　C　　D

3. 张华一家去西双版纳旅游，他们不可能遇到的是 （　　）
   A. 亚洲象、绿孔雀等可爱的动物
   B. 高大挺拔的望天树和板状根等植物景观
   C. 富有民族特色的孔雀舞和象脚鼓舞
   D. 热闹非凡的那达慕大会
4. 结合西双版纳的地理位置，分析西双版纳除发展旅游业外，还适合发展 （　　）
   A. 边境贸易　　B. 绿洲农业
   C. 高科技产业　　D. 钢铁工业
5. 西双版纳和河西走廊的气候类型分别属 （　　）
   A. 热带雨林气候和温带季风气候　　B. 热带季风气候和温带大陆性气候
   C. 热带雨林气候和温带大陆性气候　　D. 热带季风气候和温带季风气候
6. 经过河西走廊的铁路干线主要是 （　　）
   A. 包兰线　　B. 兰新线
   C. 陇海线　　D. 青藏线
7. 河西走廊地区灌溉农业的水源主要来自 （　　）
   A. 祁连山　　B. 昆仑山
   C. 天山　　D. 合黎山
8. 河西走廊农业发展带来的主要生态问题是 （　　）
   A. 水土流失　　B. 土地荒漠化
   C. 土壤酸化　　D. 绿洲扩大

二、综合题

9. 读某省区示意图，回答问题。

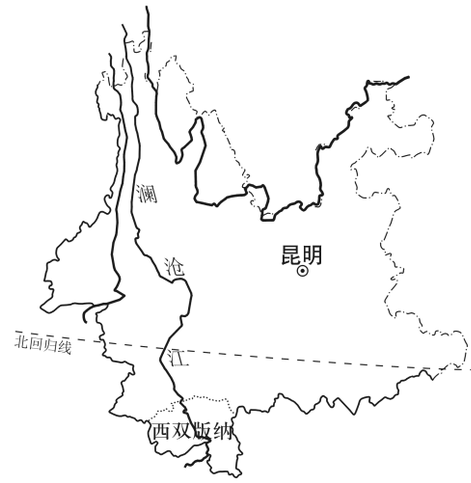

(1) 西双版纳位于_____省南部。

(2) 流经西双版纳的_____（填河流），流出我国后被称为湄公河。

(3) 西双版纳旅游资源丰富，旅游业是西双版纳重要的支柱产业，旅游业促进了当地经济的发展。

①写出两个西双版纳的热带雨林植物名称。

②写出两个西双版纳的热带雨林动物名称。

③写出两个西双版纳傣族的文化习俗。

10. 阅读材料，回答问题。

被称为“西北粮仓”的河西走廊，位于甘肃省西北部，自古就是通往西域的咽喉要道和战略要地，是著名“丝绸之路”的重要组成部分。这里水草丰美，物产丰富，是靠祁连山积雪和冰川融水的滋养、灌溉而“造就”的。

造成祁连山雪线上移、冰川退缩的原因有哪些？

综合测评

一、单项选择题

坎儿井是我国古代劳动人民创造的地下引水灌溉工程，长期为新疆绿洲居民所利用。读坎儿井结构示意图，完成1～3题。

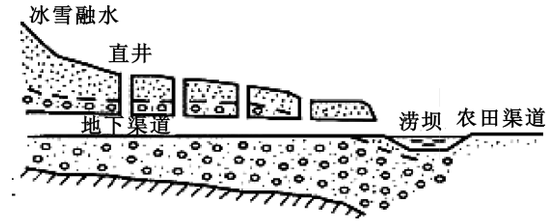

1. 坎儿井输水部分采用暗渠，主要是为了（　　）

A. 防止冬季封冻　　B. 减少水蒸发

C. 获取清洁水源　　D. 减少工程量

2. 下列农作物，在新疆绿洲上广泛种植的是（　　）

A. 葡萄　　B. 柑橘　　C. 青稞　　D. 甘蔗

3. 在绿洲上发展农业，必须十分注意防范（　　）

A. 水土流失　　B. 环境污染

C. 暴雨洪涝　　D. 土地沙漠化

4. 水稻、油菜、甘蔗等作物，主要产于我国的（　　）

A. 北方地区　　B. 南方地区

C. 西北地区　　D. 青藏地区

5. 制约西北地区农业生产的主要因素是（　　）

A. 地形条件　　B. 光照条件

C. 科技条件　　D. 水源条件

6. 黄土高原生态环境脆弱，其主要表现在（　　）

①多地震　②地形破碎　③自然灾害频繁　④环境破坏后难恢复　⑤多酸雨

A. ①②③　　B. ①②⑤　　C. ②③④　　D. ③④⑤

下面为1980年和2011年广东省珠江三角洲经济区人口分级图（注：图中标出地名的6市为中部地区，其东面的7个县市为东部地区，其西面的11个县市为西部地区）。读图，完成7、8题。

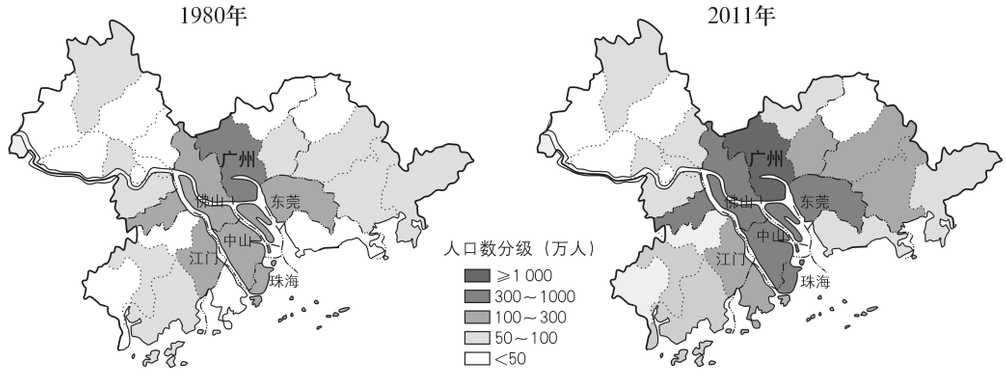

7. 关于珠江三角洲经济区 2011 年人口分布的叙述，正确的是 （　　）

A. 中部最密，东部最疏　　B. 西部最密，东部最疏

C. 西部最密，中部最疏　　D. 中部最密，西部最疏

8. 珠江三角洲中部地区人口级别提高快的原因是 （　　）

①经济水平高　②邻近港澳　③基础设施好　④自然增长率高

A. ①②③　　B. ①②④　　C. ②③④　　D. ①③④

湾区经济作为重要的滨海经济形态，是带动全球经济发展的重要增长极和引领技术变革的领头羊。世界著名的大湾区——粤港澳大湾区作为“一带一路”上的重要支点与连接点，发挥着国际金融中心、世界航运物流中心、商贸中心的作用，同时也是具有世界级影响力的制造中心、技术研发中心和企业孵化中心。完成 9、10 题。

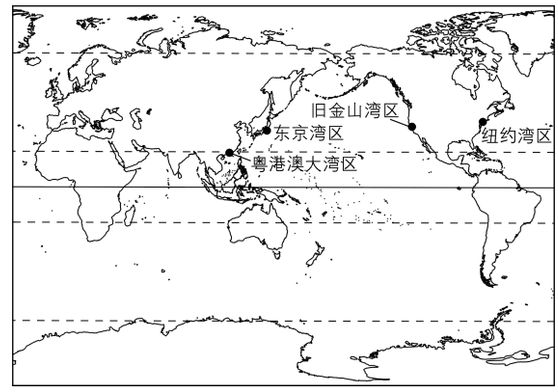

9. 关于世界四大湾区的叙述，正确的是 （　　）

A. 世界四大湾区都位于太平洋沿岸，有优良港湾，地理位置优越

B. 世界四大湾区中经济总量最小、面积最小、人口最少的是纽约湾区

C. 享誉世界的“电影城”好莱坞和世界第一个迪斯尼乐园都在旧金山湾区

D. 世界四大湾区中以进口原料，出口工业产品为主的是东京湾区

10. 粤港澳大湾区的建设，有利于 （　　）

①提高珠江三角洲地区的经济竞争力　②提高对外开放程度和国际地位　③加强粤港澳地区之间经贸合作　④改变香港和澳门的行政区级别　⑤增强竞争新优势，进一步推动区域科技产业新中心的形成

A. ①②③④　　B. ②③④⑤　　C. ①②③⑤　　D. ①②④⑤

二、综合题

11. 阅读图文材料，回答问题。

秦岭，与北美落基山、中欧阿尔卑斯山并称为世界三大著名的具有生物地理分界意义的山脉。广义上的秦岭长约 1600 千米，被尊为华夏文明的龙脉，主峰太白山海拔 3767 米，有诗描述它：“山巅常有雪不消，盛夏视之犹烂然”。秦岭动植物种类丰富，是中国重要的生物基因库。随着公众森林旅游需求的日趋多样化，长距离徒步穿越自然区域的需求快速增长，“秦岭森林步道”成为广大野外徒步爱好者的旅游胜地。

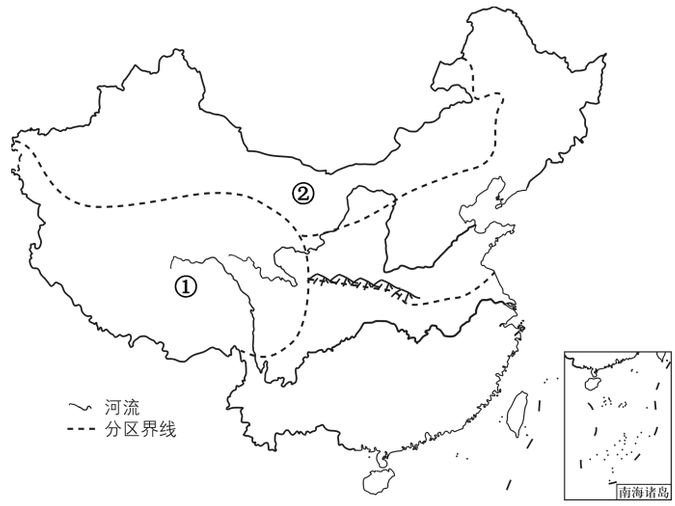

（1）四大地理分区中，①是_____地区。

（2）②地区突出的自然环境特征是_____。

（3）太白山山麓的太白县城海拔约 1567 米，夏季平均气温约 19℃。当县城气温为 15℃时，推算山顶的气温约为_____℃。

（4）写出秦岭在气温和降水方面的地理意义。

（5）冬季到“秦岭森林步道”徒步旅游，选择的不同于夏季的装备有哪些？

12. 读我国新疆维吾尔自治区和黄土高原区域简图，回答问题。

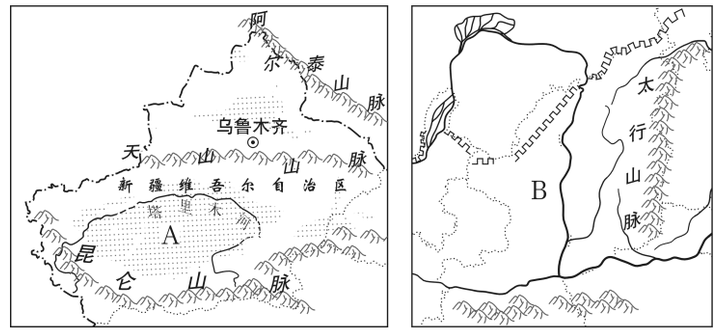

（1）图中 A 处是我国最大的_____盆地，该地区居住的少数民族以_____族为主。

（2）图中 A 省区灌溉农业发达，特色农产品有_____。为了农业灌溉，很早以前这里的人民就修建了一种叫“_____”的引水工程。

（3）图中 B 地区是我国古代文明的摇篮，这里有一种富有地方民俗特色的陕北民歌叫_____，其歌腔高亢而悠长，具有浓郁的“黄土风情”。

（4）图中 B 地区地表千沟万壑、支离破碎，是这里长期的水土流失造成的。试分析 B 地区水土流失严重的原因和治理措施。

13. 阅读图文资料，回答问题。

材料一 下图示意京、津、冀三地协同发展中的战略地位。

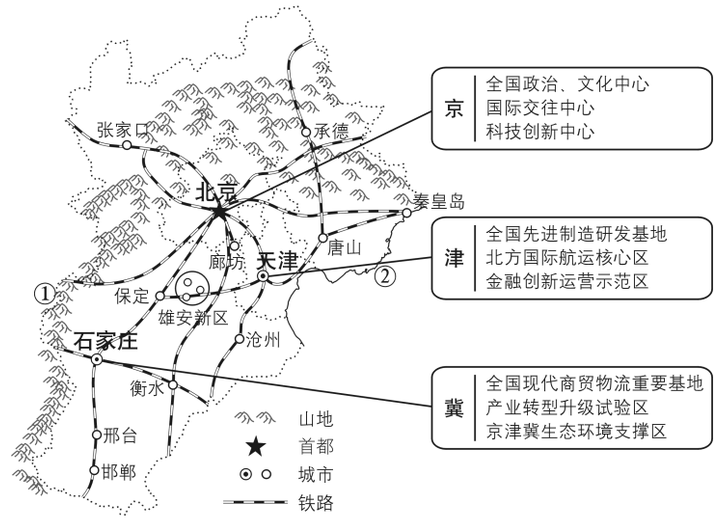

材料二 雄安新区距北京、天津很近，交通便利。生态环境优良，拥有华北地区最大的流水湖——白洋淀。新区承担着疏解北京的非首都功能，推进京津冀协同发展的重任。

(1) 写出图中序号所代表的地理事物名称。

①_____（山脉） ②_____（领海）

(2) 简述雄安新区在京津冀协同发展中的重要作用。

(3) 分析北京作为“科技创新中心”的优势条件。

(4) 从改善生态环境的角度，简述河北省山区和平原地区在农业发展中分别应采取的措施。

中考真题一

山西省（晋中）2019年中考试卷·地理

一、选择题（本大题共20个小题，每小题2分，共40分。在每小题的四个选项中，只有一项最符合题意）

麦哲伦船队环球航行的成功，证实了地球是个球体。在为归来的勇士们举行的褒奖仪式上，西班牙国王说："你们第一个拥抱了地球！"。读麦哲伦船队环球航行路线示意图（如右下图），完成1、2题。

1. 麦哲伦船队从西班牙出发环绕地球一圈，依次经过的大洋是（　　）

A. 太平洋—大西洋—印度洋
B. 大西洋—太平洋—印度洋
C. 印度洋—大西洋—太平洋
D. 大西洋—印度洋—太平洋

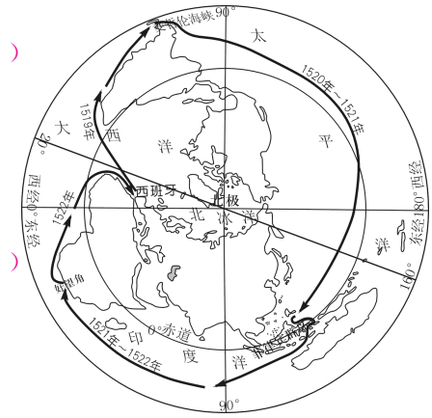

2. 从半球位置看，西班牙位于（　　）

A. 东半球、北半球
B. 西半球、南半球
C. 东半球、南半球
D. 西半球、北半球

2018年，山西省首届中学生地理研学旅行推进会在太原举行。会上，同学、老师和专家分享了研学旅行的收获，并展示了研学区域的等高线地形示意图（如下图所示）。完成3～5题。

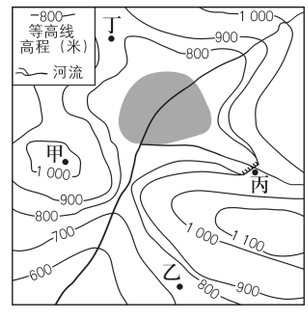

瀑布景观

3. 图中等高距是（　　）

A. 100毫米　　B. 100厘米
C. 100米　　D. 100千米

4. 图中甲、乙、丙、丁四地，可能出现瀑布的是（　　）

A. 甲　　B. 乙
C. 丙　　D. 丁

5. 图中阴影区域的地形类型是（　　）

A. 山地　　B. 丘陵
C. 高原　　D. 盆地

在建筑保温材料还没有普遍应用的时代，从大西洋沿岸向东至俄罗斯，欧洲传统民居的墙壁在厚度上有一定的变化规律。读欧洲墙壁厚度的变化示意图，完成6、7题。

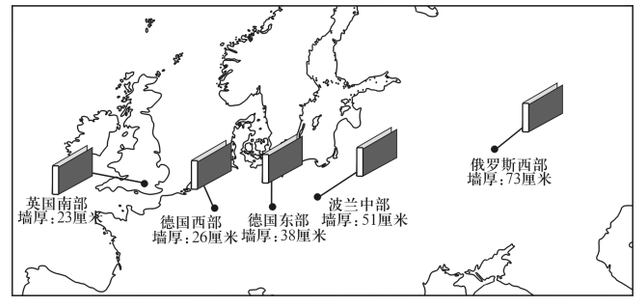

6. 从大西洋沿岸向东至俄罗斯，欧洲传统民居墙壁厚度的变化规律是 （　　）

A. 越来越厚　　B. 厚薄交替变化

C. 越来越薄　　D. 没有变化

7. 从大西洋沿岸向东至俄罗斯，墙壁厚度变化的主要气候原因是 （　　）

A. 降水逐渐增多　　B. 气温逐渐降低

C. 降水逐渐减少　　D. 气温逐渐升高

日本和英国都是岛国，分别位于亚欧大陆的东、西两侧，两国的工业都很发达，重要的工业城市和工业区大多分布在沿海地区。读日本和英国位置示意图，完成8、9题。

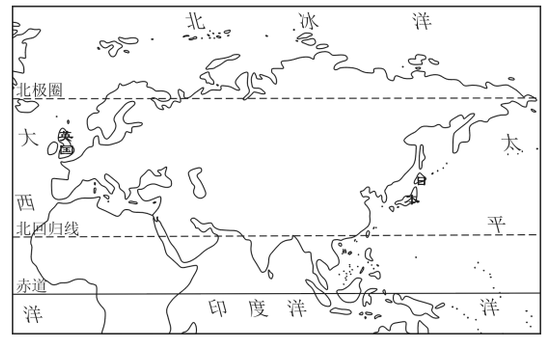

8. 与英国相比，日本多火山、地震的原因是 （　　）

A. 地处两大板块交界处　　B. 山地丘陵为主的地形

C. 雨热同期的季风气候　　D. 水力资源的过度开发

9. 两国的工业区大多分布在沿海地区的主要原因是 （　　）

A. 地形复杂，崎岖不平　　B. 工业原料、燃料资源丰富

C. 季风气候，降水较少　　D. 海岸线曲折，多优良港湾

儿歌“插艾叶，挂香囊；五彩线，手腕绑；吃粽子，蘸白糖；龙舟下水喜洋洋”既可以反映生活之趣，传承中华优秀传统文化，又蕴含着丰富的地理知识。读洞庭湖水系示意图，完成10～12题。

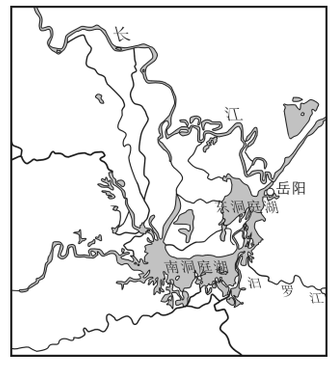

汨罗江国际龙舟节

10. 儿歌反映的中国传统节日是 （　　）

A. 元宵节　　B. 清明节　　C. 端午节　　D. 中秋节

11. 与此节日相关的汨罗江属于 （　　）

A. 黄河水系　　B. 淮河水系　　C. 长江水系　　D. 珠江水系

12. 在图示地区过节时，可在附近城市观赏到中国四大名楼之一的 （　　）

A. 山西鹳雀楼　　B. 江西滕王阁

C. 湖北黄鹤楼　　D. 湖南岳阳楼

2017 年，太原钢铁集团有限公司（太钢）研制生产出高性能、易切削、不开裂的笔尖专用钢。2018 年，太钢又成功研制出新一代环保型不锈钢笔头。这意味着，太钢啃下了自主生产笔尖钢这块“硬骨头”，为我国生产的数百亿支圆珠笔安上了“中国笔头”！完成 13、14 题。

13. “中国笔头”从自主研发到创新制造的主要影响因素是 （　　）

A. 丰富的自然资源　　B. 充足的劳动力

C. 先进的科学技术　　D. 有雄厚的资金

14. 以太钢等企业为龙头的山西经济在转型发展中应该 （　　）

A. 巩固以能源为主的重工业地位　　B. 坚持“一煤独大”的主导产业

C. 继续发挥传统经济的增长模式　　D. 发展高新技术引领的新兴产业

2019 年，北京世界园艺博览会的主题是“绿色生活　美丽家园”。“绿色生活”是以园艺为媒介，引领人们树立绿色、低碳、环保的生产生活理念；“美丽家园”就是要全面践行科学发展观，加快资源节约型和环境友好型建设。完成 15、16 题。

15. 下列生活中的行为，符合“绿色生活”理念的是 （　　）

A. 上学乘坐私家车　　B. 少用一次性物品

C. 同学互赠生日卡　　D. 购物多用塑料袋

16. 建设“美丽家园”，下列做法正确的是 （　　）

A. 旅游资源过度商业化　　B. 大力发展美丽乡村建设

C. 围湖造田，发展种植业　　D. 城市建设，重高楼轻绿地

自然资源是存在于自然界中，能为人类生产生活所利用的物质和能量。按性质可将自然资源分为可再生资源和非可再生资源。读中国土地利用类型比重示意图、中国与部分国家及世界人均耕地面积比较示意图，完成 17、18 题。



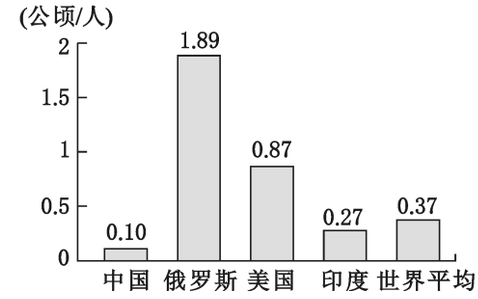

17. 下列自然资源属于可再生的是 （　　）

A. 煤炭、潮汐能　　B. 生物能、石油

C. 地热能、天然气　　D. 太阳能、土地

18. 我国土地资源的特点是 （　　）

A. 林地主要分布在西北地区　　B. 耕地比重小，人均耕地少

C. 土地利用类型的比重均衡　　D. 人均耕地面积居世界前列

聚落分为乡村和城市两种基本类型。随着经济发展速度的加快，越来越多的人口将在城市居住、生活和工作。读我国城乡人口数据示意图，完成 19、20 题。

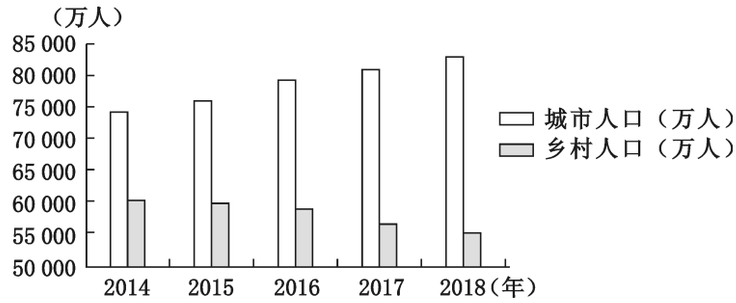

19. 我国城乡人口发展的趋势是 （　　）

A. 城市人口和乡村人口均呈上升趋势

B. 城市人口和乡村人口均呈下降趋势

C. 城市人口呈上升趋势，乡村人口呈下降趋势

D. 城市人口呈下降趋势，乡村人口呈上升趋势

20. 由此推测，我国城市聚落的规模可能会 （　　）

A. 越来越大　　B. 越来越小

C. 交替变化　　D. 没有变化

二、非选择题（本大题共 4 个小题，共 60 分）

21.（14 分）**【地理实验】**

实验名称　陆地与海洋的气温变化

实验目的　通过沙子和水的吸热、散热实验，了解陆地与海洋气温变化的特点。

实验用品　玻璃容器、温度计、沙子和水等。

实验资料　放置在露天的两个玻璃容器，分别盛入等体积的沙子和水（如下图）。认真观察早上、中午、傍晚，沙子和水的温度值变化。

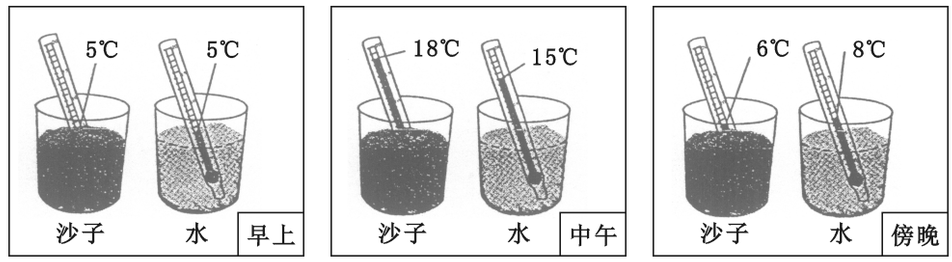

实验思考

（1）比较沙子和水，从早上到中午温度值的变化及温度变化的快慢。（4 分）

（2）比较沙子和水，从中午到傍晚温度值的变化及温度变化的快慢。（4 分）

（3）结合沙子和水的吸热、散热实验，推测陆地与海洋气温日变化的大小及其原因。（6 分）

22.（15 分）**【案例分析】**

案例名称　聚焦亚洲

案例资料

资料一　亚洲河流大多发源于中部的高原、山地，呈放射状向四周的平原、丘陵地区分流。亚洲气候复杂多样，东部和南部是世界上季风气候最典型的地区。

资料二　随着国际合作的日益增强，亚洲各国之间的联系与对话也日益频繁，如上海合作组织、东南亚国家联盟、亚太经济合作组织、博鳌亚洲论坛、亚洲文明对话大会等。各国之间的交流合作不仅体现在政治经济方面，还体现在文化生活等多个方面。中国倡导的“一带一路”更是在实现亚洲各国之间的互通互建、共同发展中起到极大推动作用。

资料三　亚洲地形、河流分布示意图和亚洲气候类型分布示意图。

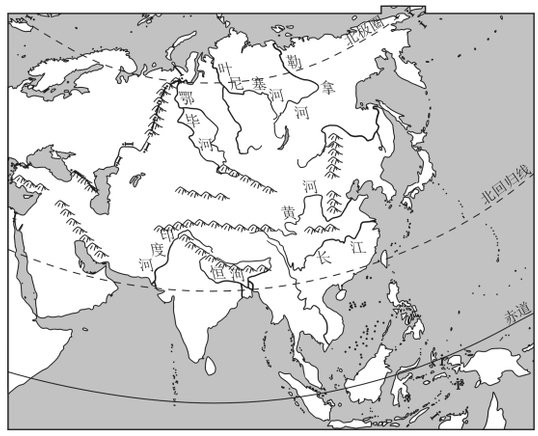

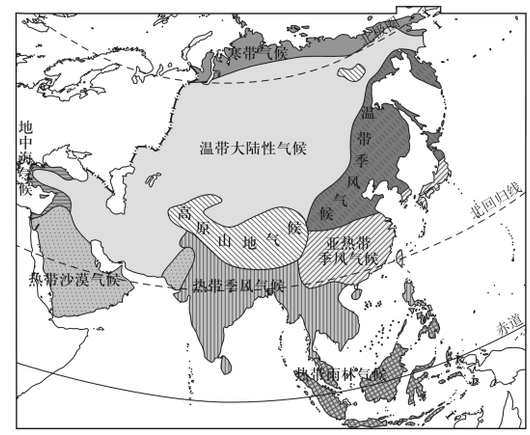

案例思考

（1）亚洲河流大多呈放射状向四周分流。阅读图文资料，请你从东、南、西、北任选三个方向，各举例说出一条河流的名称。（6 分）

（2）根据亚洲大多河流的流向特点，推测亚洲的地势特征。（4 分）

（3）阅读图文资料，说出亚洲分布有哪几种季风气候类型。（3 分）

（4）阅读资料二，列举两例亚洲各国之间交流合作的组织或会议。（2 分）

23.（15 分）**【研究性学习】**

课题名称 黄河金三角区域的合作发展

课题资料

资料一 黄河金三角区域位于黄河中游，地处我国中、西部交界地带，通华北、联西北、接中原，可以承东启西、贯通南北。2014 年，国务院批准《黄河金三角区域合作规划》，以探索省际交界地区合作发展的新路径，推动黄河金三角区域合作发展。

资料二 经过多年来的经济合作与社会、资源整合，黄河金三角区域三省四市正在形成一个日臻成熟的经济社会发展平台。2019 年 5 月，黄河金三角区域三省政府联合印发通知，提出加快基础设施互联互通，重点实施节点城市间高速公路、跨黄河通道项目。

资料三 黄河金三角区域示意图。

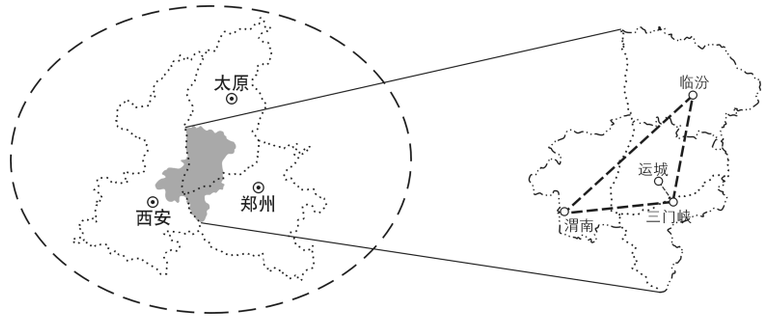

课题思考

（1）阅读图文资料，请你说出黄河金三角区域所指的三个省的简称以及隶属于我省的两个地级市。（7 分）

（2）阅读资料一，简要分析黄河金三角区域的地理位置优势。（4 分）

（3）阅读资料二，为进一步推动黄河金三角区域的合作发展，请你说出该区域采取的新举措。（4 分）

24.（16 分）**【探究发现】**

探究名称 民歌与地理环境

探究资料

资料一 民歌的产生与当地的地理环境有着密切的关系。我国幅员辽阔、复杂多样的地理背景，使各地的民歌异彩纷呈、风格多样，具有很强的地域性。

民歌一“人说山西好风光，地肥水美五谷香。左手一指太行山，右手一指是吕梁。站在那高处望一望，你看那汾河水哗啦啦流过我的小村旁……”

民歌二“花桥碧水湾，江堤柳丝长，微风轻吻荷塘，醉我江南水乡；竹篙轻轻点，小船入画廊，一曲丝竹小唱，醉我江南水乡……”

资料二 山西自古就有“表里山河”的称谓，山西民歌《人说山西好风光》更是家喻户晓，唱响全

国。2019 年 8 月，中华人民共和国第二届青年运动会（简称“二青会”）在山西省举办，此次盛会以“领跑新时代”为主题。会徽“山河”形象地展现了山西“表里山河”的自然特征。

资料三 中国四大地理区域示意图和中华人民共和国第二届青年运动会会徽“山河”。

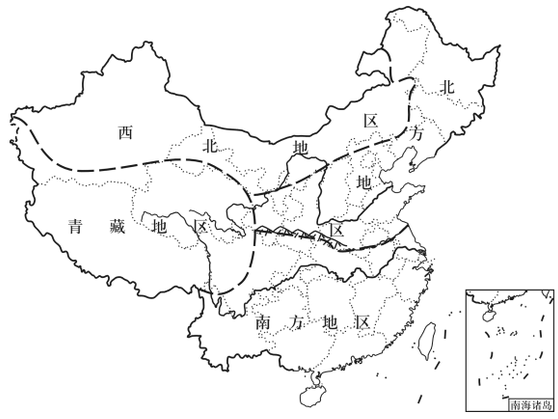

中华人民共和国第二届青年运动会会徽“山河”

探究思考

（1）阅读图文资料，推测两首民歌所反映的是中国四大地理区域的哪两大区域，并说出这两大区域的地理分界线。（6 分）

（2）阅读图文资料，说出山西“表里山河”所指的主要山脉和河流的名称。（6 分）

（3）开放的山西欢迎你。承办“二青会”是山西人的骄傲，请你为远道而来的朋友推荐山西著名的旅游景点。（至少四例，4 分）

中考真题二

山西省（阳泉）2019 年中考试卷·地理

一、选择题（本大题共 15 个小题，每小题 1 分，共 15 分。在每小题的四个选项中，只有一项最符合题意）

麦哲伦船队环球航行的成功，证实了地球是个球体。在为归来的勇士们举行的褒奖仪式上，西班牙国王说："你们第一个拥抱了地球！"。读麦哲伦船队环球航行路线示意图（如右下图），完成 1、2 题。

1. 麦哲伦船队从西班牙出发环绕地球一圈，依次经过的大洋是（　　）

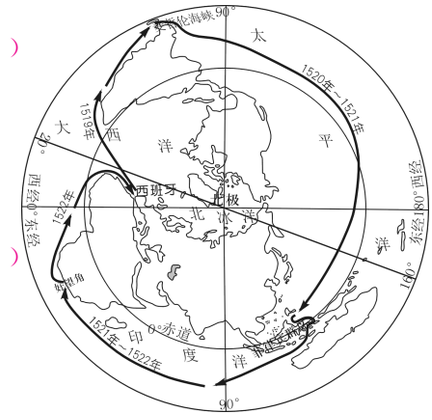

A. 太平洋—大西洋—印度洋
B. 大西洋—印度洋—太平洋
C. 印度洋—大西洋—太平洋
D. 大西洋—太平洋—印度洋

2. 从半球位置看，西班牙位于（　　）
A. 东半球、北半球
B. 西半球、南半球
C. 东半球、南半球
D. 西半球、北半球

2018 年，山西省首届中学生地理研学旅行推进会在太原举行。会上，同学、老师和专家分享了研学旅行的收获，并展示了研学区域的等高线地形示意图（如下图所示）。完成 3～5 题。

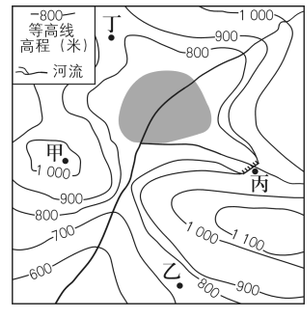

瀑布景观

3. 图中等高距是（　　）
A. 100 千米　　B. 100 米
C. 100 厘米　　D. 100 毫米

4. 图中甲、乙、丙、丁四地，可能出现瀑布的是（　　）
A. 甲　　B. 乙
C. 丙　　D. 丁

5. 图中阴影区域的地形类型是（　　）
A. 山地　　B. 盆地
C. 高原　　D. 丘陵

在建筑保温材料还没有普遍应用的时代，从大西洋沿岸向东至俄罗斯，欧洲传统民居的墙壁在厚度上有一定的变化规律。读欧洲墙壁厚度的变化示意图，完成 6、7 题。

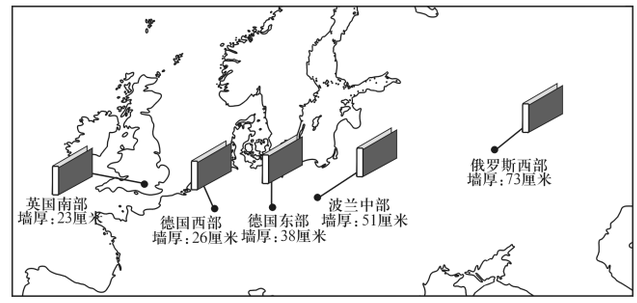

6. 从大西洋沿岸向东至俄罗斯，欧洲传统民居墙壁厚度的变化规律是 （　　）

A. 越来越薄　　B. 越来越厚

C. 没有变化　　D. 厚薄交替变化

7. 从大西洋沿岸向东至俄罗斯，墙壁厚度变化的主要气候原因是 （　　）

A. 气温逐渐升高　　B. 降水越来越少

C. 气温逐渐降低　　D. 降水越来越多

2019 年，北京世界园艺博览会的主题是“绿色生活　美丽家园”。“绿色生活”是以园艺为媒介，引领人们树立绿色、低碳、环保的生产生活理念；“美丽家园”就是要全面践行科学发展观，加快资源节约型和环境友好型建设。完成 8、9 题。

8. 下列生活中的行为，符合“绿色生活”理念的是 （　　）

A. 上学乘坐私家车　　B. 少用一次性物品

C. 同学互赠生日卡　　D. 购物多用塑料袋

9. 建设“美丽家园”，下列做法正确的是 （　　）

A. 旅游资源过度商业化　　B. 大力发展美丽乡村建设

C. 围湖造田，发展种植业　　D. 城市建设，重高楼轻绿地

日本和英国都是岛国，分别位于亚欧大陆的东、西两侧，两国的工业都很发达，重要的工业城市和工业区大多分布在沿海地区。读日本和英国位置示意图，完成 10、11 题。

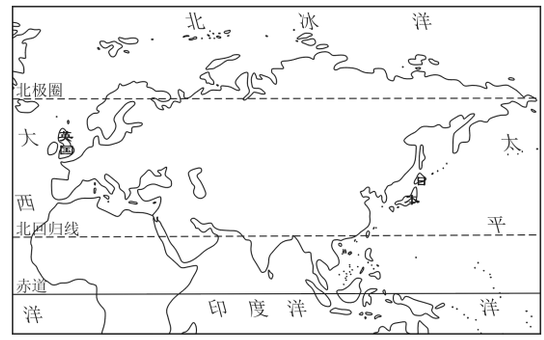

10. 与英国相比，日本多火山、地震的原因是 （　　）

A. 地处两大板块交界处　　B. 水力资源的过度开发

C. 雨热同期的季风气候　　D. 山地丘陵为主的地形

11. 两国的工业区大多分布在沿海地区的主要原因是 （　　）

A. 季风气候，降水较少　　B. 工业原料、燃料资源丰富

C. 地形复杂，崎岖不平　　D. 海岸线曲折，多优良港湾

儿歌“插艾叶，挂香囊；五彩线，手腕绑；吃粽子，蘸白糖；龙舟下水喜洋洋”既可以反映生活之趣，传承中华优秀传统文化，又蕴含着丰富的地理知识。读洞庭湖水系示意图，完成 12、13 题。

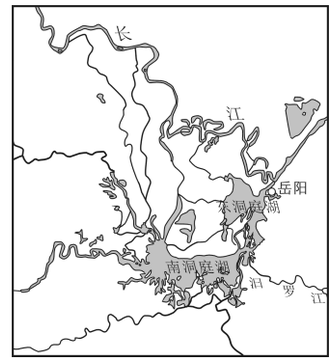

汨罗江国际龙舟节

12. 儿歌反映的中国传统节日是 （　　）

A. 元宵节　　B. 清明节

C. 端午节　　D. 中秋节

13. 在图示地区过节时，可在附近城市观赏到中国四大名楼之一的 （　　）

A. 山西鹳雀楼　　B. 湖南岳阳楼

C. 湖北黄鹤楼　　D. 江西滕王阁

2017 年，太原钢铁集团有限公司（太钢）研制生产出高性能、易切削、不开裂的笔尖专用钢。2018 年，太钢又成功研制出新一代环保型不锈钢笔头。这意味着，太钢啃下了自主生产笔尖钢这块“硬骨头”，为我国生产的数百亿支圆珠笔安上了“中国笔头”！完成 14、15 题。

14. “中国笔头”从自主研发到创新制造的主要影响因素是 （　　）

A. 丰富的自然资源　　B. 有雄厚的资金

C. 先进的科学技术　　D. 充足的劳动力

15. 以太钢等企业为龙头的山西经济在转型发展中应该 （　　）

A. 发展高新技术引领的新兴产业

B. 继续发挥传统经济的增长模式

C. 坚持“一煤独大”的主导产业

D. 巩固以能源为主的重工业地位

二、非选择题（本大题共 3 个小题，共 35 分）

16. （13 分）**【研究性学习】**

课题名称　地形图的判读

课题资料

资料一　在地图上，把海拔相同的各点连接成平滑的线称为等高线。用等高线表示地面高低起伏的地图称为等高线地形图。为了更加直观地显示某一方向上地面的起伏和坡度的陡缓，人们可以将等高线地形图转绘成地形剖面图。

资料二　中国沿 32°N 附近地形剖面示意图。

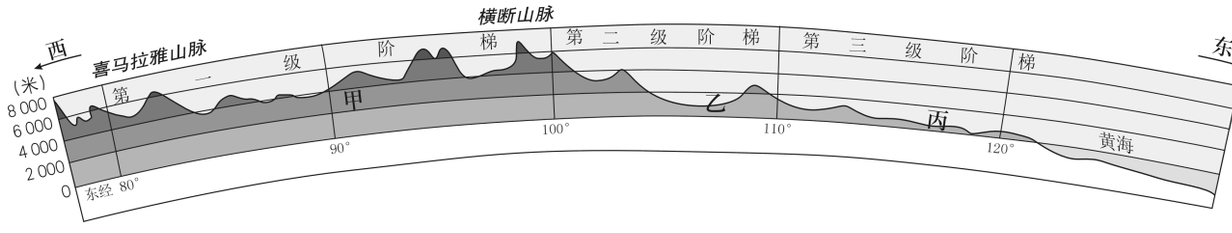

资料三 澳大利亚地形示意图。

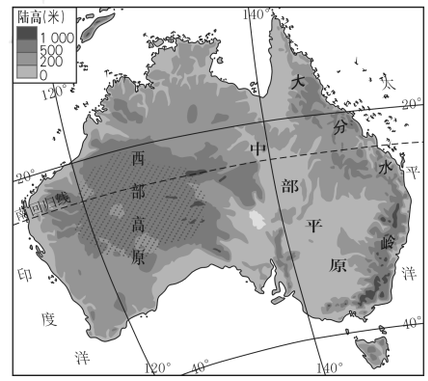

课题思考

（1）阅读资料二，说出此剖面图中甲、乙、丙三地所代表的地形区名称。（3 分）

（2）阅读资料三，说出澳大利亚主要地形类型的分布特点。（6 分）

（3）阅读图文资料，比较中国和澳大利亚地势高低起伏的不同特征。（4 分）

17.（10 分）**【地理实验】**

实验名称 降水的测量及分析

实验目的 通过降水量的测量实验，了解当地降水量的变化。

实验用品 雨量器、量筒或量杯等。

实验资料

资料一 降水量一般用雨量器来测量。测量时，雨量器要水平放置在相对开阔、较少受障碍物影响的地方，并准确记录降水开始和结束的时间；降水结束后，要及时把收集到的降水倒入量筒或量杯中，读出相应的刻度值（毫米）就是降水量。

资料二 北京多年平均降水量的由来。

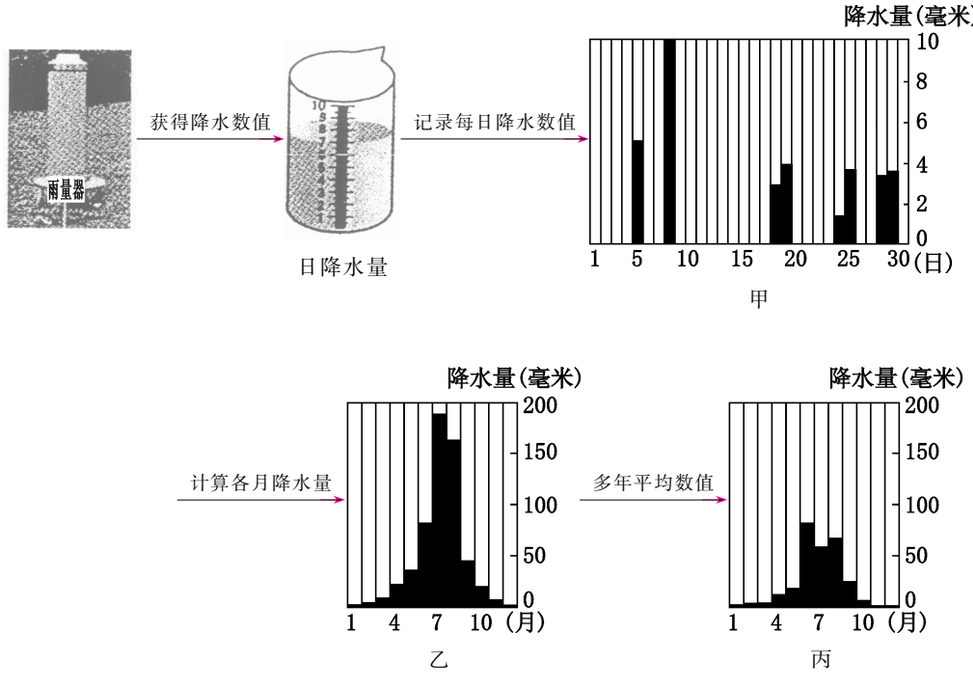

资料三 太原年降水量柱状示意图。

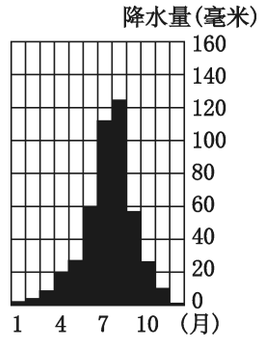

提示：
第一步，年降水量的季节分配是否均匀；
第二步，降水量较多的两个季节，降水量较少的两个季节。

实验思考

(1) 阅读资料一，说出降水量测量中的注意事项。(3 分)

(2) 阅读资料二，图中甲、乙、丙示意的是北京不同时段的降水量柱状图，请依据时段分别为甲、乙、丙图命名。(3 分)

(3) 阅读资料三，依据提示，说出太原年降水量的季节变化规律。(4 分)

18.（12 分）**【探究发现】**

探究名称 诗词、美食与地理环境

探究资料

资料一 《中国诗词大会》点燃国人对诗词的热情。《舌尖上的中国》记录我国不同地理环境下的饮食习惯。这些弘扬中华优秀传统文化的电视节目，内容中蕴含着丰富的地理知识。

资料二 诗词一“岱宗夫如何？齐鲁青未了。造化钟神秀，阴阳割昏晓。荡胸生曾云，决眦入归鸟。会当凌绝顶，一览众山小。”

诗词二“黄梅时节家家雨，青草池塘处处蛙。有约不来过夜半，闲敲棋子落灯花。”

“一方水土养一方人”。我国幅员辽阔，复杂多样的地理环境造就了各具特色的美食文化。如山西面食，国内外早有盛誉，“世界面食在中国，中国面食在山西”。

资料三 中国四大地理区域示意图。

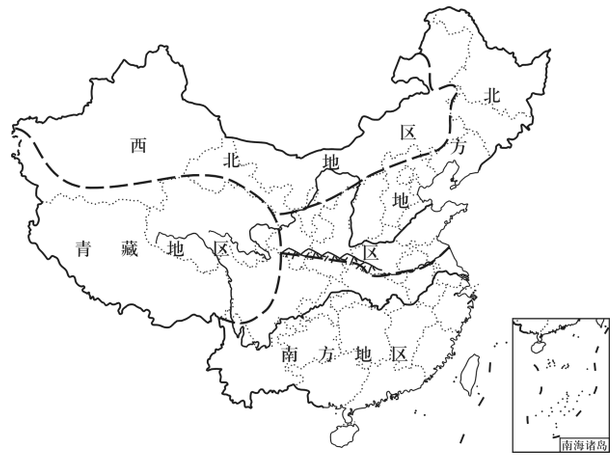

探究思考

（1）阅读图文资料，推测两首诗词所反映的是中国四大地理区域的哪两大区域。（4 分）

（2）说出北方地区和南方地区的地理分界线。（4 分）

（3）山西除面食外，还有许多享誉中外的传统美食或特产，请列举四例。（4 分）

中考真题三

广东省 2019 年中考试卷·地理

一、选择题（本大题共 30 个小题，每小题 2 分，共 60 分。在每小题的四个选项中，只有一项最符合题意）

2019 年 4 月，人类首张黑洞照片轰动世界。黑洞照片是由全球 8 个射电望远镜联合“拍摄”获得的，其中大功臣可以说是智利的 ALMA 望远镜。该望远镜所在地全年晴夜数可达 390 天左右，气流稳定、空气干燥、无光污染。读观测黑洞望远镜分布图，完成 1～3 题。

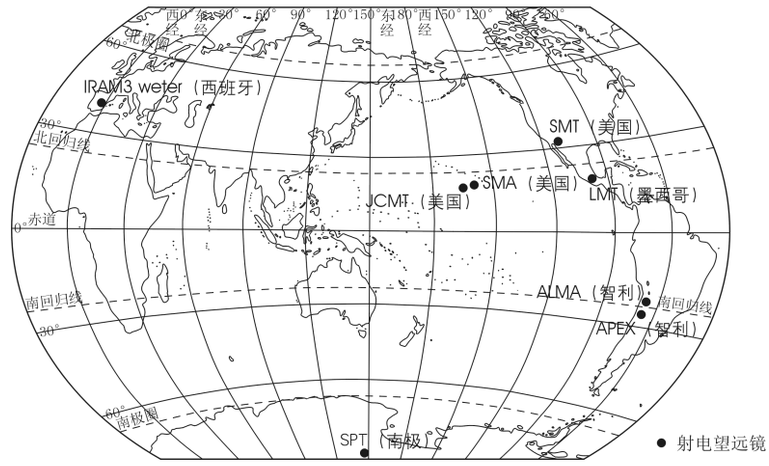

1. ALMA 望远镜的地理位置最接近 （　　）

A. 22°N，70°E　　B. 22°S，70°E　　C. 22°N，70°W　　D. 22°S，70°W

2. 智利的 ALMA 望远镜能成为“拍摄”黑洞照片的大功臣，与这里是_____有关。 （　　）

A. 地中海气候　　B. 热带沙漠气候

C. 温带海洋性气候　　D. 温带大陆性气候

3. 黑洞照片成功问世的意义有 （　　）

①证明了黑洞的存在　②宇宙中最后的秘密终于被揭开　③为人类找到了一个新的家园　④人类是一个命运共同体，需要互相合作

A. ①②　　B. ③④　　C. ①④　　D. ②③

龙井茶品种多样，其中杭州西湖产区的龙井茶品质被公认为是最好的。龙井村位于西湖产区，其茶园分布在 30°以上的坡地，且土壤呈酸性，富含某些微量元素，形成了茶树良好的生长条件。完成 4～6 题。

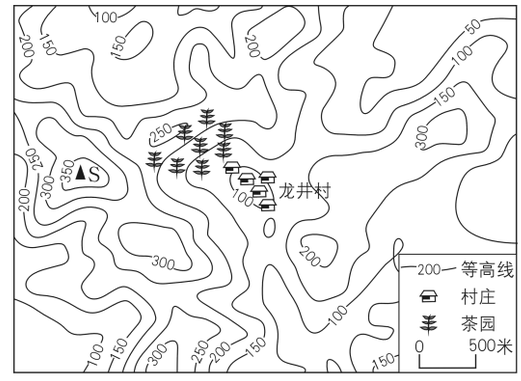

4. S山峰与龙井村相对高度最可能为 （　　）

A. 80米　　B. 180米　　C. 280米　　D. 380米

5. 图中茶园多分布在 （　　）

A. 平地　　B. 山顶　　C. 陡崖　　D. 坡地

6. 龙井村出产的龙井茶品质优良的主要原因是 （　　）

A. 历史悠久　　B. 制作工艺独特

C. 土壤富含某些微量元素　　D. 气候温和湿润

太阳能是可再生资源，已被广泛应用于生产、生活中。我国太阳能资源丰富，太阳能利用前景广阔。读中国太阳能分布示意图，完成7、8题。

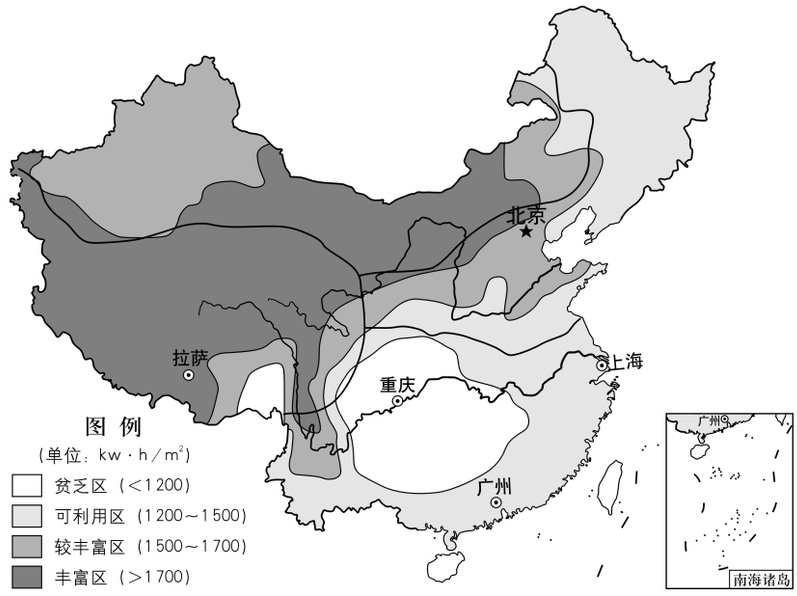

7. 关于我国太阳能分布的叙述，正确的是 （　　）

A. 青藏地区大部分属于太阳能丰富区　　B. 北方地区大部分属于太阳能贫乏区

C. 南方地区大部分属于太阳能较丰富区　　D. 西北地区大都分属于太阳能可利用区

8. 下列城市居民使用相同的太阳能热水器，效果最佳的是 （　　）

A. 广州　　B. 重庆　　C. 拉萨　　D. 上海

读拉丁美洲北部矿产资源分布图，完成9、10题。

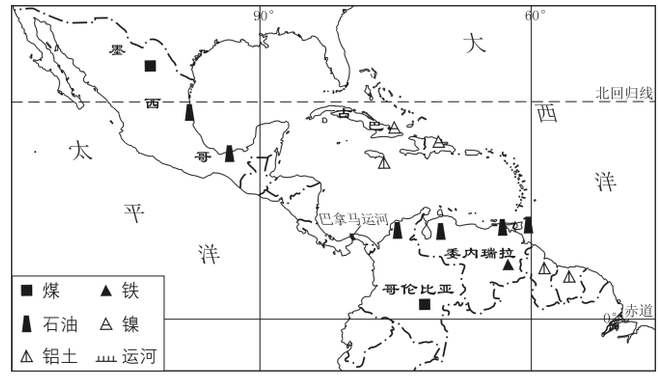

9. 据图分析，下列描述符合因地制宜发展经济的是 （　　）

A. 委内瑞拉发展石油工业　　B. 古巴发展煤炭工业

C. 哥伦比亚发展航天工业　　D. 墨西哥发展铝土采矿业

10. 关于巴拿马运河的叙述，正确的是 （　　）

A. 位于西半球、南半球　　B. 是拉丁美洲与北美洲的分界线

C. 沟通了太平洋与印度洋　　D. 是美国东西两岸海上运输的捷径

在贵州肇兴侗寨，有大面积的稻作梯田，梯田浸泡过冬，春季波光粼粼，稻鱼共生，金秋鱼肥稻香，景色宜人。在当地政府引导、企业扶持下已形成了“稻—鱼—游”生态旅游模式，走上了致富之路。完成 11、12 题。

11. 贵州肇兴侗寨的“稻—鱼—游”生态旅游模式，符合国家提倡的 （　　）

①全面实施乡村振兴战略　②建设生态宜居的美丽乡村　③发展乡村生态旅游产业　④加快农业实现专业化

A. ①②③　　B. ②③④　　C. ①③④　　D. ①②④

12. 肇兴侗寨的“稻—鱼—游”生态旅游模式发展的有利条件有 （　　）

①国家政策扶持　②平原广阔　③雨热充足　④侗乡民俗风情

A. ①②③　　B. ②③④　　C. ①③④　　D. ①②④

影响一个地区短时间内常住人口变化的因素有许多，其中最主要的是人口流动因素。读中国部分省市 2017—2018 年常住人口统计表，完成 13、14 题。

省份	2018 年常住人口（万）	2017 年常住人口（万）	增加数（万）	增加率
广东省	1 1346	11 169	177	1.58%
山东省	10 047	10 006	41	0.41%
浙江省	5737	5657	80	1.41%
辽宁省	4359	4375	−16	−0.37%
北京市	2154	2171	−17	−0.78%

13. 表中常住人口增长最快的省级行政区域的简称是 （　　）

A. 粤　　B. 鲁　　C. 浙　　D. 辽

14. 北京市常住人口负增长的主要原因是 （　　）

A. 人口出生率降低　　B. 人口死亡率降低

C. 分散城市职能　　D. 城市面积不断扩大

白俄罗斯民用轿车生产十分落后，基本依赖进口。2017 年中国 Z 公司在白俄罗斯首都明斯克建成了民用轿车组装 M 厂。M 厂根据当地气候特点对 Z 公司原有车型进行改造并销售，目前取得了较好的经济效益。读白俄罗斯位置示意图，完成 15、16 题。

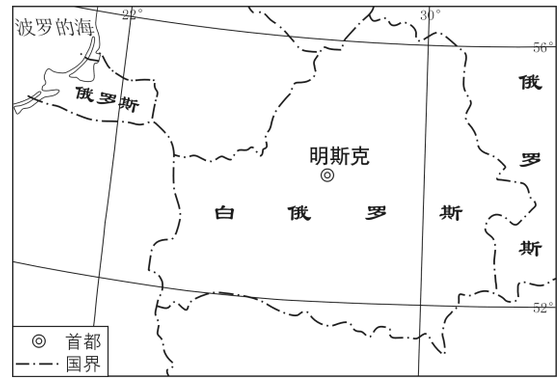

15. 中国 Z 公司选择在白俄罗斯投资建厂的主要原因是 （　　）

A. 白俄罗斯汽车工业基础好　　B. 开拓海外市场

C. 利用白俄罗斯的先进技术　　D. 原车型适合该地气候

16. M厂将俄罗斯作为重点推销市场的原因是 （　　）

①俄罗斯是邻国，产品运费低　②俄罗斯是大国，市场大　③两国气候条件相近，可用相同的车型　④俄罗斯国内不生产汽车

A. ①②③　　B. ②③④　　C. ①③④　　D. ①②④

河西走廊是我国“丝绸之路经济带”的要道，也是我国最大的玉米制种基地，被称为“种子繁育黄金走廊”。每年玉米收获后，戈壁滩成为天然晾晒场，晾晒使玉米种子在短时间内快速脱水干燥。读河西走廊示意图，完成17～19题。

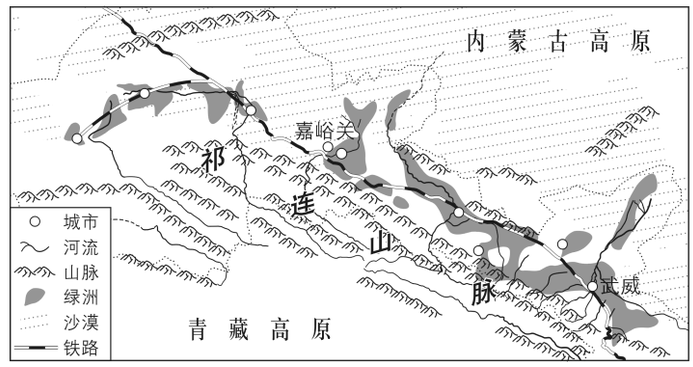

17. 该地成为“种子繁育黄金走廊”的有利条件是 （　　）

A. 海拔较高，气温较低　　B. 气候干燥，光照充足

C. 经济发达，科技先进　　D. 交通便利，离市场近

18. 该地发展农业生产的主要水源来自 （　　）

A. 祁连山的冰雪融水　　B. 内蒙古高原的地下水

C. 大气降水　　D. 引黄河水

19. 河西走廊是我国“丝绸之路经济带”的要道。对此描述正确的有 （　　）

①有亚欧大陆桥经过　②气候相对两侧湿润　③地形相对两侧低平　④绿洲农业发展基础好

A. ①②③　　B. ②③④　　C. ①②④　　D. ①③④

2019年4月2日，南沙大桥正式通车，这将进一步促进广州南沙自贸区的发展。南沙大桥是跨径世界第一的钢箱梁悬索桥，高出水面60米。读珠江三角洲公路路线示意图，完成20～22题。

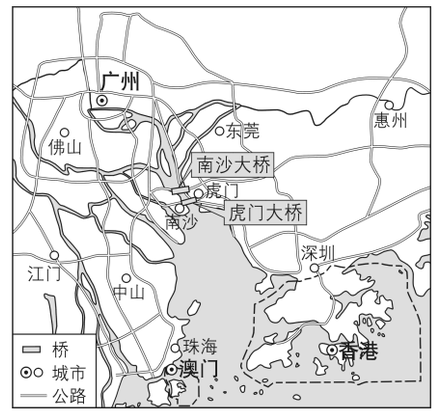

20. 南沙大桥连接的两个城市是 （　　）

A. 佛山与东莞　　B. 广州与东莞　　C. 珠海与东莞　　D. 广州与深圳

21. 大桥主跨距水面高度达60米。其主要目的是 （　　）

A. 便于大型船只通过　　B. 减少大风对桥身的影响

C. 降低海浪对桥身的影响　　D. 司机过桥视野广阔

22. 修建南沙大桥的意义有 （　　）

①缓解虎门大桥堵车的问题　②缩短深圳到中山的距离　③带动南沙自贸区的经济发展　④促进港澳地区的文化交流与合作

A. ①②　　B. ①③　　C. ②③　　D. ③④

肯尼亚山位于东非高原上，最高峰海拔5199米。从山麓到山顶，降水量发生有规律的变化。读非洲中部地形示意图、肯尼亚山剖面及沿线年降水量图，完成23、24题。

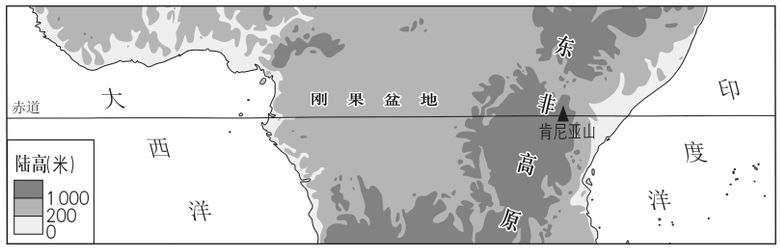

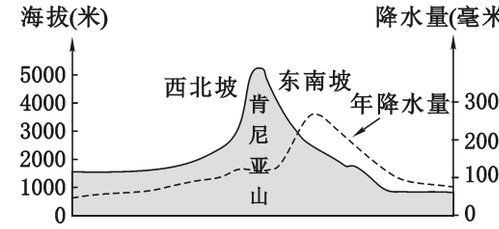

23. 关于非洲赤道地区地理环境的叙述，正确的是 （　　）

A. 地势西高东低　　B. 主要地形区有刚果盆地、东非高原

C. 降水量西少东多　　D. 气温东西变化不大

24. 肯尼亚山最大降水量出现在东南坡的海拔_____米处。 （　　）

A. 5000　　B. 3500　　C. 2500　　D. 1500

25. “蓝蓝的天上白云飘，白云下面马儿跑”，这是描写内蒙古高原的 （　　）

A. 茂密森林　　B. 辽阔牧场　　C. 广袤沙漠　　D. 连绵雪山

塔吉克斯坦大部分位于帕米尔高原上，境内山地和高原约占国土面积的90%，其中约一半在海拔3000米以上，该国拥有整个中亚地区60%的水资源。读塔吉克斯坦示意图，完成26、27题。

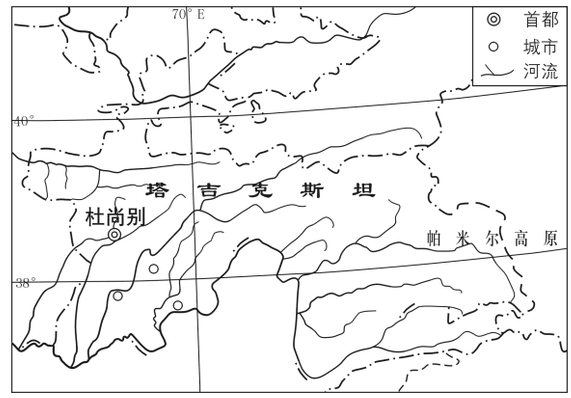

26. 关于塔吉克斯坦自然环境的叙述，正确的有 （　　）

①深居内陆　②地形以高原、山地为主　③境内有大量冰川分布　④气候湿润，年降水量大

A. ①②③　　B. ②③④　　C. ①③④　　D. ①②④

27. 塔吉克斯坦的城市集中分布在该国西南部。其主要原因是这里 （　　）

A. 纬度较低，阳光充足　　B. 地势较低，水源充足

C. 气候温和多雨　　D. 平原面积广大

2019年5月23日，我国时速600千米/小时的高速磁悬浮试验样车在青岛下线，这标志着我国在该技术领域实现重大突破。高速磁悬浮列车作为目前可实现的、速度最快的地面交通工具，它拥有“快起快停”的技术优点，也适用于中短途客运，可连接城市群内的相邻城市。完成28、29题。

28. 我国在高速磁悬浮技术领域的重大突破，主要得益于我国 （　　）

A. 高新技术产业的发展　　B. 新能源的利用

C. 新原料的发现　　D. 新市场的开拓

29. 高速磁悬浮列车的使用，带来的影响有 （　　）

①出行选择的多样化　②更好地满足经济发展的需要　③逐步代替高速公路　④促进城市群“同城化”

A. ①②③　　B. ②③④　　C. ①②④　　D. ①③④

30. 下列景观图片中，拍摄于广西桂林的是 （　　）

A

B

C

D

二、非选择题（本大题共 2 个小题，每小题 20 分，共 40 分）

31. 阅读图文材料，回答问题。

材料一　辽宁沿海经济带是环渤海地区的重要组成部分，是东北三省唯一的沿海区域。宜港海岸线 1000 千米，其中深水岸线 400 千米。沿岸拥有超过 2000 平方千米尚未开发的废弃盐田、盐碱地和荒滩，浅海区滩涂广阔。

材料二　根据全国海洋经济发展“十三五”计划，辽东半岛沿岸及海域的发展方向：一是重点拓展深水网箱等离养殖，支持工厂化循环水养殖，加强人工鱼礁和海洋牧场建设；二是重点推进东北亚国际海洋海岛旅游、海滨避暑度假旅游区建设，大力培育邮轮旅游发展，打造东北亚地区邮轮旅游基地等。

材料三　下图示意辽宁沿海经济带的位置。

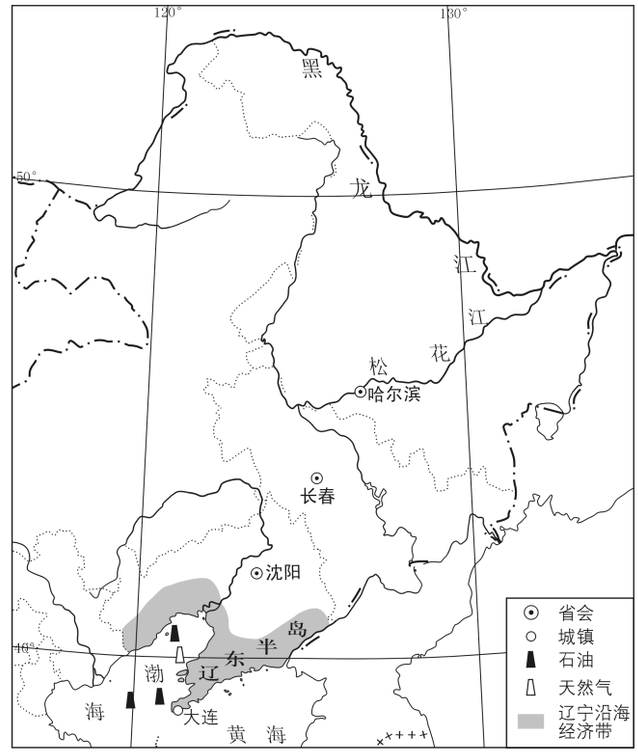

（1）辽宁沿海经济带主要分布在渤海沿岸和_____海沿岸。在我国沿海地区中，纬度较_____。

（2）大连港位于辽东半岛南端，它不仅是辽宁省的外贸中心，也是吉林省、_____省和_____自治区对外贸易的重要港口。

（3）试分析辽宁沿海经济带开发的有利条件。

（4）请为辽宁海洋经济发展提出至少三点建议，并简要说明理由。

32. 阅读图文材料，回答问题。

材料一 柑橘是世界种植面积最大的水果，北半球主要分布在北纬35°以南的区域，一般气温低于−8℃会冻伤，高于37℃则停止生长。

材料二 血橙是柑橘的一个品种。我国血橙主产区在四川省、江西省，一般12月上市。意大利西西里岛的血橙是世界上含维生素C最丰富的橙子，它一般2月初上市。首批进入中国市场的西西里血橙于2019年2月5日装箱，3月19日运抵中国。

材料三 下面是意大利示意图和西西里岛气温曲线与降水量柱状图。

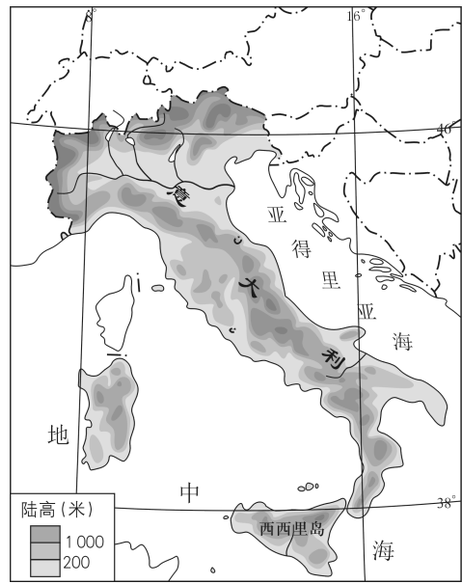

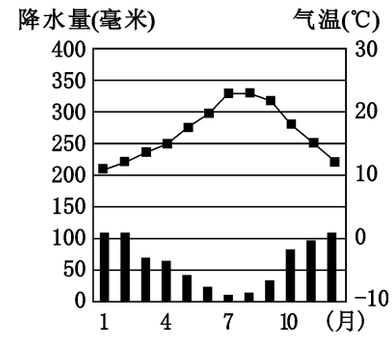

（1）西西里岛位于意大利南端的_____海之中，38°N穿过该岛的_____部。

（2）首批出口中国的西西里血橙采用的运输方式最有可能是_____，这种运输方式的优点是_____、_____。

（3）分析西西里岛与江西血橙树越冬条件有何不同。

（4）请简要列出西西里血橙进入中国市场的有利条件。

中考真题四

河南省2019年中考试卷·地理

一、选择题（本大题共20个小题，每小题2分，共40分。在每小题的四个选项中，只有一项最符合题意）

2019年5月8日，第十一届全国少数民族传统体育运动会火种采集仪式在郑州登封观星台举行。图1为地球公转示意图，图2为“独竹漂”示意图，图3为我国四大地理区域示意图。读图，完成1、2题。

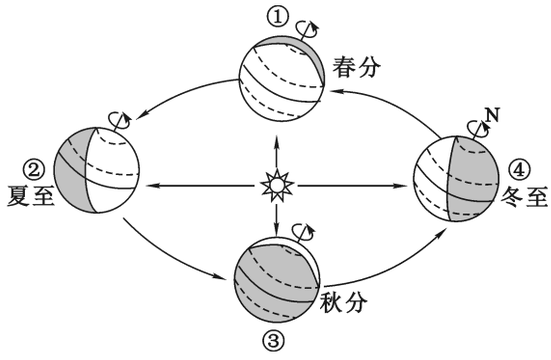

图1

图2

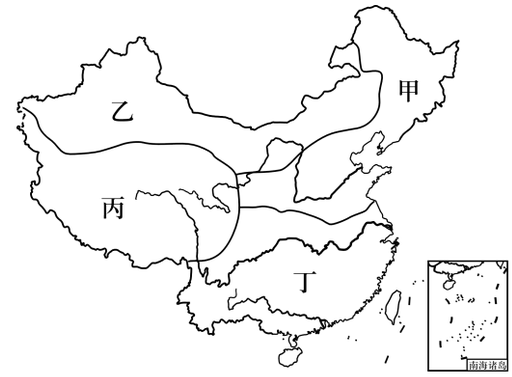

图3

1. 火种采集仪式当日，地球位于（　　）

A. ①②之间　　B. ②③之间　　C. ③④之间　　D. ①④之间

2. “独竹漂”是全国少数民族传统体育运动会项目。“独竹漂”高手脚踩一根楠竹，依靠小竹竿划动，漂行水上如履平地。甲、乙、丙、丁代表我国四大地理区域，“独竹漂”的发源地位于（　　）

A. 甲　　B. 乙　　C. 丙　　D. 丁

读郑州市2019年1月18～22日空气质量指数与天气状况统计表，完成3、4题。

时间	1月18日	1月19日	1月20日	1月21日	1月22日
空气质量指数	127	209	159	76	59
天气状况	阴转多云 1℃～10℃ 东南风1～2级	阴转多云 －4℃～6℃ 东北风1～2级	多云 －2℃～6℃ 西风2～3级	晴 0℃～8℃ 西风6级	晴 －2℃～12℃ 西风3～4级

3. 郑州市空气污染最严重的一天是（　　）

A. 1月19日　　B. 1月20日　　C. 1月21日　　D. 1月22日

4. 下列天气状况对郑州市空气质量起到明显改善作用的是（　　）

A. 　　B. 　　C. 　　D.

2019年4月7日，乙亥年黄帝故里拜祖大典在郑州新郑举行。黄帝故里位于新郑具茨山，李明一家前往观礼祈福。读具茨山局部等高线地形图，完成5、6题。

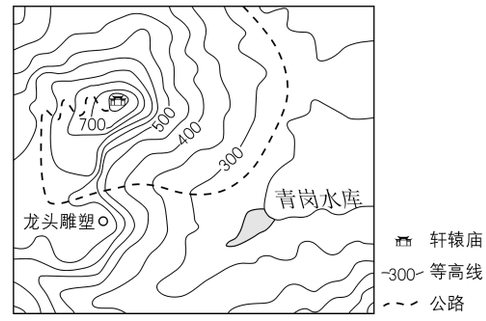

5. 关于李明对沿途景物的描述，正确的是 ( )

A. 青岗水库位于山脊上　　B. 轩辕庙东南侧山体陡峻

C. 公路沿山脊线蜿蜒而上　　D. 龙头雕塑位于山谷中

6. 轩辕庙的海拔约为 ( )

A. 730 米　　B. 750 米　　C. 780 米　　D. 820 米

K3 次列车是由北京开往莫斯科的国际列车。读 K3 次列车线路示意图，完成 7、8 题。

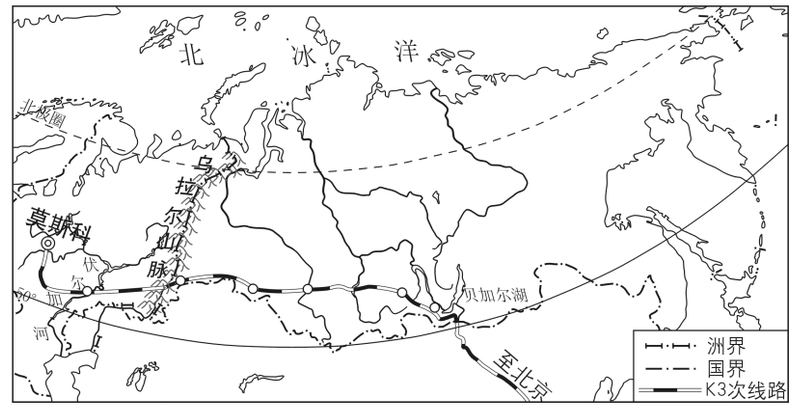

7. 乘坐 K3 次列车沿途可以看到 ( )

①世界最深的湖泊——贝加尔湖　②亚欧两大洲分界线——乌拉尔山脉　③俄罗斯的母亲河——伏尔加河　④莫斯科的居民以黄种人为主

A. ①②③　　B. ①②④　　C. ①③④　　D. ②③④

8. K3 次列车一年中有 8 个月需要供暖。供暖时间长主要是由于沿线大部分地区 ( )

A. 海拔高　　B. 距海远　　C. 纬度高　　D. 降水多

读澳大利亚和巴西示意图，完成 9、10 题。

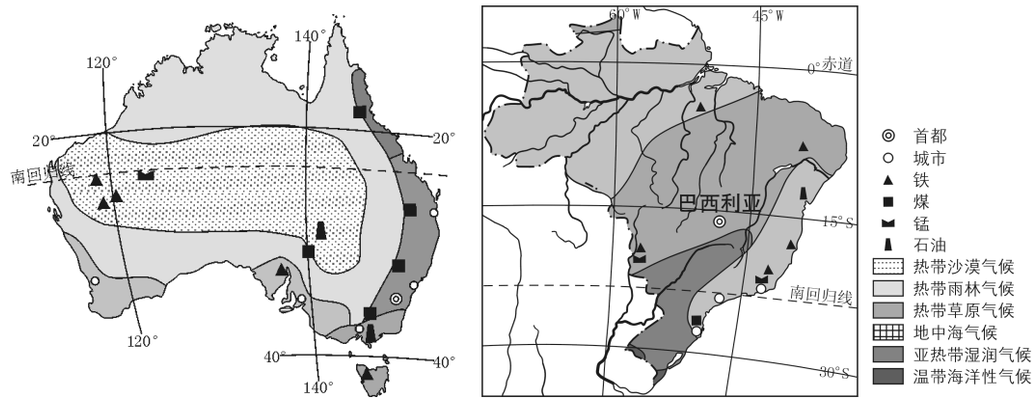

9. 关于两国共同点的叙述，正确的是 ( )

A. 位于东半球　　B. 濒临印度洋

C. 矿产资源丰富　　D. 热带沙漠气候广布

10. 两国城市多分布在东南沿海的主要原因有 （　　）

①气候适宜　②雨林茂密　③交通便利　④开发历史早

A. ①②③　　B. ①②④　　C. ①③④　　D. ②③④

2018 年 2 月 7 日，我国第五个南极科考站在难言岛奠基。读南极地区示意图，完成 11、12 题。

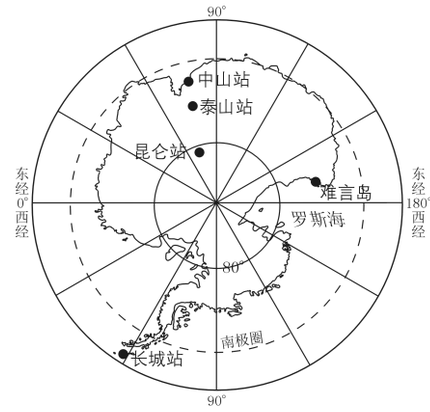

11. 科考站在难言岛奠基时，南极地区 （　　）

A. 风和日丽　　B. 正值极昼　　C. 正值极夜　　D. 狂风暴雨

12. 我国已建成的科考站中，纬度最高的是 （　　）

A. 长城站　　B. 中山站　　C. 昆仑站　　D. 泰山站

2019 年 4 月 18 日，台湾省花莲县海域发生 6.7 级地震。读台湾岛略图，完成 13、14 题。

13. 台湾岛多地震，是由于地处 （　　）

A. 板块交界处，地壳活跃

B. 板块交界处，地壳稳定

C. 板块内部，地壳活跃

D. 板块内部，地壳稳定

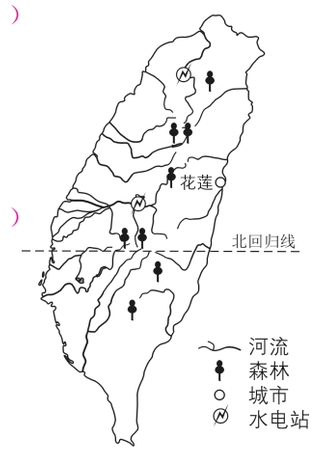

14. 关于台湾岛自然环境特征的叙述，正确的是 （　　）

A. 以热带雨林气候为主

B. 山地多分布在西部沿海

C. 河流短急，水能丰富

D. 植物繁茂，种类单一

读 2017 年我国高新技术企业分布图，完成 15、16 题。

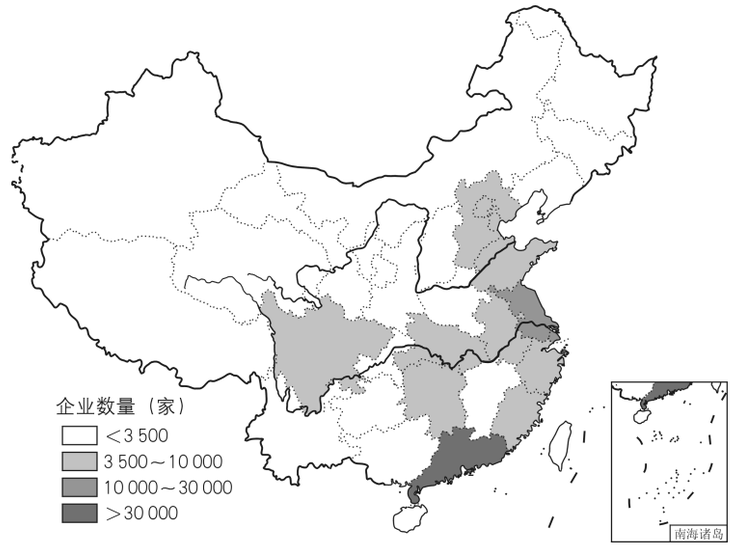

15. 我国高新技术企业数量最多的省级行政区域的简称是 ( )

A. 闽　　B. 粤　　C. 苏　　D. 浙

16. 我国高新技术企业主要分布在 ( )

A. 东北地区　　B. 西部内陆地区　　C. 中部地区　　D. 东部沿海地区

2019 年 3 月 30 日，四川省凉山州（26°N～29°N，100°E～103°E）发生森林火灾，国家积极组织救援。完成 17、18 题。

17. 如图阴影部分，表示凉山州大致位置的是 ( )

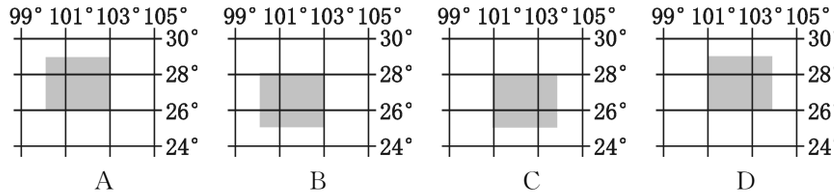

18. 为了更加直观、快捷、准确地了解森林火灾的变化情况，应查阅 ( )

A. 中国政区图　　B. 中国地形图　　C. 四川省地形图　　D. 卫星影像图

一个国家或地区 65 岁及以上老年人口占总人口的比重达到 7%，意味着这个国家或地区进入老龄化社会。读 2015—2018 年河南省 65 岁及以上老年人口统计图，完成 19、20 题。

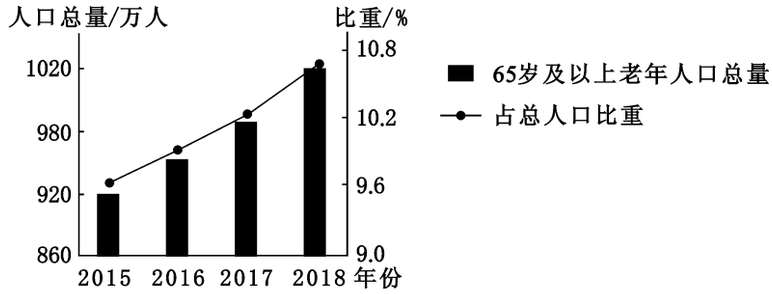

19. 关于河南省老年人口变化的叙述，正确的是 ( )

A. 老年人口总量保持不变　　B. 老年人口总量不断减少

C. 老年人口比重不断减小　　D. 人口老龄化不断加深

20. 河南省老年人口变化带来的影响是 ( )

A. 劳动力充足　　B. 养老负担加重

C. 儿童入学难　　D. 人口素质提高

二、非选择题（本大题共 4 个小题，每小题 15 分，共 60 分）

21. 2019 年 2 月，小华去泰国旅行。他查阅了泰国局部地形图（图 1）和曼谷的气温曲线与降水量柱状图（图 2），写下了旅行记录。请根据图文资料将他的记录补充完整。

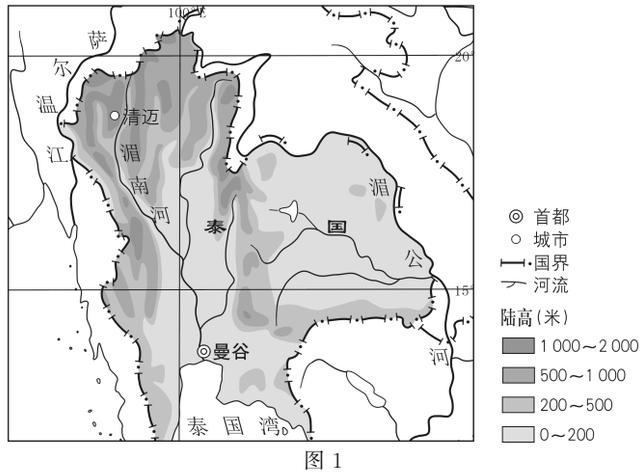

图 1

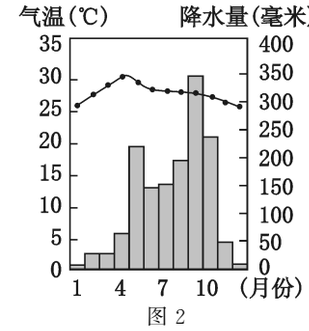

图 2

【行前准备】

（1）此次旅行，应多准备_____（填“轻薄”或“保暖”）类衣物。

【第一站：清迈】

（2）清迈是泰国著名的避暑胜地，这里海拔较_____，气候较为凉爽。

【第二站：湄南河】

（3）乘船游览湄南河，看到河流的流向是_____，这个季节河流水量较_____。

【第三站：曼谷】

（4）本想参加泼水节，到曼谷才知道泼水节在每年的4月举行。其原因是曼谷4月气温_____。

（5）前往曼谷的途中看到大片稻田，试分析这里适合水稻生长的有利的自然条件。

22. 陕西省分为陕北、关中、陕南三个地区。引汉济渭工程从陕南的汉江引水，穿越秦岭向北调入关中的渭河，有望2020年通水。下图为引汉济渭工程示意图，下表为关中、陕南两地区相关统计资料。阅读图表，回答问题。

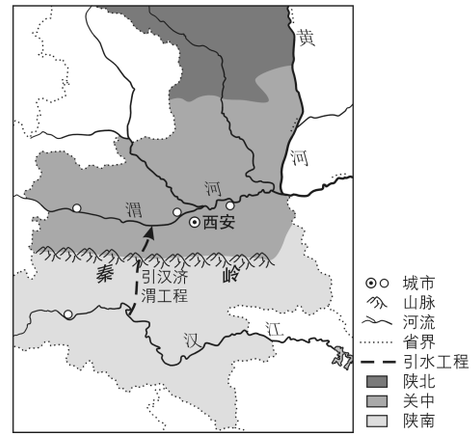

地区	人口占全省比重（%）	耕地面积占全省比重（%）	水资源占全省比重（%）
关中	63.1	53	19.4
陕南	22.1	20	71.1

（1）读图，关中地区城市分布的主要特点是_____。

（2）由表可知，_____是制约关中地区社会经济发展的瓶颈。

（3）关于引汉济渭工程的叙述，正确的是（　　）

A. 水源地位于半干旱地区　　B. 沟通了黄河流域和淮河流域

C. 穿越秦岭施工难度较大　　D. 彻底解决关中地区环境问题

（4）陕北地区所在的黄土高原的地表特征是_____，该地区突出的环境问题是_____，其主要人为原因是_____（写出两点即可）。

23. 伴随着国家“一带一路”倡议的实施，中非合作日益密切。图 1 为 2004—2013 年中国矿业企业在非洲各地区投资比例，图 2 为非洲气候类型分布图，图 3 为南部非洲局部图。读图，回答问题。



图 1

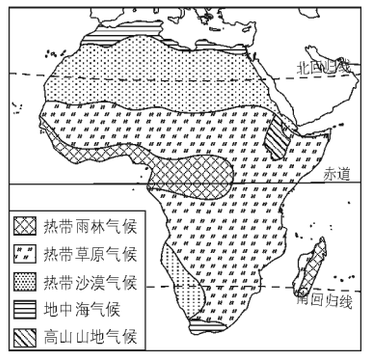

图 2

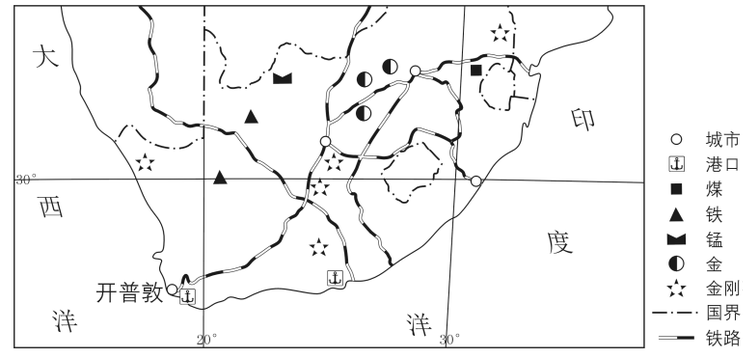

图 3

(1) 根据经济发展水平，非洲国家属于_____。中国企业在非洲许多国家投资建厂，这种国家之间的互助合作称为_____。

(2) 阅读图 1、图 2，我国矿业企业在_____地区投资比例最少，其主要自然原因是_____。

(3) 阅读图 3，简述该区域吸引我国矿业企业投资的有利条件。(写出两点即可)

24. 2018 年 4 月，习近平总书记视察长江时强调，“共抓大保护，不搞大开发”，把修复长江生态环境摆在压倒性位置。阅读图文材料，回答问题。

【赞长江】

材料一 啊，长江！你用甘甜的乳汁，哺育各族儿女；你用健美的臂膀，挽起高山大海。下图为长江流域示意图。

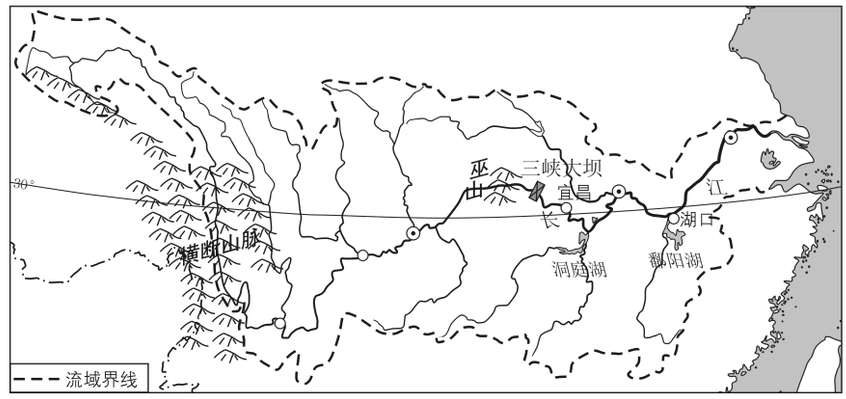

(1) 请从下面两个小题中任选其一作答。

①说出长江为中下游地区农业生产提供的有利条件。(写出两点即可)

②说出长江中下游适合发展航运的有利自然条件。(写出两点即可)

【忧长江】

材料二 下图为2004—2016年长江上、中、下游各区域废水排放量统计图。

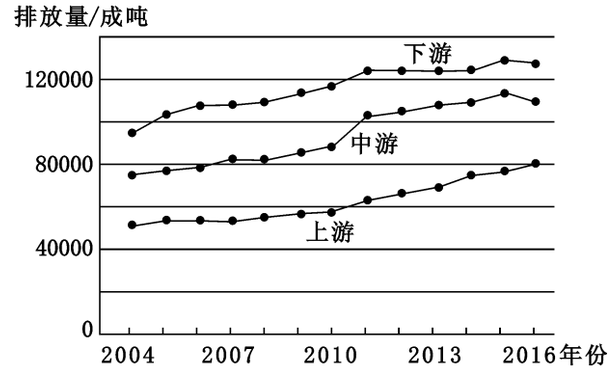

（2）2004—2016年，长江上、中、下游各区域废水排放量整体呈现_____趋势，其中_____游的废水排放量最大。

（3）长江中下游地区夏季主要的气象灾害是_____和干旱。

【爱长江】

（4）列举长江三峡工程的主要作用。（写出两点即可）

（5）请你写出一条改善长江生态环境的有效措施，并简述其主要作用。